I.E. LUIS FELIPE SUBAUSTE DEL RIO - 21009

Nombre _____ **Fecha** _____

El doble y el triple

Para calcular el doble de una cantidad, multiplicamos por 2.

Hay 6 helados

6 x 2 = 12

Ahora hay el doble, 12

Para calcular el triple de una cantidad, multiplicamos por 3.

Hay 9 flores

9 x 3 = 27

Ahora hay el triple, 27

1. Une con líneas el doble de cada número.

5	20
8	30
10	10
20	50
15	16
25	40

2. Une con líneas el triple de cada número.

5	30
8	45
10	15
20	75
15	24
25	60

Profesor: Kevin

LIVEWORKSHEETS

DOBLE Y TRIPLE

DOBLE: **es tener dos veces la misma cantidad. Se calcula multiplicando por 2.**

3

Si tienes el doble ⇨

El doble de 3 es ⇨ **2 x 3= 6**

TRIPLE: **es tener tres veces la misma cantidad. Se calcula multiplicando por 3.**



4

Si tienes el triple ⇨



El triple de 4 es ⇨ **3 x 4=12**

- **Calcula el doble y el triple de los siguientes números:**

	Doble	Triple
	x 2	x 3
6		
8		
10		
2		

	Doble	Triple
	x 2	x 3
5		
7		
9		
3		

LIVEWORKSHEETS
LIVEWORKSHEETS

DOBLE Y TRIPLE

Señala el doble y el triple de los siguientes dibujos

	Doble		Triple	
	3 ☐	4 ☐	3 ☐	9 ☐
	6 ☐	8 ☐	6 ☐	12 ☐
	16 ☐	20 ☐	21 ☐	18 ☐
	14 ☐	18 ☐	24 ☐	27 ☐
	20 ☐	22 ☐	30 ☐	34 ☐
	24 ☐	26 ☐	36 ☐	33 ☐
	52 ☐	56 ☐	85 ☐	81 ☐
	58 ☐	54 ☐	75 ☐	78 ☐
	52 ☐	50 ☐	78 ☐	81 ☐
	48 ☐	54 ☐	75 ☐	72 ☐
	36 ☐	34 ☐	57 ☐	51 ☐
	32 ☐	38 ☐	60 ☐	54 ☐

LIVEWORKSHEETS

	Doble		Triple	
	52 ☐	54 ☐	75 ☐	81 ☐
	50 ☐	56 ☐	78 ☐	72 ☐
	44 ☐	48 ☐	72 ☐	66 ☐
	46 ☐	50 ☐	63 ☐	69 ☐
	220 ☐	200 ☐	300 ☐	320 ☐
	230 ☐	240 ☐	340 ☐	360 ☐
	420 ☐	440 ☐	600 ☐	660 ☐
	400 ☐	410 ☐	620 ☐	640 ☐
	1.000 ☐	1.150 ☐	1.500 ☐	1.550 ☐
	1.050 ☐	1.100 ☐	1.505 ☐	1.515 ☐
	150 ☐	170 ☐	255 ☐	285 ☐
	180 ☐	160 ☐	265 ☐	275 ☐

LIVEWORKSHEETS

Problemas muy rápidos

Aarón tiene 5 caramelos y Mar el doble. ¿Cuántos caramelos tiene Mar?

Mar tiene ☐ caramelos.

Giulia tiene 8 cuerdas y Luís el triple. ¿Cuántas cuerdas tiene Luís?

Luís tiene ☐ cuerdas.

Iván respondió 4 preguntas e Irune el doble.

Irune resolvió ☐ preguntas.

Julia consiguió 8 puntos y Javier el triple.

Javier consiguió ☐ puntos.

Alicia tiene 3 cuentos e Irene tiene el triple que Alicia.

Irene tiene ☐ cuentos.

Daniel tiene el doble de canicas que Vera. Daniel tiene 18 canicas.

Vera tiene ☐ canicas.

Áxel tiene el triple de cromos que Delia. Áxel tiene 18 cromos.

Delia tiene ☐ cromos.

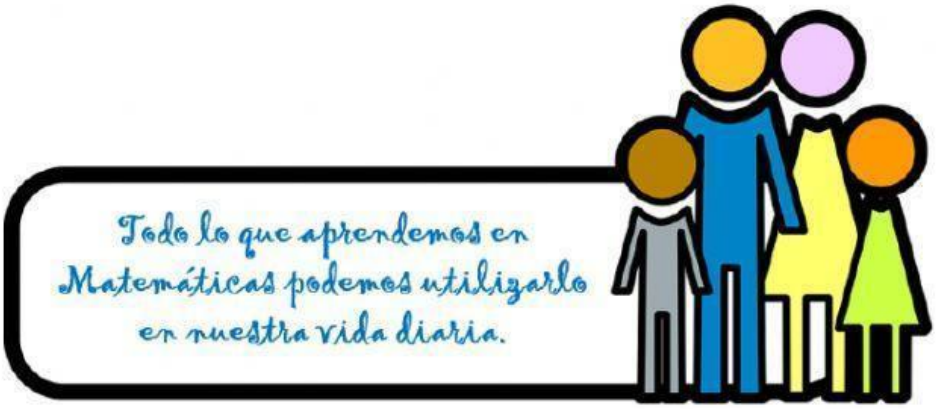

LIVEWORKSHEETS
LIVEWORKSHEETS