ASESMEN SUMATIF AKHIR TAHUN

Matematika

TEMA/ SEM : 8/2

KELAS : 3

SDN 212 HARAPAN

LIVEWORKSHEETS

PEMERINTAH KOTA BANDUNG
DINAS PENDIDIKAN
SEKOLAH DASAR NEGERI 212 HARAPAN
NSS:101026001021 NPSN:20245941
Email : sdn212harapan@gmail.com
Jl. Pak Gatot VI KPAD Kel. Gegerkalong Kec. Sukasari Bandung Telp. (022) 2004661 Bandung 40152

ASESMEN SUMATIF AKHIR TAHUN (ASAT)
TAHUN PELAJARAN 2023 -2024
TEMA 8

Nama : .....
Hari /Tanggal : ……
Kelas : .....
Mata Pelajaran : **Matematika**

I. Berikan tanda silang (x) pada jawaban yang benar !

1.Nama yang sesuai dengan sudut di atas adalah ….

a. Sudut siku-siku
b. Sudut lurus
c. Sudut tumpul
d. Sudut lancip

2. Bangun datar memiliki 4 sisi. Kedua sisi yang berhadapan samapanjang. Memiliki 4 titik sudut. Semua sudut yang dimiliki merupakan sudut siku-siku. Gambar seperti petunjuk berikut yang benar adalah ….

a.

LIVEWORKSHEETS

b. 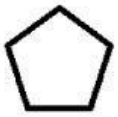

c. 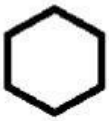

d. 

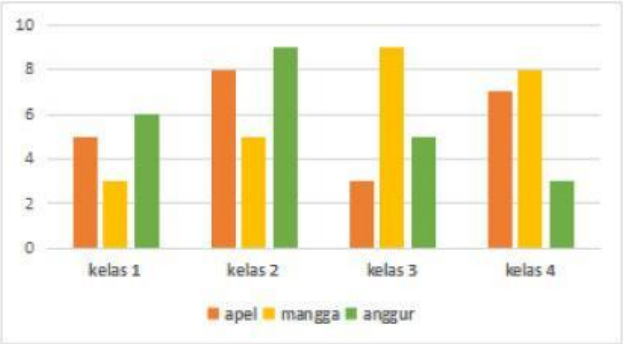

3. Pernyataan yang sesuai dengan tabel diatas adalah, *kecuali* ….

a. Ada 8 anak di kelas 4 yang menyukai mangga

b. Ada 9 anak di kelas 2 yang menyukai apel

c. Ada 3 anak di kelas 3 yang menyukai apel

d. Ada 6 anak di kelas 1 yang menyukai anggur

LIVEWORKSHEETS

4. Pernyataan yang sesuai dengan tabel diatas adalah ….

   a. Banyak rumah yang ada di jalan lili 60 rumah
   b. Banyak rumah yang ada di jalan kamboja 50 rumah
   c. Banyak rumah yang ada di jalan melati 15 rumah
   d. Banyak rumah yang ada di jalan anggrek 30 rumah

5. Perhatikan tabel di bawah!

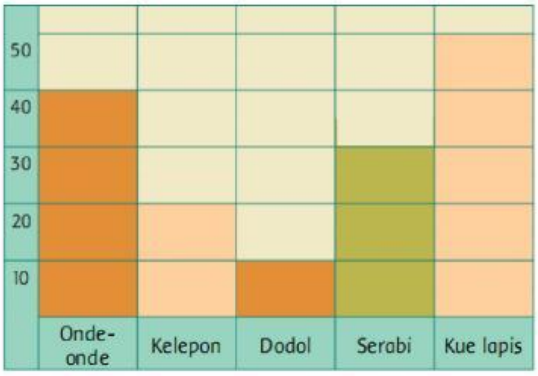

Jumlah siswa dalam satu sekolah _____ siswa

Jumlah anak yang suka onde-onde _____ siswa

Jumlah anak yang suka kelepon _____ siswa

Jumlah siswa yang suka dodol _____ siswa

Jumlah siswa yang suka serabi _____ siswa

Jumlah siswa yang suka kue lapis _____ siswa

Makanan yang paling banyak diminati _____ = _____anak

LIVEWORKSHEETS

6. Perhatikan tabel data hasi panen berikut,kemudian kerjakan soal no satu

Tabel Hasil Panen

No	Hasil Panen	Jumlah (kg)
1	Kacang	25
2	Jagung	35
3	Padi	45
4	Kedelai	55
5	Kentang	15

Jumlah panen padi adalah _____

LIVEWORKSHEETS