TOÁN TƯ DUY HÀNG TUẦN LỚP 2

Bài	Nội dung
1	Tìm hình tiếp theo phù hợp với quy luật sau đây: 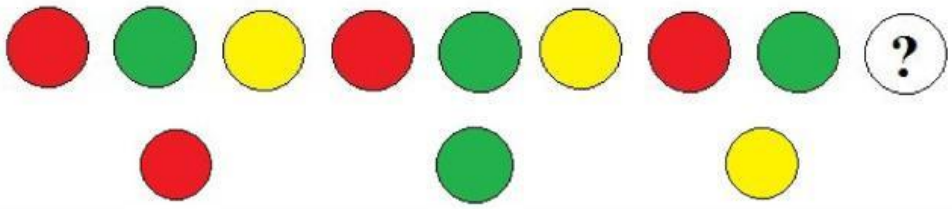
2	Tìm số tiếp theo phù hợp với quy luật: 1, 2, 3, 4, 1, 2, 3, 4, 1, 2, 3, 4, ..., ..., 3, ...,
3	Tìm 2 hình tiếp theo phù hợp với quy luật: 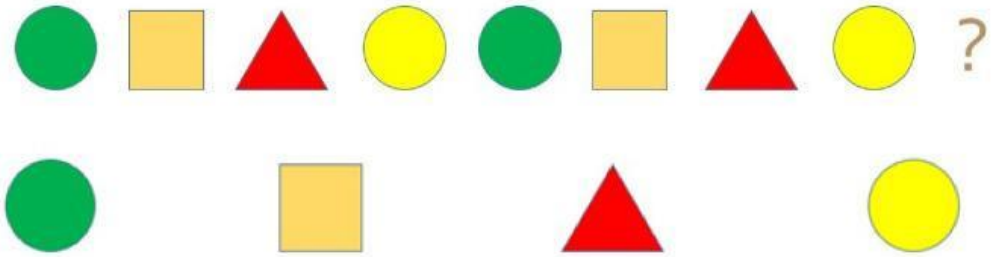
4	Tìm 5 số tiếp theo phù hợp với quy luật: 1; 1; 2; 1; 2; 3; 1; 2; 3; 4; ....., ..., ..., ..., ...,
5	Tìm số ở ô ..... sao cho tổng 3 số ở 3 ô liền nhau bằng 15 3 | | 7 | | | | | .... | |
6	Tìm 2 số tiếp theo của dãy số sau đây: 1; 4; 7; 10; 13; .....; .....
7	Tìm 2 số tiếp theo của dãy số sau đây: 2; 9; 16; 23; 30; .....; .....
8	Tìm số tiếp theo của dãy số sau đây: 1; 2; 4; 7; 11; ....
9	Tìm số tiếp theo của dãy số sau đây: 1; 3; 7; 13; 21; .....

LIVEWORKSHEETS

10	Tìm số tiếp theo của dãy số sau đây: 1; 4; 9; 16; 25; ....
11	Hình tiếp theo có: ..... hình
12	Hình tiếp theo có: ..... hình 
13	Hình tiếp theo có: ..... hình và ..... hình 
14	Hình tiếp theo có: ..... hình 

LIVEWORKSHEETS

15	Hình tiếp theo có: ..... hình và ..... hình 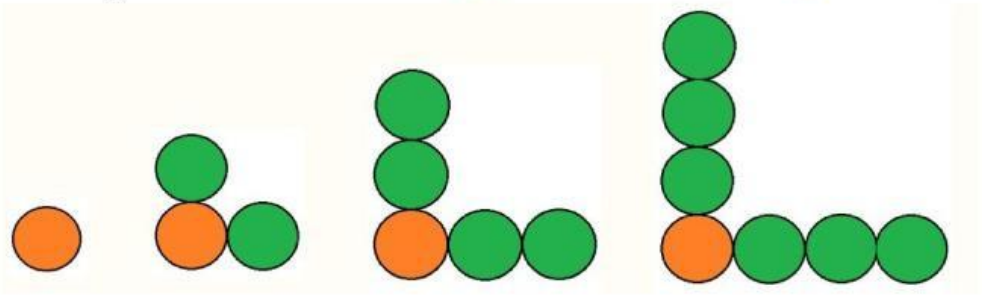
16	Viết tiếp các số vào ô trống: 0; 2; 4; 6; .....; .....; .....; 14; .....; .....; 20.
17	Xếp các số 35; 71; 42; 89; 65; 95 theo thứ tự tăng dần: 42 71 65 95 35 89 ☐ ☐ ☐ ☐ ☐ ☐
18	Từ 9 đến 55 có bao nhiêu số có 2 chữ số mà chữ số hàng chục lớn hơn chữ số hàng đơn vị? .....
19	Nối với kết quả đúng: Số các số có hai chữ số lớn hơn 8 và bé hơn 28 là: 10 Số các số có 2 chữ số mà chữ số hàng chục là 8 là: 18 Số các số có 2 chữ số mà chữ số hàng đơn vị là 8 là: 8 Số các số tròn chục bé hơn 88 là: 9
20	Bạn Bình ghép 2 trong 6 miếng bìa ghi các chữ số 3, 4, 5, 6, 7, 0 và dấu (?) là miếng bìa ghi số nào để có so sánh sau: $34 < ?5 < 70$ Trả lời: .....
21	Ghép 2 trong 3 tấm bìa ghi các chữ số 5, 4, 3 ta được những số nào? Sắp xếp các số ghép được theo thứ tự từ nhỏ đến lớn. .....
22	Ghép 2 trong 3 miếng bìa ghi các chữ số 8, 0, 7 ta được mấy số có 2 chữ số? .....

LIVEWORKSHEETS

23	Hai miếng bìa có ghi các số ở hai mặt của mỗi miếng bìa như sau: 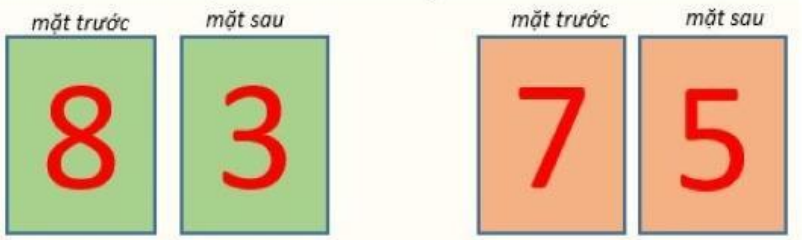 Ghép từng mặt của hai miếng bìa đó với nhau ta được nhiều nhất bao nhiêu số có 2 chữ số? .....
24	Hai miếng bìa có ghi các số ở hai mặt của mỗi miếng bìa như sau: 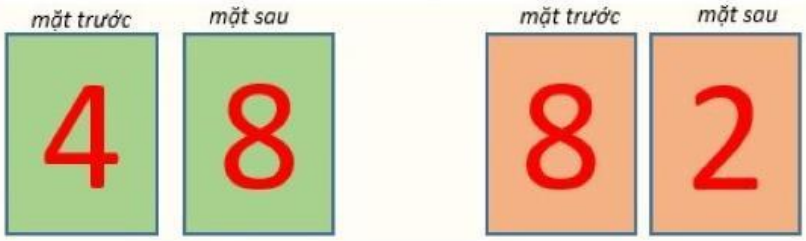 Ghép từng mặt của hai miếng bìa đó với nhau ta được nhiều nhất bao nhiêu số có 2 chữ số mà mỗi số đó không có hai chữ số nào giống nhau? .....
25	Có 2 miếng bìa, bìa thứ nhất mặt trước tô màu đỏ, mặt sau tô màu vàng. Bìa thứ hai mặt trước tô màu xanh, mặt sau tô màu nâu. Bạn An ghép từng mặt của 2 miếng bìa đó để được một hình gồm 2 màu xếp theo thứ tự khác nhau. Chẳng hạn: đỏ, xanh hoặc xanh, đỏ (hai cách xếp khác nhau). Hỏi có thể ghép được nhiều nhất bao nhiêu hình gồm 2 màu như thế? ..... 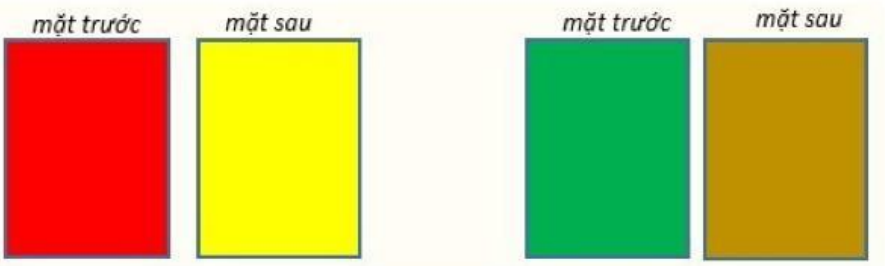

LIVEWORKSHEETS