PROVA D'UNITATS DE MESURA: CAPACITAT, MASSA I LONGITUD

1. Escull quina unitat triaries en cada cas:

2. Completa les longituds de manera que sempre tinguem un metre:

RECORDA!

1 M = 100 CM

50 cm + _____ cm = 1 m

80 cm + _____ cm = 1 m

24 cm + _____ cm = 1 m

36 cm + _____ cm = 1 m

LIVEWORKSHEETS

3. Observa el regle i digues quant mesura cada objecte:

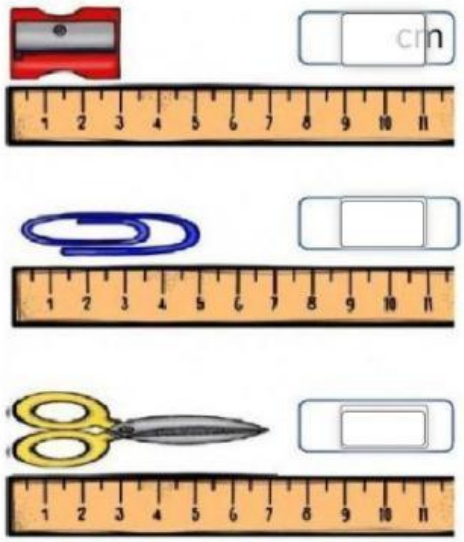



4. Classifica segons la unitat de mesura en què s'expressa el pes d'aquests elements

Una bossa de pipes | Una cadira | Un paquet de xinxetes | Una taronja | Una taula | Un llibre | Una motxilla plena | Una vaca | Una caixa de patates | Un paquet de cafè

grams	quilograms

LIVEWORKSHEETS

5. Quant pesa?

6. Completa cada equivalència:

7 kg =	g	2000 g =	Kg
9 kg =	g	6000 g =	Kg
2 kg =	g	1000 g =	Kg

LIVEWORKSHEETS

Recorda:

Mesures de capacitat

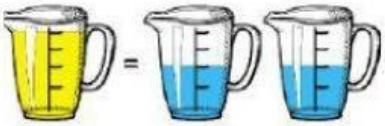

1 litre = 2 mitjos litres

1 litre = 4 quarts de litre

7. Calcula quants litres hi ha en total i tria:

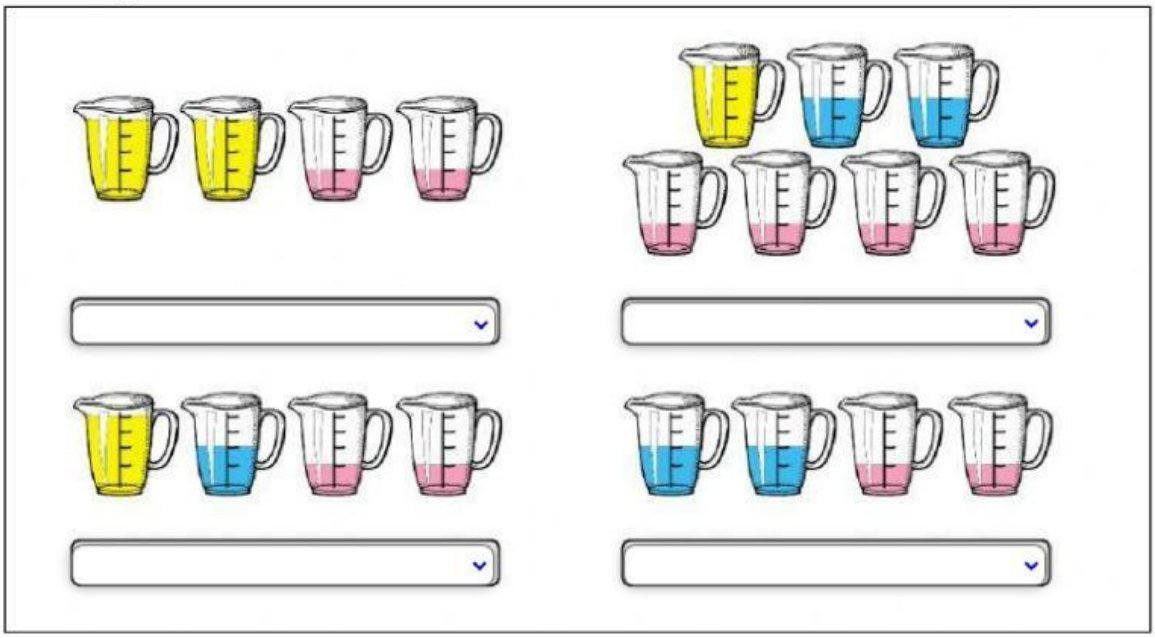

8. Tria la resposta correcta:

-¿Cuántos cuartos de litros son medio litro? 1 2 4

-¿Cuántos medios litros son 3 litros? 3 4 6

LIVEWORKSHEETS