أنواع الخلايا

ضعي كل نوع من الخلايا في مكانه المناسب

الرقم	اسم الخلية	الرسم
١	.....	
٢	.....	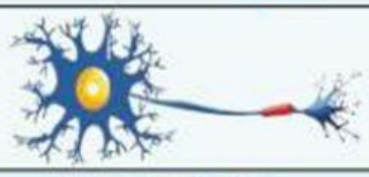
٣	.....	
٤	.....	
٥	.....	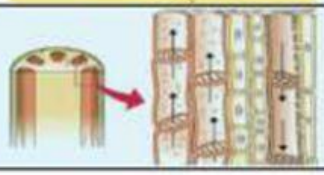

خلية لحاء

خلية عصبية

خلية عضلية

خلية جذر

خلية خشب

LIVEWORKSHEETS