Nama :Sonia wulandari

Nim :213020212101

Mata kuliah :ITC

Tugas UAS membuat soal

- Perhatikan video berikut ini!

- Perhatikan presentasi di bawah ini

SOAL ESSAY

1. Apa yang dimaksud dengan bangun ruang?

2. Apa yang dimaksud dengan bangun datar?

3. Apa perbedaan dari bangun ruang dan bangun datar?

4. Apa saja bentuk dari bangun datar dan bangun ruang?

SOAL PILIHAN GANDA

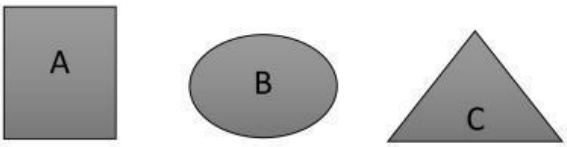

LIVEWORKSHEETS

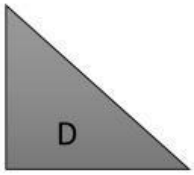

1. gambar A adalah menunjukkan bangun ….
   ( ) a. segitiga ( ) b. segilima ( ) c. segilima
2. gambar B adalah menunjukkan bangun ….
   ( ) a. lingkaran ( ) b. segiempat ( ) c. segitiga
3. gambar C adalah menunjukkan bangun ….
   ( ) a. segitiga ( ) b. segiempat ( ) c. lingkaran
4. bangun segitiga ditunjukkan gambar ….
   ( ) a. A dan B ( ) b. C dan D ( ) c. A dan E

SOAL MENCARI KATA

Temukan nama-nama bentuk bangun ruang pada teka teki di bawah ini!

1. Temukan huruf segitiga pada table di bawah ini!

S	E	G	I	T	I	G	A
B	H	L	M	T	B	O	I
A	W	I	X	U	R	G	Q
L	D	F	S	Z	E	L	E
G	R	V	T	S	J	U	N
K	A	H	R	M	K	A	U
C	Y	E	L	B	O	J	N
F	P	Q	A	B	G	K	U

2. Temukan huruf balok pada table di bawah ini!

E	L	I	U	B
B	A	L	O	K
F	T	Y	A	N
O	D	C	R	B
B	J	A	X	V

LIVEWORKSHEETS

3. Temukan huruf segiempat pada table berikut!

O	V	S	N	J	R
K	A	E	M	F	Y
I	W	G	B	E	H
H	S	I	V	R	Q
R	L	E	C	G	D
T	U	M	E	J	A
Y	I	P	A	E	F
U	C	A	U	I	J
O	A	T	I	Y	P

4. Temukan huruf balok pada table berikut!

H	G	I	S	U
J	I	K	A	T
D	H	W	U	A
B	U	L	A	T

SOAL MENGHITUNG

1. Hutinglah ada berapa jumlah segitiga di bawah ini?

( ) 1 ( ) 2 ( ) 3

2. Hitunglah ada berapa jumlah gambar balok di bawah ini !



LIVEWORKSHEETS

( ) 6 ( ) 5 ( ) 2

3. hitunglah ada berapa jumlah gambar bulat di bawah ini?

( ) 2 ( ) 1 ( ) 4

4. hitunglah ada berapa jumlah gambar tabung pada gambar di bawah ini?

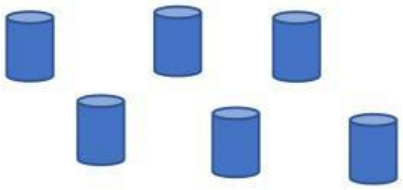

( ) 6 ( ) 2 ( ) 3

SOAL SPEAK

1. Sebutkan betuk berikut ini dengan tepat!

2. Sebutkan bentuk berikut dengan tepat!

3. Sebutkan bentuk berikut ini dengan tepat!

4. Sebutkan bentuk berikut ini dengan tepat!

LIVEWORKSHEETS