لكل فقرة مما يلي ٤ إجابات، واحدة منها فقط صحيحة، اختاري الإجابة الصحيحة:

الوحدة المناسبة لقياس طول مدرج المطار=.....:

أ	كلم	ب	م	ج	سم	د	ملم

محيط الشكل المجاور =.....:

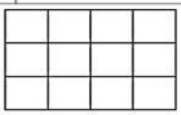

أ	١٦ وحدة	ب	١٤ وحدة	ج	٨ وحدات	د	٢٠ وحدة

التقدير الأنسب لسعة علبة لبن =.....:

أ	٥٠ ل	ب	١ مل	ج	١ ل	د	٣٠ مل

التقدير الأنسب لمساحة الشكل المجاور =.....:

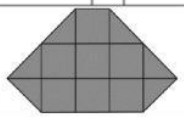

أ	٧ وحدات مربعة	ب	٣ وحدات مربعة	ج	٨ وحدات مربعة	د	١٠ وحدات مربعة

التقدير الأنسب لكتلة حبة **بطيخ** =.....:

أ	٢ كجم	ب	٢ جم	ج	٢٠٠ كجم	د	٢٠ كجم

طول الفترة الزمنية من الساعة ٥:٠٠ مساءً وحتى الساعة ٧:٠٥ مساءً =.....:

أ	ساعة واحدة	ب	ساعة و١٥ دقيقة	ج	ساعة و٣٠ دقيقة	د	ساعتان

الكسر الذي يمثل الجزء غير المظلل في الشكل المجاور =.....:

أ	$\frac{٣}{٦}$	ب	$\frac{٤}{٦}$	ج	$\frac{٥}{٦}$	د	$\frac{١}{٦}$

الكسر الذي يمثل النقطة د على خط الأعداد المجاور =.....:

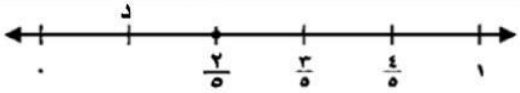

أ	$\frac{٤}{٥}$	ب	$\frac{٢}{٥}$	ج	$\frac{٣}{٥}$	د	$\frac{١}{٥}$

الكسر المكافئ للكسر $\frac{٢}{٣}$ = ...:

أ	$\frac{٤}{٦}$	ب	$\frac{٣}{٦}$	ج	$\frac{٤}{١٦}$	د	$\frac{٢}{٥}$

ناتج جمع $\frac{٢}{٦} + \frac{١}{٦}$ =.....:

أ	$\frac{٥}{١٢}$	ب	$\frac{٣}{٦}$	ج	$\frac{١}{٦}$	د	$\frac{٤}{٦}$

كان مع نوره ١٠ بطاقات ملونة، أعطت أختها ٥ منها الكسر الذي يمثل ما تبقى معها من البطاقات =.....:

أ	$\frac{١}{١٠}$	ب	$\frac{٣}{١٠}$	ج	$\frac{٥}{١٠}$	د	$\frac{٧}{١٠}$

الكسر العشري للكسر الاعتيادي $\frac{٩٠}{١٠٠}$ =.....:

أ	٠,٠٩	ب	٠,٠٠٩	ج	٩	د	٠,٩٠

الكسر الاعتيادي للكسر العشري ٠,٢ =.....:

أ	$\frac{١}{٥}$	ب	$\frac{٤}{١٠٠}$	ج	$\frac{٤}{١٠}$	د	٤

أكلت وفاء ثمانية أعشار رغيف الخبز. الكسر العشري الذي يمثل ما أكلته وفاء =.....:

أ	٠,٠٨	ب	٠,٨	ج	٠,٠٠٨	د	٨

الكسر العشري للكسر الاعتيادي $\frac{٥٥}{١٠٠}$ =.....:

أ	٠,٦٥	ب	٥٦	ج	٠,٥٥	د	٥,٦

LIVEWORKSHEETS

الكسر الاعتيادي للكسر العشري ٠,٤ =.....:

أ	٥	ب	$\frac{٥}{١٠}$	ج	$\frac{١}{٥}$	د	$\frac{٢}{٥}$

الكسر العشري الذي يمثل النقطة ن على خط الأعداد =.....:

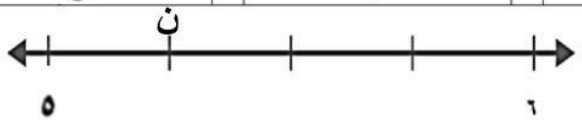

أ	٥,٢٥	ب	٥,٥	ج	٥,٧٥	د	٥

يوفر استعمال مرشد دش الاستحمام ٧,٩ لترًا من المياه في الدقيقة، كمية التوفير على صورة عدد كسري =.....:

أ	٧ $\frac{٨}{١٠٠}$	ب	٧ $\frac{٩}{١٠}$	ج	٧٨	د	٧ $\frac{١}{٨}$

الكسر العشري للعدد الكسري ٣ $\frac{٧}{١٠٠}$ =.....:

أ	٧,٣	ب	٣,٧	ج	٣,٠٧	د	٣,٠٠٧

الكسر العشري للكسر الاعتيادي $\frac{٣}{٥}$ =.....:

أ	٠,٤٣	ب	٠,٥	ج	٠,٢٥	د	٠,٦

تقريب العدد ٦٣,٩ إلى أقرب عدد صحيح =.....:

أ	٦٤	ب	٦٣	ج	٦٠	د	٦٥

تقريب العدد ٢٦,١٢ إلى أقرب عُشر =.....:

أ	٢٧,١	ب	٢٦,١	ج	٢٦,٢	د	٢٦

اشترت حصة برتقالًا ثمنه ٢٤,٢ ريالًا. ثمن البرتقال تقريبًا =.....:

أ	٢١ ريال تقريبًا	ب	٢٣ ريال تقريبًا	ج	٢٤ ريال تقريبًا	د	٢٠ ريال تقريبًا

العدد في الفراغ: ٧,٨ + □ ,٨ = ١٦,٦

أ	٣	ب	١	ج	٩	د	٨

الكسر الأقرب إلى ٩ =.....:

أ	٩,٤	ب	٤,١٠	ج	١٠,٩	د	١,٩

الكسر العشري الذي يمثل الجزء المظلل=.....:

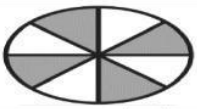

أ	٠,٢٥	ب	٠,٥	ج	٠,٧٥	د	٠,٦

تقدير ناتج: ٦,٩ − ٢,٤٨.....:

أ	٢	ب	٣	ج	٥	د	٤

فتحت سمية ٦ علب صلصال. إذا كان في كل علبة ٢ قطع من الصلصال الرمادي، ونصف هذا العدد من قطع الصلصال الأحمر، فإن عدد قطع الصلصال الأحمر والرمادي في العلب الستة =.....:

أ	١٣قطعة	ب	٣٢ قطعة	ج	١٦ قطعة	د	١٨ قطعة

تقدير ناتج: ٤,٩٧ + ٨,٤.....:

أ	١٣	ب	١٢	ج	٣	د	٦

قسم عدد ما على ٨ ،ثم طرح من الناتج ٢، ثم ضرب الناتج في ٥ ،فكانت النتيجة ١٠ فما العدد=.....:

أ	٤	ب	٣٢	ج	٦	د	٢٨

LIVEWORKSHEETS

الكسر غير الفعلي للعدد الكسري $٢\frac{٣}{٤}$ =.....:							
أ	$\frac{٢٣}{٤}$	ب	$\frac{١٧}{٤}$	ج	$\frac{١١}{٤}$	د	$\frac{١٢}{٤}$
العدد الكسري للكسر غير الفعلي $\frac{٧}{٤}$ =.....:							
أ	$١\frac{١}{٤}$	ب	١	ج	$١\frac{٢}{٤}$	د	$١\frac{٣}{٤}$
حجم المجسم=.....: 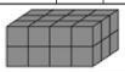							
أ	٢٤ وحدات مكعبة	ب	١٦ وحدات مكعبة	ج	١٢ وحدات مكعبة	د	٢٠ وحدات مكعبة

أوجدي ما يلي:

أ) قارني باستعمال (<، >، =):

$٤\frac{١}{١٠}$ ◯ ٤,١ ١٢,٥ ◯ $١٢\frac{٢}{٥}$ ٤٦,٢ ◯ $٤٦\frac{١}{٤}$

ب) رتبي الأعداد من الأكبر إلى الأصغر:

٥,٧١ ، $٥\frac{٦٧}{١٠٠}$ ، $٤\frac{٥}{١٠}$ ، ٤,٧٥

..... ، ..... ، ..... ، .....

ج) أوجدي الناتج:

١)
$$\begin{array}{r} ١٢,٣٣ \\ +\ ٥,٧٩ \\ \hline \end{array}$$

٢)
$$\begin{array}{r} ١,٦٧ \\ -\ ٠,٥٨ \\ \hline \end{array}$$

LIVEWORKSHEETS