LKPD
PENYAJIAN DATA

Kerjakan soal dibawah ini !

1. Cara yang paling tepat untuk mengumpulkan data tentang tinggi badan siswa dikelasmu adalah ....
   A. observasi
   B. angket
   C. kuisioner
   D. dokumen

2. Cara yang paling tepat untuk mengumpulkan data tentang acara televisi paling disukai di tetanggamu adalah ....
   A. observasi
   B. angket
   C. kuisioner
   D. dokumen

3. Pilihlah nama yang sesuai dengan gambar diagram dibawah ini!

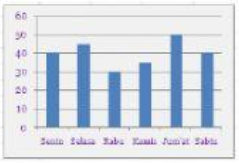

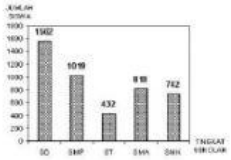

LIVEWORKSHEETS

4. Buatlah garis kejawaban yang benar!

Penyajian data yang paling tepat untuk menggambarkan keadaan nilai tukar rupiah terhadap dolar AS dalam kurun waktu sepekan adalah ….	Diagram Batang
Penyajian data yang paling tepat untuk menggambarkan nilai UAS pelajaran matematika di kelas 7A adalah ….	Diagram Garis
Penyajian data yang paling tepat untuk menggambarkan prosentase jenis pekerjaan orang tua siswa kelas 7 adalah ….	Diagram Lingkaran

5. Tariklah jawaban yang sesuai dengan soal berikut1

Soal	Jawaban	Pilihan Jawaban
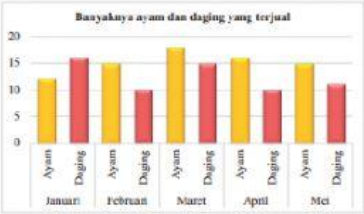 Penjualan ayam tertinggi terjadi pada bulan		**April**
Kenaikan penjualan daging tertinggi terjadi pada bulan ….		**Februari - Maret**
Perbedaan tertinggi penjualan ayam dan daging terjadi pada bulan ….		**Maret**

LIVEWORKSHEETS