اكتبْ كلًّا من الكسرِ الاعتياديِّ والكسرِ العشريِّ اللذينِ يعبرانِ عن الجزءِ المظلَّلِ في كلٍّ مما يأتي: (الدرسان ١١-١، ١١-٢)

١

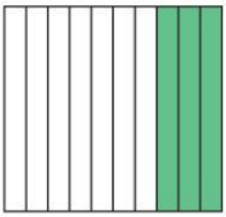

٢

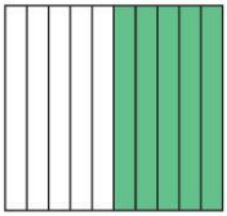

$\frac{٢٤}{١٠٠} = ٠,٢٤$

$\frac{٥}{١٠} = ٠,٥$

٣



٤



$\frac{٩٩}{١٠٠} = ٠,٩٩$

$\frac{٣}{١٠} = ٠,٣$

٥ **اختيارٌ من مُتعَدِّدٍ:** أيُّ الكسورِ العشريةِ الآتيةِ يساوي $\frac{٤}{١٠}$ ؟ (الدرس ١١-١)

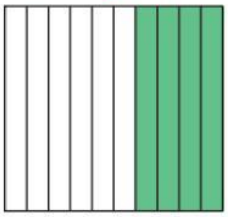

أ) ١٠,٤ جـ) ٠,٤

ب) ٥,٤ د) ٠,٠٤

اكتبِ الكسرَ الاعتياديَّ أو العددَ الكسريَّ على صورةِ كسرٍ عشريٍّ، والعكس. (الدرسان ١١-٢، ١١-٣)

٦ $\frac{٣٧}{١٠٠}$

٧ $\frac{١٠}{١٠٠}$

٨ $١٠\frac{٣}{١٠٠}$

٩ ٠,٩٤

١٠ ٠,٤٣

١١ ٢,٠٧

$٠,١٠$

$\frac{٩٤}{١٠٠}$

$٠,٣٧$

$٢\frac{٧}{١٠٠}$

$١٠,٠٣$

$\frac{٤٣}{١٠٠}$

LIVEWORKSHEETS

١٢ **اختيارٌ مِن مُتعَدِّد:** ظلَّلَتْ فاطمةُ $\frac{٤}{١٠٠}$ من شكلٍ. أيُّ الكسورِ العشريةِ التاليةِ تساوي الجزءَ المظلَّلَ؟
(الدرس ١١-٢)

أ) ٠,٤ جـ) ٠,٤٠

ب) ٠,٠٤ د) ٤,٠٠

اِسْتَعْمِلْ خطةَ إنشاءِ نموذجٍ لحلِّ المسألةِ التاليةِ: (الدرس ١١-٤)

١٣ في شركةٍ تجاريةٍ ٣٦ مكتبًا، يصلُ إلى $\frac{١}{٤}$ المكاتب مجلة يوميًّا، والباقي يصلُه مجلتان يوميًّا. كم مجلة تصلُ إلى الشركةِ يوميًّا؟

١٤ **القياسُ:** يبلغُ طولُ حبلٍ ثمانيةَ أمتارٍ وثلاثةً وعشرينَ جزءًا من المترِ. اكتبْ طولَ الحبلِ على صورةِ عددٍ كسريٍّ وكسرٍ عشريٍّ. (الدرس ١١-٣)

$٨\frac{٢٣}{١٠٠} = ٨,٢٣$

$٢٣\frac{٨}{١٠} = ٢٣,٨$

١٥ **أُكْتُبْ** كيفَ يمثِّلُ العدادنِ $٢\frac{٣}{١٠}$ وَ ٢,٣ الكميةَ نفسَها؟
(الدرس ١١-٣)

LIVEWORKSHEETS