RÉVISION THÈME 5

1) Écris les nombres entiers manquants sous chaque droite numérique.

a)

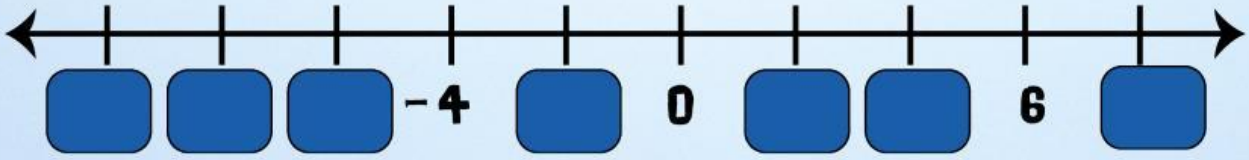

b)

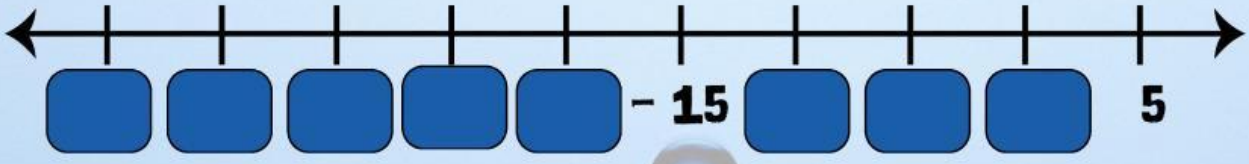

2) Place les nombres en ordre croissant.

a)



b)

3) Compare les nombres entiers avec les symboles < et > .

a) -5 ____ 3 b) -8 ____ -13 c) 91 ____ 47 d) -52 ____ -34 e) 0 ____ -26

4) Samsam plonge dans la piscine à partir d'un tremplin de 7 mètres de hauteur. Il se retrouve à 2 mètres sous l'eau avant de remonter à la surface. Quelle distance a-t-il parcourue au total?

Réponse : _____

LIVEWORKSHEETS

5) Complète le tableau en calculant les écarts de température.

JOUR	MATIN	SOIR	ÉCART
LUNDI	-5	12	
MARDI	0	8	
MERCREDI	-2	20	
JEUDI	3	17	
VENDREDI	-1		14

6) Convertis les masses.

a) 1 293 g = _____kg b) 25 kg = _____g c) 285 g = _____kg

d) 0,56 kg = _____g e) 78 g = _____kg f) 4,9 kg = _____g

7) Convertis les mesures de capacité.

a) 450 ml = _____L b) 87 483 ml = _____L c) 14 ml = _____L

d) 35 L = _____ml e) 2,3 L = _____ml f) 122 L = _____ml

8) Place les mesures de temps en ordre croissant.

LIVEWORKSHEETS

9) Observe le jeu de bataille navale ci-dessous.

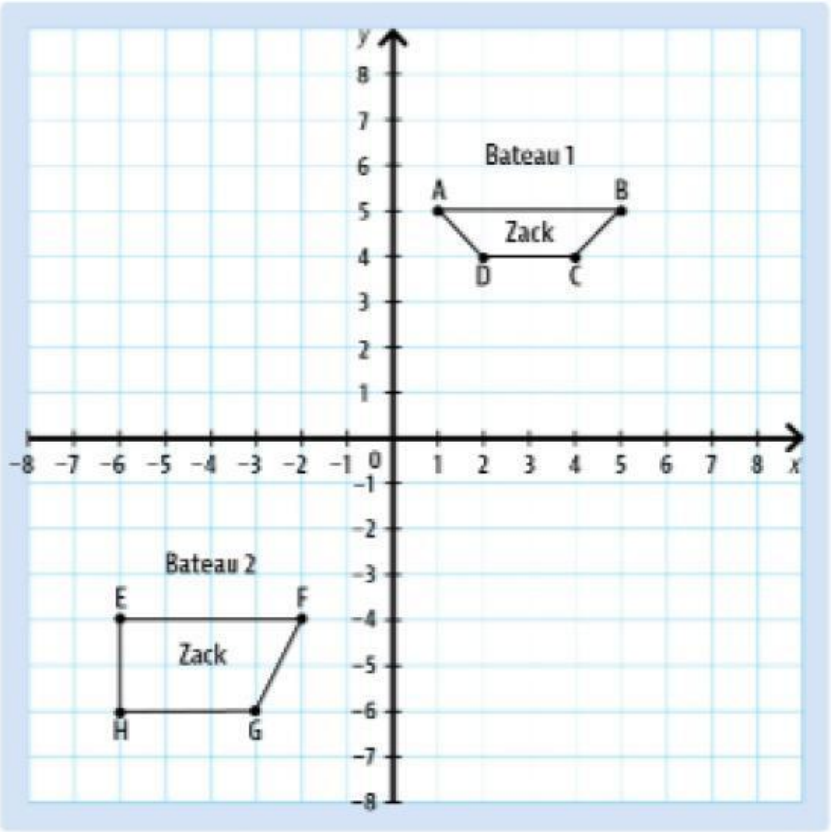

a) **Donne** les coordonnées des 2 bateaux de Zack.

Bateau 1 de Zack	
A	
B	
C	
D	

Bateau 2 de Zack	
E	
F	
G	
H	

10) Résous les problèmes suivants.

a) La bouteille de Joe contient 2,7 L. Il veut la vider dans des verres de 30 ml, combien de verres remplira-t-il avec sa bouteilles?

Réponse : _____

b) Un camion de livraison transporte 48,6 kg de sable. Il dépose 26 739 g chez sa cliente. Combien de kilogrammes de sable lui reste-t-il à livrer?

Réponse : _____

c) Maxime part en autobus à 9h50 pour aller chez sa tante. Le trajet dure 3h20. À quelle heure arrivera-t-elle à destination?

Réponse : _____

LIVEWORKSHEETS