பெயர்:-------- வகுப்பு:---

கீழேக் கொடுக்கப்பட்ட கனச் சதுரத்திற்கு கன அளவுக் காண்க:

5செமீ

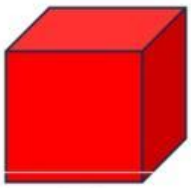

கனஅளவு =-----செமீ^{3}

2செமீ



கனஅளவு =-----செமீ^{3}

)

6செமீ

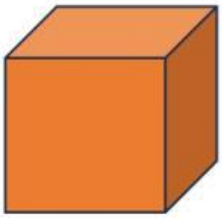

கன அளவு =----- செமீ^{3}

3செமீ

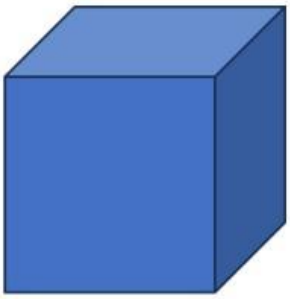

கன அளவு =----- செமீ^{3}

1.3செமீ



கன அளவு =----- செமீ^{3}

6.5 செமீ

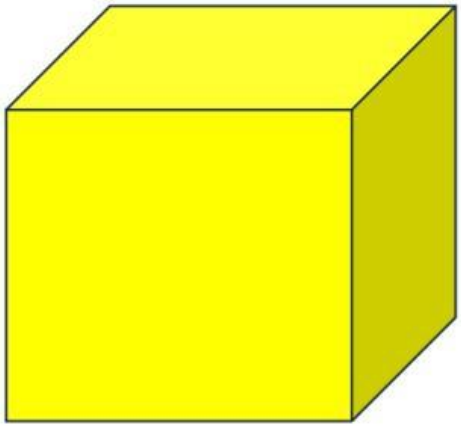

கன அளவு =----- செமீ^{3}

LIVEWORKSHEETS