ОБ'ЄМНІ ФІГУРИ
КУБ. КУЛЯ. ЦИЛІНДР

1. Зі скількох кубиків складено башти?



Яка башта має найбільше кубиків?



Яка башта має найменше кубиків?



2. На які предмети схожі об'ємні (просторові) фігури?



Куля **Куб** **Циліндр**

3.

4 + 3 – 2	7 – 3 – 4	1 + 2 + 3
5 – 3 + 2	8 – 3 – 5	3 + 1 + 2

4. За малюнками і схемами склади й розв'яжи задачі.

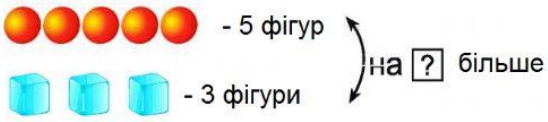

(ф.)

Відповідь: на фігур кульок більше.

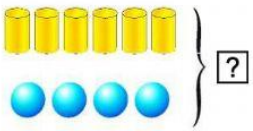

(ф.)

Відповідь: фігур всього.

Пам'ятай

Щоб дізнатися на скільки одне число більше або менше треба від більшого числа відняти менше.

LIVEWORKSHEETS