LEMBAR KERJA PESERTA DIDIK

LKPD
PERUBAHAN WUJUD BENDA

Lembar kerja bagi siswa-siswi yang menyelesaikan tugasnya lebih cepat

Kelas IV SD/MI

LIVEWORKSHEETS

petunjuk pengerjaan

langkah-langkah Kegiatan

1. Pengerjaan LKPD harus terhubung dengan internet

2. Bacalah petunjuk setiap kegiatan E-LKPD

3. Simaklah setiap video pembelajaran sebelum mengerjakan soal

4. Soal-soal bisa dijawab secara langsung melalui E-LKPD ini.

5. Ketika sudah selesai mengerjakan soal bisa langsung klik tombol "finish" di paling bawah dan akan muncul otomatis kolom identitas diri peserta didik dan bisa langsung diisi kemudian diklik "send"

LIVEWORKSHEETS

capaian pembelajaran

Peserta didik mengidentifikasi proses perubahan wujud zat dan perubahan bentuk energi dalam kehidupan sehari-hari.

tujuan pembelajaran

1. Dengan menyimak video pembelajaran dengan menyimak video pembelajaran peserta didik dapat menyebutkan 6 jenis bentuk perubahan wujud benda

2. Dengan menyimak video pembelajaran peserta didik dapat menyebutkan contoh-contoh perubahan wujud benda

3. Mencari tahu bagaimana perubahan wujud benda terjadi.

LIVEWORKSHEETS

halo... Apakah sudah siap mengikuti pembelajaran hari ini? Hari ini kita akan menyelesaikan 4 misi.
misi yang pertama yaitu menyimak video langsung saja yuk mari kita simak!

petunjuk untuk nomor 1 -4, isikan jawaban secara langsung, dengan mengetik pada kotak yang sudah disediakan.

bagus... Kamu sudah menyelesaikan misi yang pertama. Selanjutnya misi yang kedua yaitu kerjakan soal-soal di bawah ini. Sebelum mengerjakan perhatikan setiap petunjuknya ya!!!!

selamat mengerjakan~~~~~~

LIVEWORKSHEETS

PERUBAHAN WUJUD BENDA

Nama: **Kelas:**

Tulislah jawaban yang benar pada kolom yang disediakan!



- Apa yang terjadi ketika es ditaruh di atas meja di ruangan yang hangat?

  ....

- Bagaimana perubahan wujud benda pada gambar disamping?

  ....



- Pernahkah kalian melihat orang menjemur pakaian di bawah sinar matahari, apa bentuk perubahan wujud benda tersebut?

  ....

- apa yang terjadi ketika bola mencapai ketinggian maksimum?

  ....

LIVEWORKSHEETS

MENJODOHKAN

Petunjuk nomor 3 jodohkanlah pernyataan di bawah dengan gambar yang sesuai

Menguap



Mengembun

Mencair

Menyublim

LIVEWORKSHEETS

Petunjuk nomor 4

Temukan 5 kata di samping yang berkaitan dengan materi dengan cara klik kotak sesuai dengan kata yang di temukan!

Carilah kata-kata yang berkaitan dengan suhu dan perubahan wujud benda di bawahnini !

1. Mencair
2. Menyublim
3. Membeku
4. Menguap
5. Suhu

M	E	B	C	D	E	A	K	L	M
E	L	T	K	V	I	J	L	M	N
M	E	N	G	U	A	P	K	I	S
B	T	M	E	N	C	A	I	R	L
E	L	I	J	K	X	C	N	K	N
K	V	V	S	U	H	U	X	L	M
U	K	I	J	K	M	U	V	R	S
M	E	N	Y	U	B	E	L	I	M

LIVEWORKSHEETS