E-LKPD

ILMU PENGETAHUAN ALAM DAN SOSIAL (IPAS)

Harmoni Dalam Ekosistem :
Materi Rantai Makanan

KELOMPOK :

ANGGOTA :

KELAS :

LIVEWORKSHEETS

Di dalam rantai makanan, jamur dan bakteri memilki peran sebagai ....

Di bawah ini manakah komponen di dalam rantai makanan yang berperan sebagai produsen ....

Padi

Rumput

Semut

Di bawah ini yang tidak termasuk komponen ekosistem adalah ....

A Produsen

B Pengurai

C Parasit

D Konsumen

LIVEWORKSHEETS

Hubungkan gambar hewan di bawah ini dengan perannya yang sesuai pada rantai makanan di ekosistem sawah!

- Produsen

- Konsumen 2

- Konsumen 1

- Pengurai (dekomposer)

- Konsumen 3 (Puncak Rantai Makanan)

LIVEWORKSHEETS

Hubungkan gambar hewan di bawah ini dengan perannya yang sesuai pada rantai makanan di ekosistem hutan!



- Konsumen 2

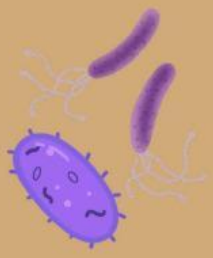

- Produsen

- Konsumen 3 (Puncak Rantai Makanan)

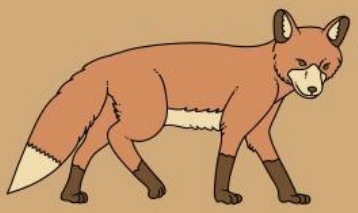

- Pengurai (dekomposer)

- Konsumen 1

LIVEWORKSHEETS