คำชี้แจง : ให้นักเรียนศึกษาระบบพิกัดทางภูมิศาสตร์บนโลกแล้วเติมคำตอบที่ถูกต้อง

พิกัดภูมิศาสตร์ คือ.....

โดยใช้ค่า .....



เส้นที่ลากแนวนอน เรียกว่า เส้น .....

เส้นที่ลากแนวตั้ง เรียกว่า เส้น .....

เส้นแบ่งซีกโลกเหนือ-ใต้ เรียกว่า เส้น .....

เส้นที่แบ่งซีกโลกตะวันออก กับซีกโลกตะวันตก เรียกว่า.....

1. เส้นศูนย์สูตร มีค่าเริ่มต้นที่.....องศา
2. เส้นละติจูด คือ เส้นที่วัดจากเส้นศูนย์สูตรไปซีกโลก.....
ไปยัง.....
3. ตำแหน่งละติจูดที่อยู่เหนือเส้นศูนย์สูตรจะมีค่าเป็นองศา.....
ส่วนที่อยู่ใต้เส้นละติจูดจะมีค่าเป็นองศา.....
4. เส้นละติจูดมีค่าสูงสุดที่ .....องศา หรือด้านละ ..... องศา
5. ฉะนั้นเส้นละติจูดจึงมีทั้งหมด จำนวน.....เส้น

เส้นละติจูด คือ เส้นแนวนอน

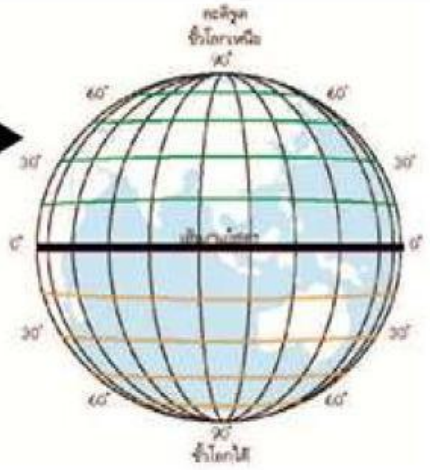

เส้นลองจิจูด คือ เส้นโครงแนวตั้ง

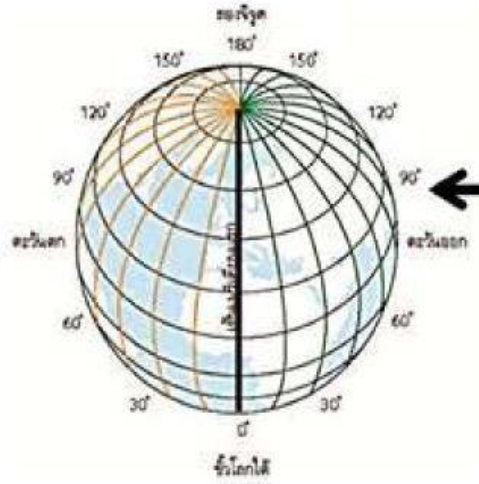

1. เส้นเมอริเดียนแรก มีค่า.....องศา ลากผ่านเมือง.....
ประเทศ .....
2. เส้นลองจิจูด คือ ระยะทางเชิงมุมที่วัดจากเส้น.....
ไปทางซีกโลก.....และ ซีกโลก.....
3. ตำแหน่งลองจิจูดที่อยู่ทางด้านตะวันออกจะมีค่าเป็นองศา.....
ส่วนที่อยู่ทางด้านตะวันตกจะมีค่าเป็นองศา.....
4. เส้นลองจิจูดมีค่าสูงสุดที่ .....องศาหรือด้านละ.....องศา
เส้นลองจิจูดจึงมีทั้งหมดจำนวน.....เส้น

LIVEWORKSHEETS