ใบงานที่ 10

การเรียงลำดับจำนวน จากมากไปน้อย

ตัวชี้วัด • ค 1.1 (ป.3/2) เปรียบเทียบและเรียงลำดับจำนวนนับไม่เกิน 100,000 จากสถานการณ์ต่าง ๆ

คำชี้แจง : ให้นักเรียนเรียงลำดับจำนวนนับจาก **มากไปน้อย** ให้ถูกต้อง พร้อมระบายสีให้สวยงาม

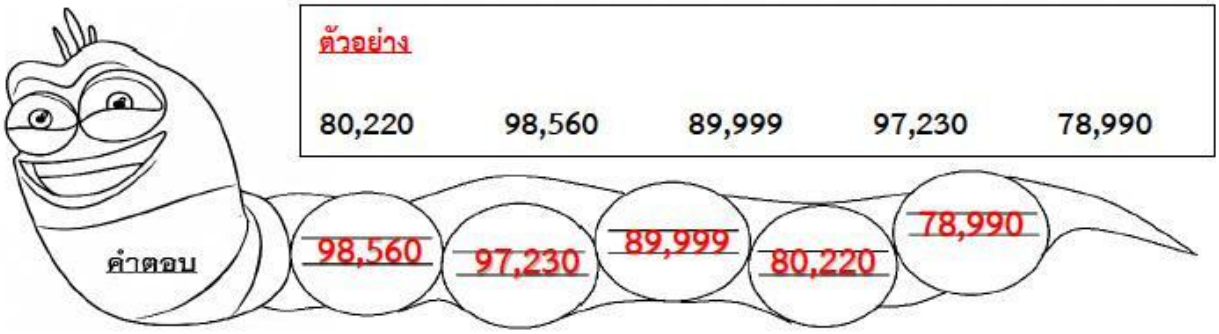

ตัวอย่าง

80,220 98,560 89,999 97,230 78,990

คำตอบ 98,560 97,230 89,999 80,220 78,990

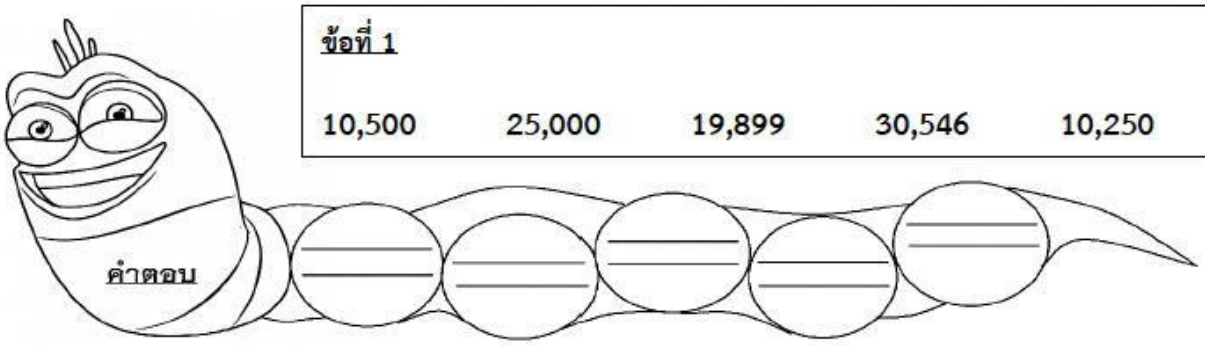

ข้อที่ 1

10,500 25,000 19,899 30,546 10,250

คำตอบ

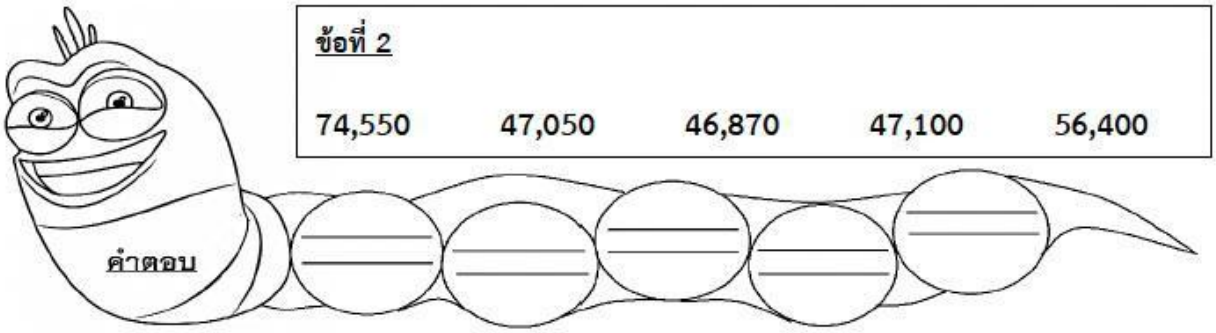

ข้อที่ 2

74,550 47,050 46,870 47,100 56,400

คำตอบ

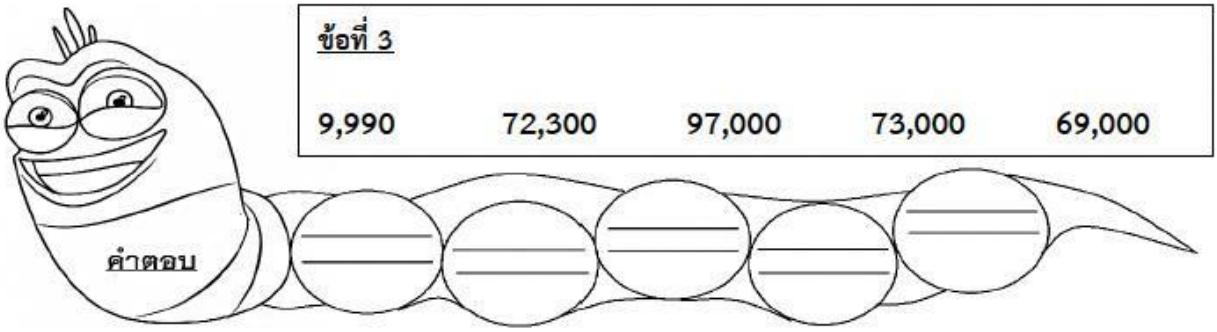

ข้อที่ 3

9,990 72,300 97,000 73,000 69,000

คำตอบ

LIVEWORKSHEETS

4.



เป็นแบบรูปที่มีความสัมพันธ์แบบ ..... ทีละ .....

5.



เป็นแบบรูปที่มีความสัมพันธ์แบบ ..... ทีละ .....

6.

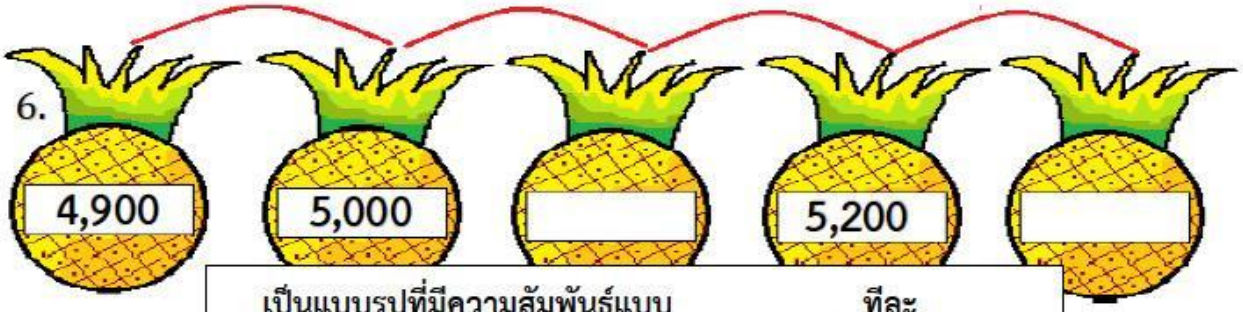

เป็นแบบรูปที่มีความสัมพันธ์แบบ ..... ทีละ .....

7.



เป็นแบบรูปที่มีความสัมพันธ์แบบ ..... ทีละ .....

ชื่อ..... ชั้น ป.3 เลขที่ .....

LIVEWORKSHEETS