POLIEDRES

Indica el nom d'aquests poliedres dient si són prismes o piràmides i tenint en compte els polígons de la seva base.

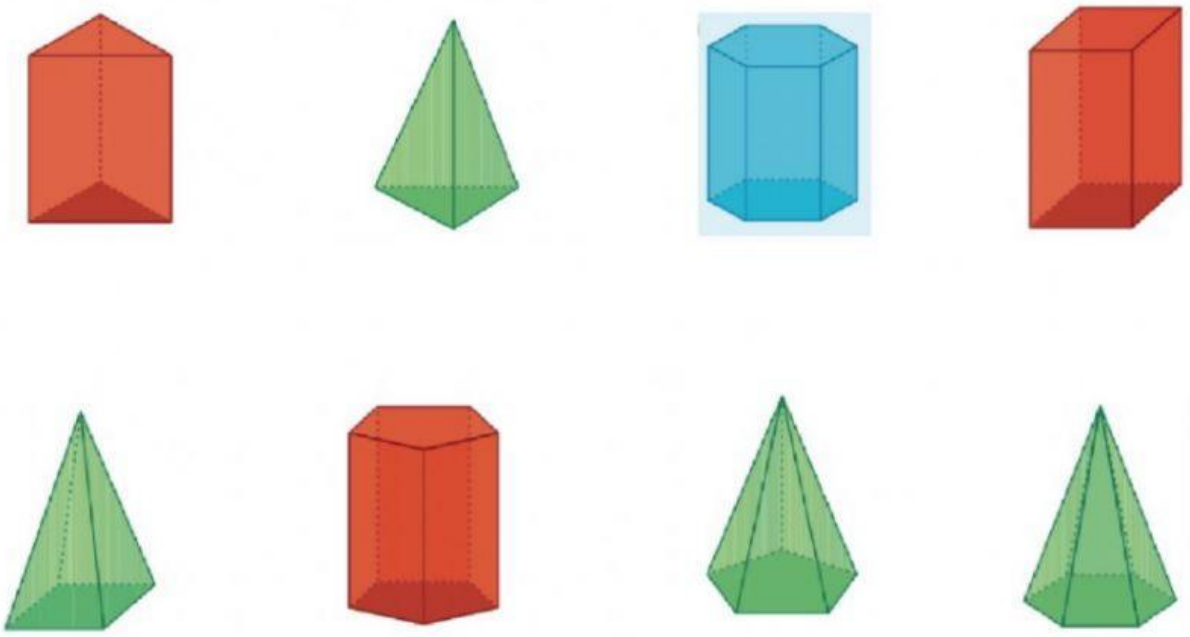

Indica quantes cares, vèrtexs i arestes tenen aquests poliedres.

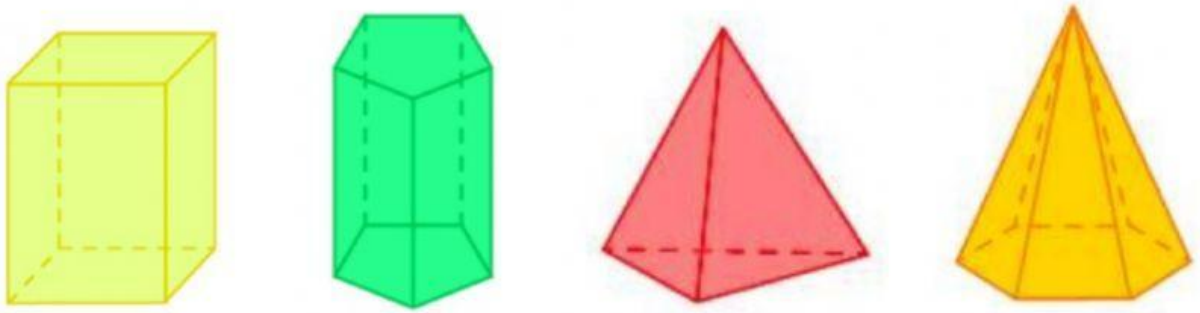

Cares:	Cares:	Cares:	Cares:
Vèrtexs:	Vèrtexs:	Vèrtexs:	Vèrtexs:
Arestes:	Arestes:	Arestes:	Arestes:

Com es diu aquest poliedre?

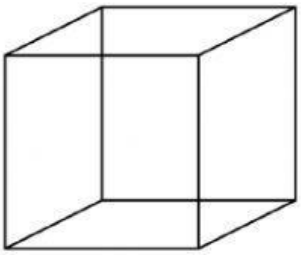

Cares:
Vèrtexs:
Arestes:

LIVEWORKSHEETS