Câu 1. Số 45 viết là

A.bốn mươi năm B. bốn lăm C. bốn lăm D. bốn mươi lăm

Câu 2. Số gồm 7 chục và 3 đơn vị là số

A. 17 B. 37 C. 71 D. 73

Câu 3. Hình bên là

A.hình tam giác

B. hình chữ nhật

C. hình vuông

D. khối hộp chữ nhật

Câu 4. Sắp xếp các số sau theo thứ tự: 89, 2, 54, 32

a. Từ bé đến lớn:.....

b. Từ lớn đến bé:.....

Câu 5. Điền số ?

56 + ... = 67	..... + 12 = 23	89 – ..... = 0
34 + …… = 88	……. + 21 = 36	94 – ……. = 72
28 + …… = 59	……. + 34 = 87	37 – ……. = 25

Câu 6. Tính

72 + 27 = …….	12 + 34 = …….	26 + 13 = …….
28 + 61 = ……	16 + 21 = …….	76 – 22 = …….
67 – 12 = ……	56 – 34 = ……	87 – 51 = …….

Câu 7. Điền dấu >, <, =

23 43	12 + 12 24	54 – 14 ..... 43 – 10
82 …… 29	38 …… 78 – 23	72 + 21 …… 92 – 12
28 …… 20	23 + 35 …… 29	17 + 23 …… 45 + 12

Câu 8. Tính

32 cm + 14 cm =……

21 cm + 34 cm =……....

67 cm + 31 cm =……

96 cm – 32 cm =…….

67 cm – 12 cm =…….

84 cm – 52 cm =…….

Câu 9. Cho hình bên

Có … hình tam giác.

Có … hình vuông.



Câu 12. Cho hình bên

Có … hình tam giác.

Có … hình vuông.



Câu 10. Đồng hồ chỉ … giờ.

Câu 14. Đồng hồ chỉ … giờ.

LIVEWORKSHEETS

Câu 11. Cho hình bên

Có … hình tam giác.

Có … hình vuông.

Có … hình tròn.

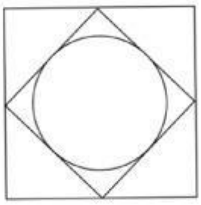

Câu 12. Đồng hồ chỉ … giờ.

Câu 16. Cho hình bên

Có … hình tam giác.

Có … hình vuông.

Có … hình chữ nhật.

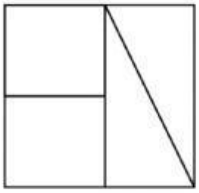

Câu 18. Đồng hồ chỉ … giờ.

LIVEWORKSHEETS