Контрольна робота №2
З ПІЗНАЄМО ПРИРОДУ
ЗА ІІ СЕМЕСТР 5-ГО КЛАСУ

1. Підпишіть найменування царств живих організмів під відповідними зображеннями.

2. Розташуйте гази відповідно до їх переважного руху під час дихання живих організмів.

O_2 CO_2

3. Підпишіть назву позначених на зображенні органів тварин.

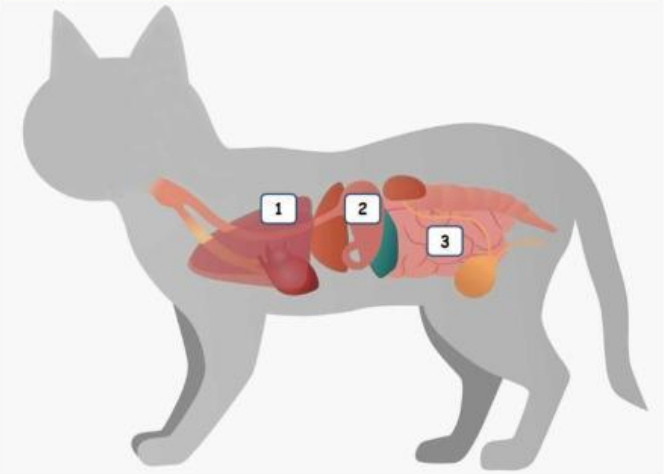

1.

2.

3.

LIVEWORKSHEETS

4. Підпишіть назву позначених на зображенні частин рослини.

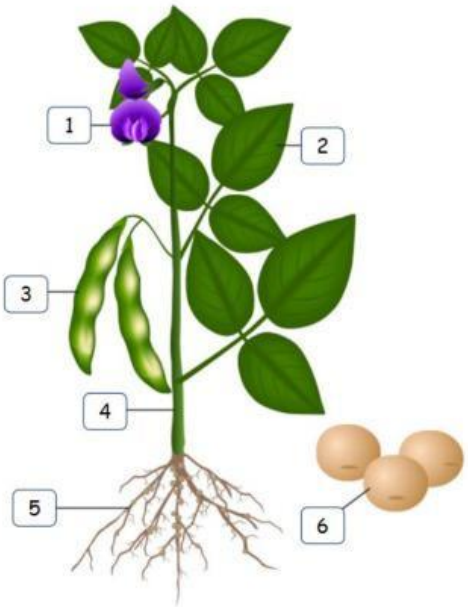

1.

2.

3.

4.

5.

6.

5. Підпишіть назву позначених на зображенні частин гриба.

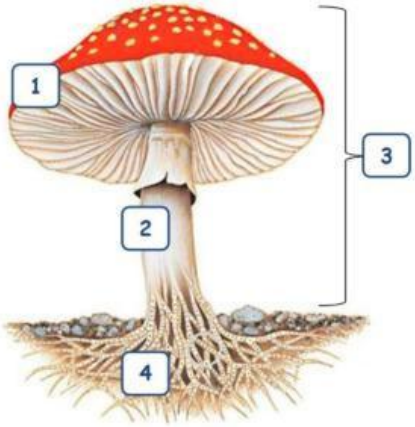

1.

2.

3.

4.

6. Підпишіть назву органів руху тварин.

1.

2.

3.

4.

5.

6.

LIVEWORKSHEETS

7. Оберіть способи руху рослин.

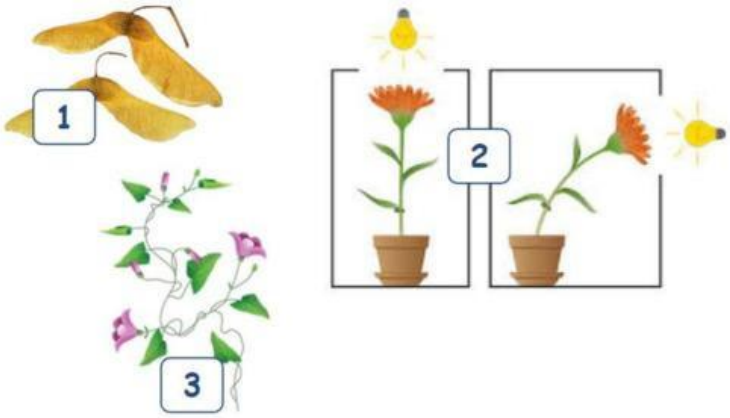

1.

2.

3.

8. Підпишіть назву позначених на зображенні органів людини.

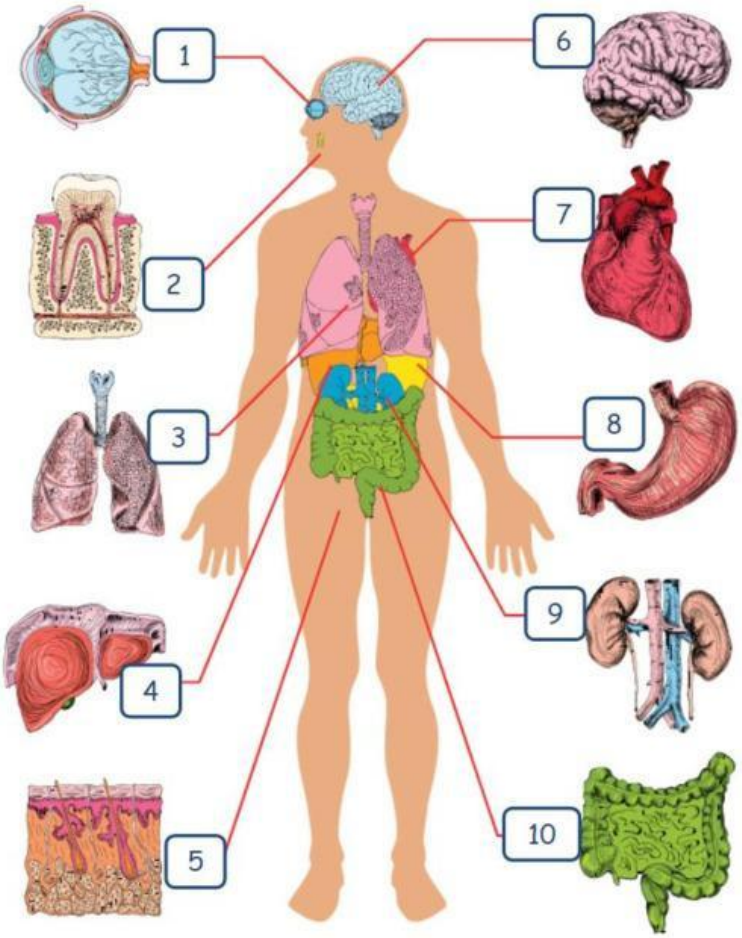

1.

2.

3.

4.

5.

6.

7.

8.

9.

10.

LIVEWORKSHEETS

9. Оберіть серед зображень екологічні проблеми та екологічні звички.

1.

2.

3.

10. Оберіть назви винайдених технологій для подолання екологічних проблем.

LIVEWORKSHEETS