Nama Lengkap :

Kelas:

Gunakanlah tanda > (lebih besar), < (lebih sedikit) atau = (sama dengan) untuk menunjukkan perbandingan berat.

= 1 ons

= 1 kg

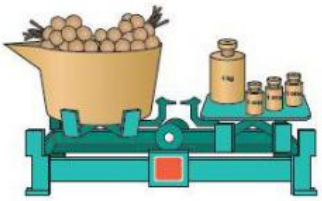

Berat klengkeng = ...

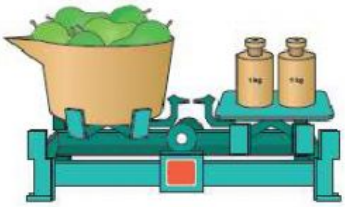

Berat mangga = ...

beratnya
6 ons

beratnya 2 ons

..... ons



..... ons

..... ons

..... ons

Klik lah pada kotak yang kalian anggap tepat!

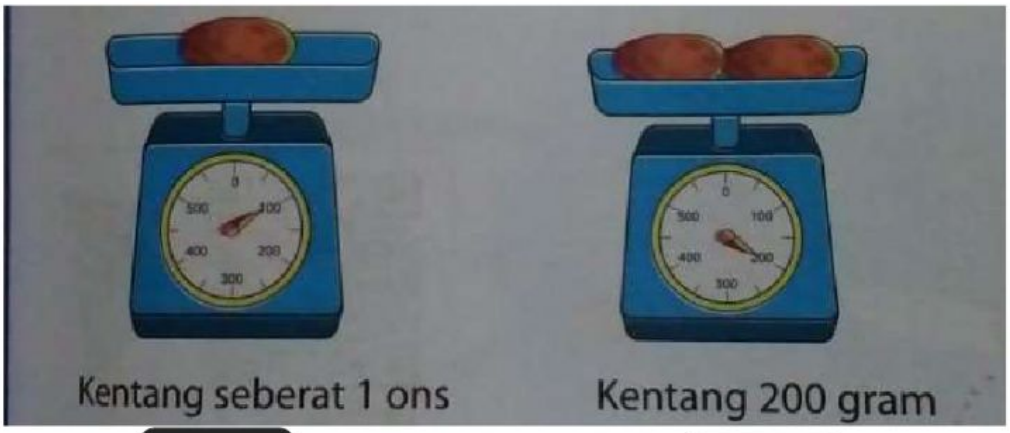

Klik lah pada kotak yang kalian anggap tepat!

<u>Kerajinan yang terbuat dari bahan alam</u>