LKPD IPAS

Lembar Kerja Peserta Didik IPAS

TOPIK A : BAGAIMANA BERNAPAS MEMBANTUKU MELAKUKAN AKTIVITAS SEHARI-HARI?

Kelas V Semester ll



Disusun Oleh : Farhan Faris Romadhon

LIVEWORKSHEETS

Nama: Kelas:

ORGAN PERNAPASAN MANUSIA

Lengkapilah bagian-bagian sistem pernapasan pada manusia berikut!

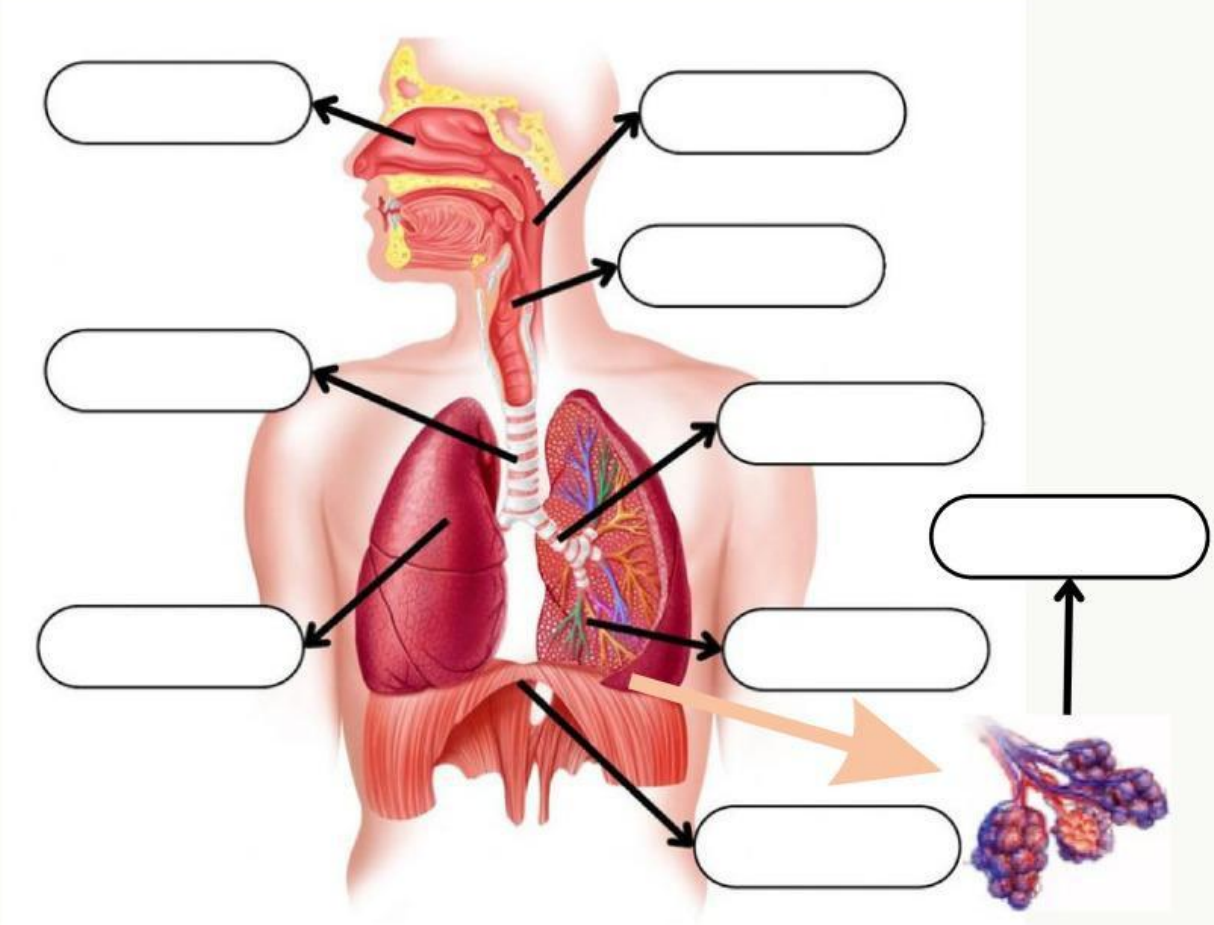

HIDUNG	BRONKUS	TRAKEA
FARING	DIAFRAGMA	ALVEOLUS
LARING	BRONKIOLUS	PARU-PARU

LIVEWORKSHEETS

Pasangkan gambar berikut ini sesuai dengan ciri-cirinya

Pangkal tenggorokan

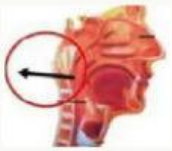

Saluran utama lewatnya udara menuju paru-paru (batang tenggorokan)

Tempat masuknya O2 dan keluarnya CO2

Tempat persilangan jalur udara dan makanan

Tempat pertukaran oksigen dan karbondioksida

Membantu proses distribusi udara didalam paru-paru

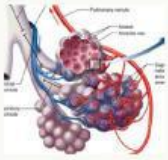

Penghubung trakea dengan paru-paru

LIVEWORKSHEETS

LIVEWORKSHEETS