Họ và tên: .....

Lớp: .....

BÀI TẬP CUỐI CHƯƠNG 8

Câu 1: Em hãy tìm một hình vẽ tương ứng với mỗi khái niệm hình hình học.

Hình hình học	Hình vẽ
(1) Điểm A	(A) 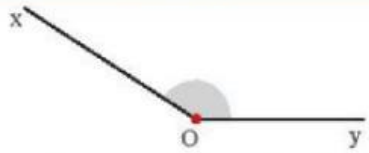
(2) Góc bẹt	(B) 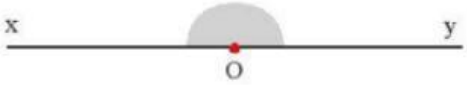
(3) M là điểm trong của góc xOy	(C)
	(D)
(4) Góc vuông	(E) 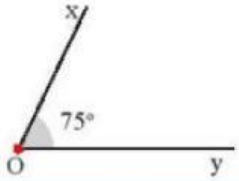
(5) Góc tù	(G) 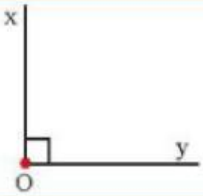
(6) Góc nhọn xOy có số đo 75°	(H) 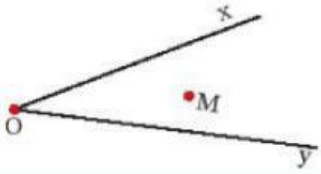

LIVEWORKSHEETS

Câu 2: Em hãy tìm một hình vẽ tương ứng với mỗi khái niệm hình hình học.

Hình hình học	Hình vẽ
(1) Đường thẳng đi qua hai điểm A và B	(A)
(2) Đoạn thẳng MN	(B)
(3) Tia At	(C)
(4) M là trung điểm của đoạn thẳng KL	(D)
(5) Điểm M nằm giữa hai điểm C và D	(E) 
(6) Đoạn thẳng AB có độ dài 3 cm	(G)
	(H)

Câu 3: Em hãy tìm một hình vẽ tương ứng với mỗi khái niệm hình hình học.

Hình hình học	Hình vẽ
(1) Hai đường thẳng a, b cắt nhau	(A) 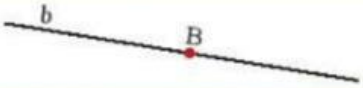
(2) Hai đường thẳng song song	(B)
(3) Điểm B nằm trên đường thẳng b	(C)
(4) Điểm nằm ngoài đường thẳng	(D)
(5) Ba điểm thẳng hàng	(E) 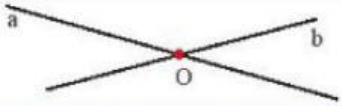
(6) Ba điểm không thẳng hàng	(G)
	(H) 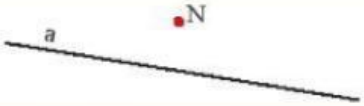

LIVEWORKSHEETS

Câu 4: Bổ sung vào chỗ chấm để hoàn thiện các câu sau cho đúng.

a) Khi ba điểm cùng thuộc một ....., ta nói rằng chúng thẳng hàng.

b) Trong ba điểm thẳng hàng, có một và chỉ một điểm ..... hai điểm còn lại.

c) Có một và chỉ một ..... đi qua hai điểm A và B cho trước.

d) Nếu hai đường thẳng chỉ có ..... ta nói rằng hai đường thẳng đó cắt nhau.

e) Nếu hai đường thẳng không có ..... ta nói rằng hai đường thẳng đó song song.

g) ..... là hình gồm hai điểm A, B và tất cả các điểm nằm giữa A và B.

h) ..... của đoạn thẳng AB là điểm nằm giữa hai đầu mút của đoạn thẳng và cách đều hai điểm đó.

i) ..... là hình gồm hai tia chung gốc.

k) Góc lớn hơn góc vuông nhưng nhỏ hơn góc bẹt là .....

LIVEWORKSHEETS