T.5 REPASO EXAMEN

Stars, satellites and planets

a. Fill in the blank spaces.

Satellite **star** **planet**

It moves around a planet. ?	It moves around a star. ?	It gives out light and heat. ?

b. Join each picture to the correct text.

Estrellas, el satélites y planetas

a. Rellena los espacios en blanco.

Satélite **estrella** **planeta**

Se mueve alrededor de un planeta .....

Se mueve alrededor de una estrella .....

Nos da luz y calor .....

b. Une cada imagen con su texto correcto.

LIVEWORKSHEETS

NATURAL SCIENCE

U.5 WE DISCOVER THE UNIVERSE

T.5 REPASO EXAMEN

Escribe los nombres

....

Write the names.

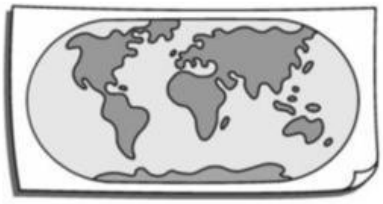

LIVEWORKSHEETS

T.5 REPASO EXAMEN

Pon nombre en las partes de la imagen.
noche - Tierra - día - Sol

Label the picture.

night	Earth	day	Sun



LIVEWORKSHEETS

NATURAL SCIENCE

U.5 WE DISCOVER THE UNIVERSE

T.5 REPASO EXAMEN

The two movements of the Earth

a. Trace the sentences with pen or pencil.
b. Fill in the blank spaces with the missing words.

a year **24 hours** **the seasons** **day and night**

The Earth spins round like a top. It takes .....
There is .....

The Earth moves around the Sun. It takes .....
This movement creates .....

Los movimientos de la Tierra

a. Repasa las oraciones con bolígrafo o lápiz.

b. Rellena los espacios en blanco con las palabras que faltan.

un año - 24 horas - las estaciones - día y noche

La Tierra gira alrededor como una peonza. Tarda ..... . Hay ..... .

La Tierra se mueve alrededor del Sol. Tarda ..... . Este movimiento genera ..... .

LIVEWORKSHEETS

T.5 REPASO EXAMEN

Por nombre a los planetas del sistema solar.

Venus - Mercurio - La Tierra - Neptuno - Júpiter - Marte - Urano - Saturno

Label the planets in the solar system. **2 POINTS**

Venus Mercury Earth Neptune Jupiter Mars Uranus Saturn



LIVEWORKSHEETS

NATURAL SCIENCE

U.5 WE DISCOVER THE UNIVERSE

T.5 REPASO EXAMEN

a. Draw the phases of the Moon.
b. Trace the names of the phases of the Moon. Use pen or pencil.

Waning moon Full moon Waxing moon New moon

a. Dibuja las fases de la luna.

b. Repasa los nombres de las fases de la luna. Usa bolígrafo o lápiz.

luna menguante - luna llena - luna creciente - luna nueva

LIVEWORKSHEETS

T.5 REPASO EXAMEN

Completa el texto.

Atardecer mediodía noche amanecer

El día comienza con el .....
y termina con el ..... . Es de ..... en la cara que está alejada del Sol. Cuando el Sol está en su punto más alto, es de ..... .

Complete the text.

sunset	midday	night	sunrise

The day begins at _____ and finishes at _____.

It is _____ on the side facing away from the Sun. When the Sun is at its highest, it is _____.

LIVEWORKSHEETS

NATURAL SCIENCE

U.5 WE DISCOVER THE UNIVERSE

T.5 REPASO EXAMEN

Escribe verdadero o falso. Después, corrige la oración falsa.

*La Luna es el satélite natural de la Tierra.
*Los mares de la luna están llenos de agua salada.
*Hay cráteres y mares en la superficie de la Luna.
*La luna recibe la luz del Sol.

Write *T* (true) or *F* (false). Then, correct the false sentence.

The Moon is the Earth's natural satellite. ☐

The seas on the Moon are full of salt water. ☐

There are craters and seas on the Moon's surface. ☐

The Moon receives light from the Sun. ☐

LIVEWORKSHEETS