Nimi:	Kuupäev:	MAT 116

VÕRDELINE SEOS JA SELLE GRAAFIK

1. Vasta küsimustele.

Mitu sirget saab joonestada tasandil läbi ühe punkti?

VASTUS: _____



Mitu sirget saab joonestada tasandil läbi kahe punkti?

VASTUS: _____



2. Täida lüngad.

Funktsiooni $y = ax$, kus a on antud arv ($a \neq 0$) ning x ja y on muutujad, nimetatakse _____ **.**

Arvu a nimetatakse võrdeteguriks, $a =$ _____ **.**

3. Täida tabel ja joonesta võrdelise seose $y = 3x$ graafik.

x	–3	–2	–1	0	1	2	3
y							

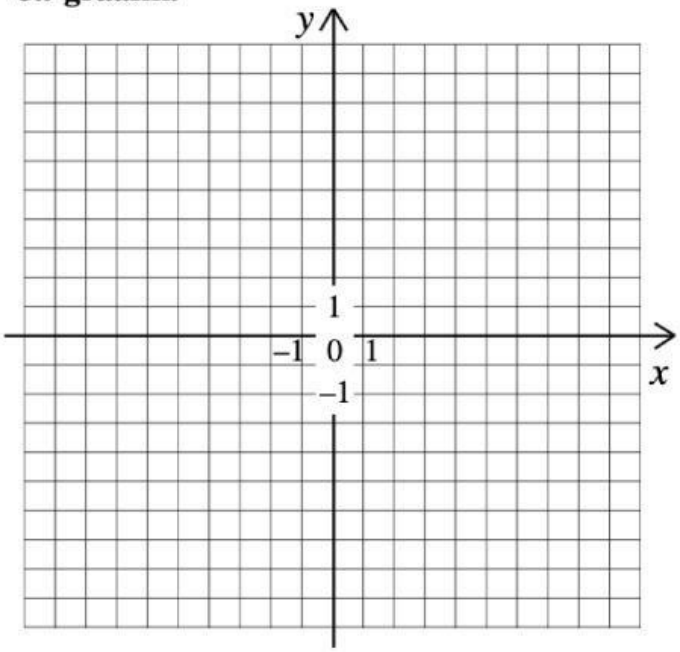

4. Joonesta samas teljestikus funktsiooni $y = -0{,}5x$ graafik. Täida tabel: vali vabalt argumendi väärtused ja arvuta neile vastavad funktsiooni väärtused.

x							
y							

© KEELEKÜMBLUSKESKUS
LIVEWORKSHEETS