WELLSPRING INTERNATIONAL BILINGUAL SCHOOL

Happy Journey

PHIẾU THI ĐẤU – GÓI SỐ: 4

NHÓM: ..... - LỚP: .....

1 Nối

Một viên gạch hình vuông có cạnh 40cm. Tính chu vi hình chữ nhật được ghép bởi 3 viên gạch như thế?

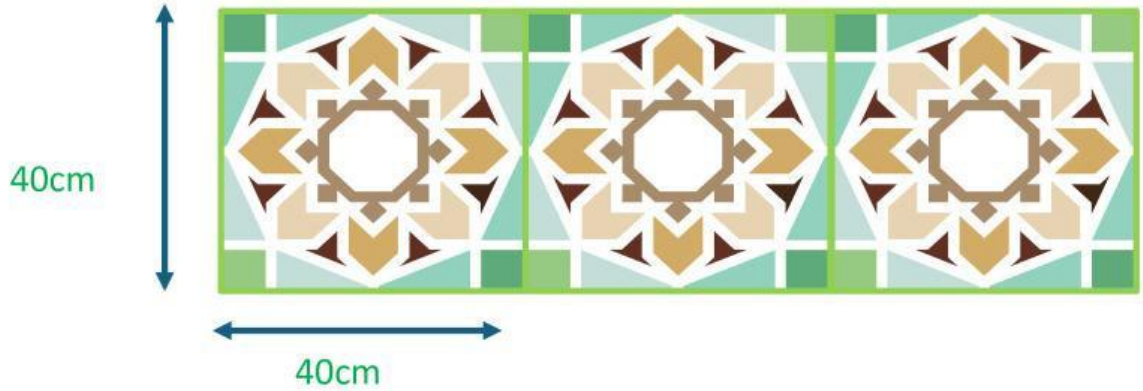

- [ ] A. 360cm
- [ ] B. 320cm
- [ ] C. 160cm
- [ ] D. 120cm

2 *Lựa chọn và sắp xếp các khối lệnh cho đúng yêu cầu sau: Các bạn hãy lập trình mô hình sâu bướm* ***di chuyển tiến lên 10 bước.***



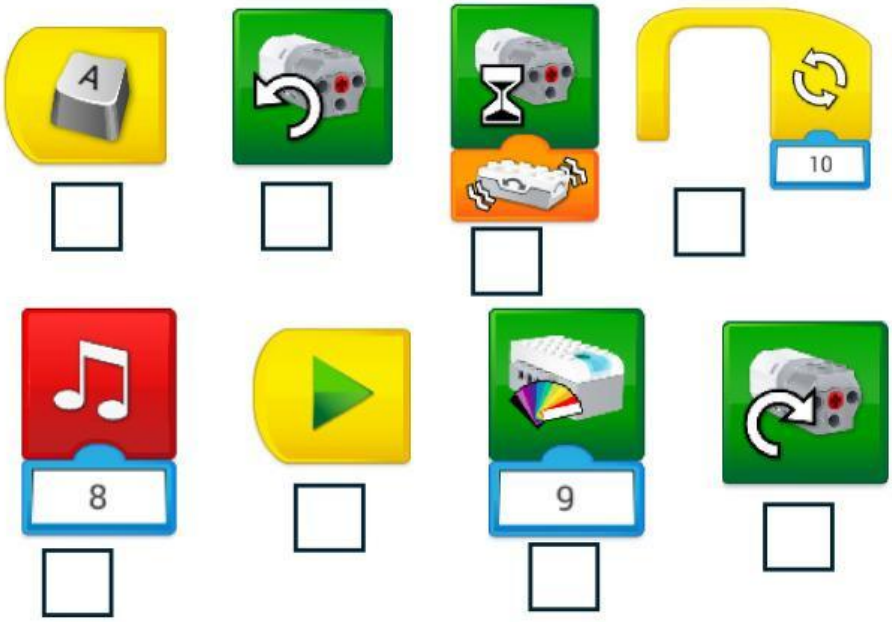

LIVEWORKSHEETS

WELLSPRING INTERNATIONAL BILINGUAL SCHOOL

Happy Journey

PHIẾU THI ĐẤU – GÓI SỐ: 4

NHÓM: ..... - LỚP: .....

1 Số ?

8 213	5 416	4 268	3 874
8 210	5 420	?	3 870

- ☐ A. 4 260
- ☐ B. 4 270
- ☐ C. 4 300
- ☐ D. 4 200

2 Quan sát tranh và tìm 3 từ chỉ đặc điểm

☐

☐

☐

3 Quan sát tranh và cho biết đặc điểm nào không phải của côn trùng?



- ☐ A. Có vỏ cứng
- ☐ B. Có 6 chân
- ☐ C. Có xương sống
- ☐ D. Kích thước nhỏ

LIVEWORKSHEETS