Họ và tên: _____

PHIẾU ÔN TUẦN 28
MÔN TOÁN

Thử thách 1: Sắp xếp những vật sau vào nhóm thích hợp.

Vật có hình dạng khối trụ

Vật có hình dạng khối cầu

Thử thách 2: Điền từ còn thiếu vào các ô trống dưới đây.

khối cầu | khối lập phương | khối trụ | khối hộp chữ nhật





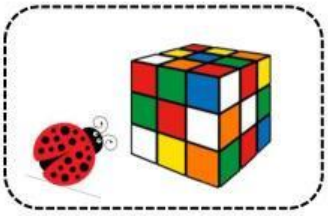

- Chú mèo vàng đang đứng cạnh cuộn len hình _____
- Thỏ Con đang đứng cạnh những khúc gỗ hình _____
- Con bọ rùa đang bò đến gần hối rubik có hình _____
- Những chú cá đang bơi trong bể cá hình _____

LIVEWORKSHEETS

Thử thách 3: Ai tinh mắt?

Có ☐ khối gỗ hình tứ giác

Có ☐ khối gỗ hình khối cầu

Có ☐ khối gỗ hình khối trụ

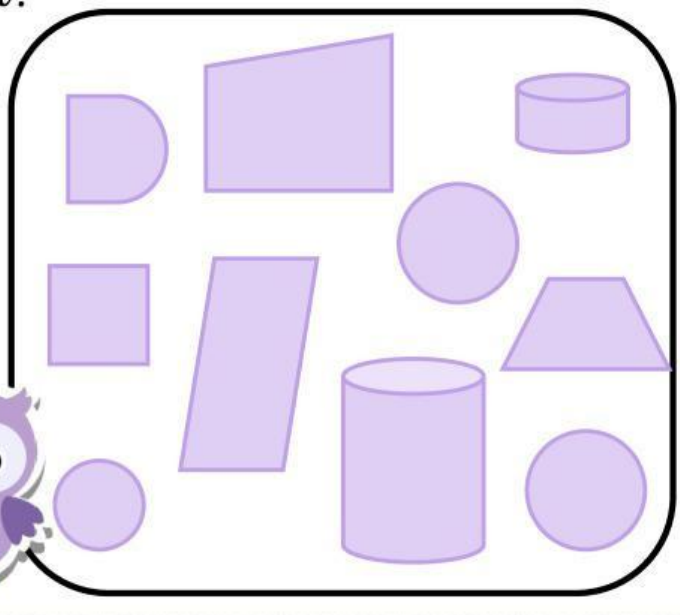

Thử thách 4: Bạn cú mèo đang che đi hình nào?

a)

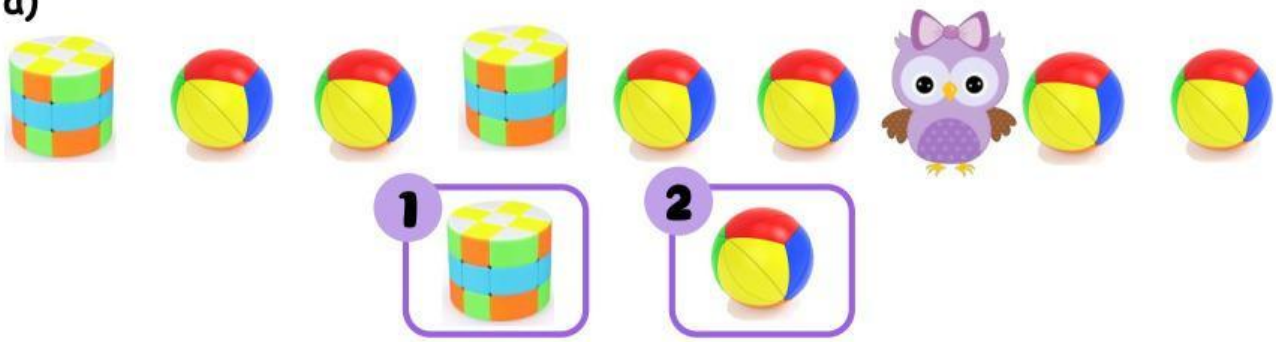

b)

Các bạn nhỏ ơi!
Các bạn hãy tìm xem xung quanh chúng ta có những đồ vật nào hình khối cầu, khối trụ nữa nhé!

LIVEWORKSHEETS