1 덧셈과 뺄셈

QR 1

다리를 어깨너비로 벌리고 서서 오른팔을 들어 왼쪽 머리에 손을 올려요.

숨을 마셨다가 내쉬면서 머리를 살살 당겨요. 반대편도 같은 방법으로 해요.

2-1 두 자리 수의 덧셈과 뺄셈하기

1 계산해 보세요.

$$\begin{array}{r} 36 \\ +\ 18 \\ \hline \end{array} \qquad \begin{array}{r} 51 \\ -\ 35 \\ \hline \end{array} \qquad 49+27 \qquad 80-52$$

2-1 두 자리 수의 덧셈하기

2 빈칸에 두 수의 합을 써넣으세요.

54	39

15	46

2-1 두 자리 수의 뺄셈하기

3 소영이는 동화책을 48쪽까지 읽었습니다. 90쪽까지 읽으려면 몇 쪽을 더 읽어야 할까요?

식 _____ 답 _____ 쪽

LIVEWORKSHEETS

받아올림이 없는

세 자리 수의 덧셈을 어떻게 할까요

수학 10~11쪽

공부한 날 월 일

1 수 모형을 보고 계산해 보세요.

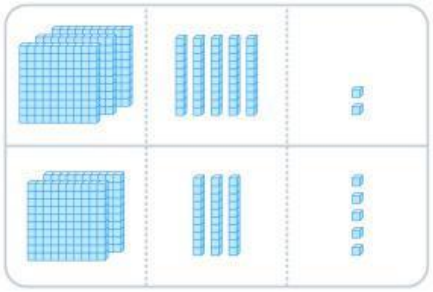

352+235= ☐

2 계산해 보세요.

$$\begin{array}{r} 135 \\ +\ 324 \\ \hline \end{array} \qquad \begin{array}{r} 503 \\ +\ 472 \\ \hline \end{array}$$

612+145

431+253

3 빈칸에 알맞은 수를 써넣으세요.

LIVEWORKSHEETS

4 계산 결과를 비교하여 ◯ 안에 >, =, <를 알맞게 써넣으세요.

$605+154$ ◯ $375+421$

5 박물관에 어제 방문한 어린이는 456명이고, 오늘 방문한 어린이는 532명입니다. 어제와 오늘 박물관에 방문한 어린이는 모두 몇 명인가요?

식 _____ 답 _____ 명

문제해결 + 추론 + 정보처리

6 덧셈식을 보고 ㉠, ㉡, ㉢에 알맞은 수를 구해 보세요.

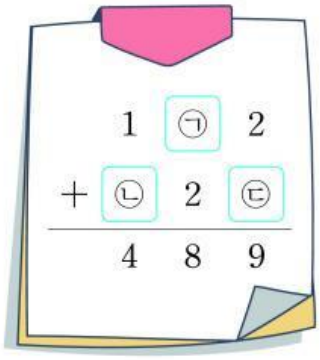

㉠ ( )

㉡ ( )

㉢ ( )

LIVEWORKSHEETS

받아올림이 한 번 있는

세 자리 수의 덧셈을 어떻게 할까요

수학 12~13쪽

공부한 날 월 일

1 수 모형을 보고 계산해 보세요.

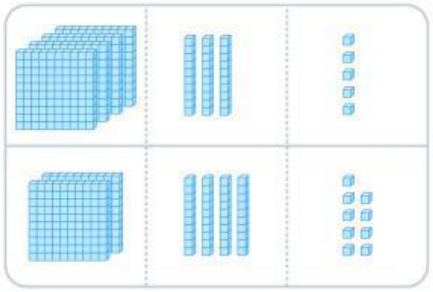

435+249= ☐

2 계산해 보세요.

$$\begin{array}{r} 248 \\ +\ 315 \\ \hline \end{array} \qquad \begin{array}{r} 173 \\ +\ 290 \\ \hline \end{array}$$

412+168

562+251

3 빈칸에 알맞은 수를 써넣으세요.

508	236	
259	724	

LIVEWORKSHEETS

4 문방구에 연필은 356자루, 볼펜은 429자루가 있습니다. 연필과 볼펜은 모두 몇 자루인가요?

식 _____ 답 _____ 자루

추론 + 정보처리

5 두 친구가 말하는 두 수의 합을 구해 보세요.

( )

창의적으로 해결하기

문제해결 + 추론 + 정보처리

두 수를 골라 합이 500보다 큰 덧셈식을 2가지 만들려고 합니다. □ 안에 알맞은 수를 써넣으세요.

162	274	316	345

□ + □ = □

□ + □ = □

LIVEWORKSHEETS

받아올림이 여러 번 있는

세 자리 수의 덧셈을 어떻게 할까요

수학 14~15쪽

공부한 날 월 일

1 수 모형을 보고 계산해 보세요.

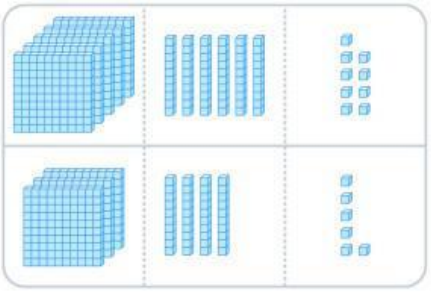

$569+346=$ ☐

2 계산해 보세요.

$$\begin{array}{r} 395 \\ +\ 278 \\ \hline \end{array} \qquad \begin{array}{r} 736 \\ +\ 495 \\ \hline \end{array}$$

$587+153$

$649+364$

3 현수가 농장에서 토마토를 어제는 189개 땄고, 오늘은 237개 땄습니다. 현수가 어제와 오늘 딴 토마토는 모두 몇 개인가요?

식 _____ 답 _____ 개

LIVEWORKSHEETS

4 계산 결과가 큰 것부터 차례대로 기호를 써 보세요.

㉠ 769+348	㉡ 246+857	㉢ 435+685

(　　)

추론

5 잘못 계산한 곳을 찾아 바르게 계산해 보세요.

$$\begin{array}{r} 843 \\ +\ 159 \\ \hline 902 \end{array} \rightarrow$$

바르게 계산하기

$$\begin{array}{r} 843 \\ +\ 159 \\ \hline \end{array}$$

문제해결

6 673+598에 알맞은 문제를 만들고 해결해 보세요.

문제

답

LIVEWORKSHEETS

덧셈의 어림셈을 어떻게 할까요

수학 16~17쪽

공부한 날 월 일

1 308+403이 약 얼마인지 어림셈으로 구하려고 합니다. 308과 403을 어림하여 그림에 ○표 하고, □ 안에 알맞은 수를 써넣으세요.

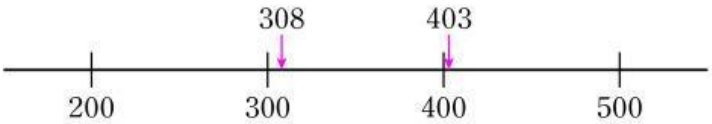

- 308과 403을 각각 어림하면 308은 약 □, 403은 약 □입니다.
- 308+403을 어림셈으로 구하면 약 □입니다.

2 재민이는 줄넘기를 어제는 198번, 오늘은 201번 했습니다. 재민이가 어제와 오늘 줄넘기를 약 몇 번 했는지 어림셈으로 구해 보세요.

- 어제와 오늘 한 줄넘기의 수를 각각 어림하면 198은 약 □이고, 201은 약 □입니다.
- 어제와 오늘 줄넘기를 약 □+□=□(번) 했습니다.

3 어림셈을 하기 위한 식에 색칠해 보세요.

107+310	→	100+300	100+400	200+300
396+612	→	300+600	400+600	400+700
275+526	→	200+500	300+500	300+600

LIVEWORKSHEETS

4 295＋104가 약 얼마인지 어림셈으로 구하려고 합니다. 어림셈으로 구한 값을 찾아 ○표 하고, 그 이유를 써 보세요.

300	400	500

이유 _____

_____

추론 + 연결

5 연수가 편의점에서 1000원으로 종류가 다른 간식을 2가지 사려고 할 때, 어느 것을 살 수 있는지 모두 써 보세요.

(　　,　　) 또는 (　　,　　)

추론 + 의사소통

6 오늘 영화관에 입장한 사람은 오전에 498명, 오후에 491명입니다. 오전과 오후에 영화관에 입장한 사람은 약 몇 명인지 어림셈으로 구하려고 합니다. 어림셈으로 구한 값을 찾아 ○표 하고, 어떻게 구했는지 써 보세요.

800	900	1000

LIVEWORKSHEETS

받아내림이 없는

세 자리 수의 뺄셈을 어떻게 할까요

수학 18~19쪽

공부한 날 월 일

1 수 모형을 보고 계산해 보세요.

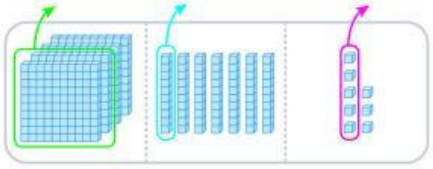

478－215＝ ☐

2 계산해 보세요.

$$\begin{array}{r} 872 \\ -\ 251 \\ \hline \end{array} \qquad \begin{array}{r} 497 \\ -\ 163 \\ \hline \end{array} \qquad 589-324 \qquad 630-130$$

3 계산 결과가 더 큰 것을 찾아 색칠해 보세요.

576－253　　795－452

LIVEWORKSHEETS

4 □ 안에 알맞은 수를 써넣으세요.

$$\begin{array}{r} 4\ 1\ 9 \\ -\ \square\ 1\ 5 \\ \hline 2\ \square\ 4 \end{array} \qquad \begin{array}{r} 7\ 8\ 6 \\ -\ 6\ \square\ 5 \\ \hline 1\ 7\ \square \end{array}$$

5 어린이 도서관에 위인전이 348권 있습니다. 이 중에서 142권을 빌려 갔다면 남은 위인전은 몇 권인가요?

식 _____ 답 _____ 권

문제해결 + 추론

6 도영이가 생각한 수를 구해 보세요.

( )

LIVEWORKSHEETS

받아내림이 한 번 있는

세 자리 수의 뺄셈을 어떻게 할까요

수학 20~21쪽

공부한 날 월 일

1 수 모형을 보고 계산해 보세요.

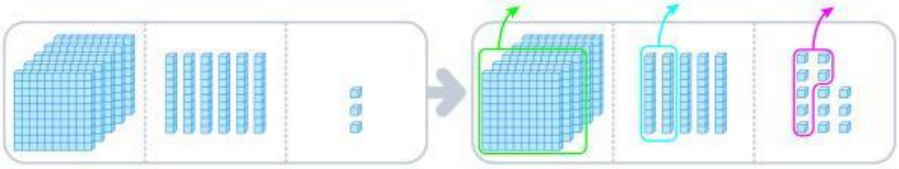

$563-327=$ ☐

2 계산해 보세요.

$$\begin{array}{r} 651 \\ -\ 137 \\ \hline \end{array} \qquad \begin{array}{r} 748 \\ -\ 275 \\ \hline \end{array} \qquad 542-236 \qquad 954-483$$

3 빈칸에 두 수의 차를 써넣으세요.

839	371

473	159

LIVEWORKSHEETS

4 두 테이프의 길이의 차는 몇 cm인가요?

423 cm

361 cm

식 _____ 답 _____ cm

5 과일 가게에 사과가 458개, 배가 167개 있습니다. 사과는 배보다 몇 개 더 많은가요?

식 _____ 답 _____ 개

과정중심 **6** 문제해결 + 추론 + 의사소통

□ 안에 들어갈 수 있는 세 자리 수 중에서 가장 작은 수를 구하려고 합니다. 풀이 과정을 쓰고, 답을 구해 보세요.

$$831-319<\square$$

풀이 _____

_____

답 _____

LIVEWORKSHEETS

받아내림이 두 번 있는

세 자리 수의 뺄셈을 어떻게 할까요

수학 22~23쪽

공부한 날 월 일

1 수 모형을 보고 계산해 보세요.

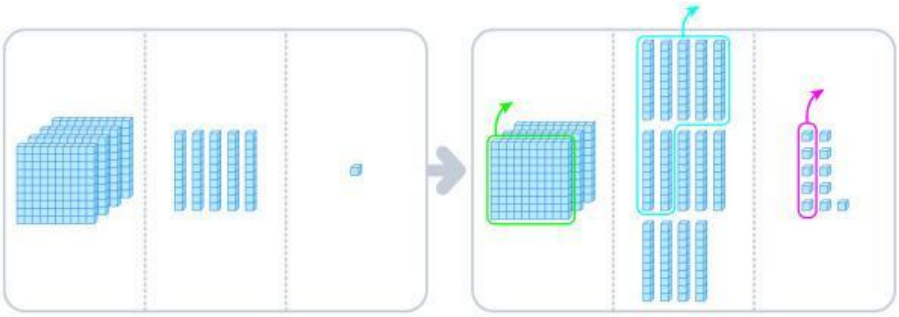

451−175= ☐

2 계산해 보세요.

$$\begin{array}{r} 542 \\ -\ 357 \\ \hline \end{array} \qquad \begin{array}{r} 713 \\ -\ 469 \\ \hline \end{array}$$

825−387

630−254

3 식에서 ● 안의 수 13이 실제로 나타내는 수를 써 보세요.

$$\begin{array}{r} {\scriptstyle 8\ \ 13\ \ 10} \\ \cancel{9}\ \cancel{4}\ 5 \\ -\ 3\ 7\ 8 \\ \hline 5\ 6\ 7 \end{array}$$

(　　)

LIVEWORKSHEETS

4 초콜릿 가게에 초콜릿이 904개 있습니다. 초콜릿을 115개 팔았다면 남은 초콜릿은 몇 개인가요?

식 _____ 답 _____ 개

문제해결 + 추론

5 두 수를 골라 두 수의 차가 가장 큰 식을 만들어 계산해 보세요.

835	921	746	357

□ − □ = □

문제해결 + 추론 + 정보처리

6 종이 2장에 세 자리 수를 각각 써 놓았는데 한 장이 찢어져서 백의 자리 숫자만 보입니다. 두 수의 합이 820일 때, 두 수의 차를 구해 보세요.

287 5

( )

LIVEWORKSHEETS