2 Прочитай уважно текст, на місці пропуску вкажи назву органу, який виконує ту чи іншу функцію. Познач відповідною цифрою на схематичному зображенні. Яка частина травної системи відсутня на малюнку? Допиши та вкажи, яку функцію вона виконує.

Подрібнена їжа через _____ ☐ потрапляє до _____ ☐ де за цей час вона частково перетравлюється. Звідти їжа надходить у _____ ☐ де остаточно перетравлюється . За допомогою жовчі, яку виробляє _____ ☐, і травних соків, їжа перетворюється на поживні речовини. Неперетравлені рештки надходять у _____ ☐, а з неї через _____ ☐, виводяться назовні.

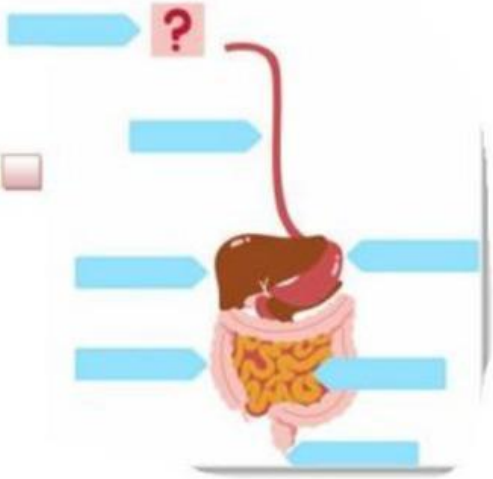

2 Установи відповідність між частинами кровоносної системи та їх характеристиками.

рідка частина крові

переміщують кров

забезпечує рух крові по судинам

тканина,яка складається з рідкої частини та особливих клітин

серце та судини

2 Попрацюй з малюнком. Прочитай уважно твердження, доповни малюнок необхідними позначеннями.

1. Орган, який розміщений за носовою порожниною.
2.орган, який розміщений між трахеєю та легенями.
3.У цьому органі відбувається газообмін.
4.В цій частині повітря очищається та зволожується.
5. В цій частині внаслідок запальних процесів виникає захисний рефлекс — кашель.

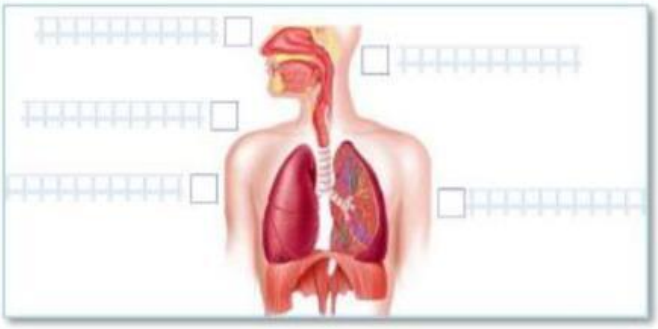

LIVEWORKSHEETS

1 Поєднай елементи скелета з їх розташуванням на малюнку.

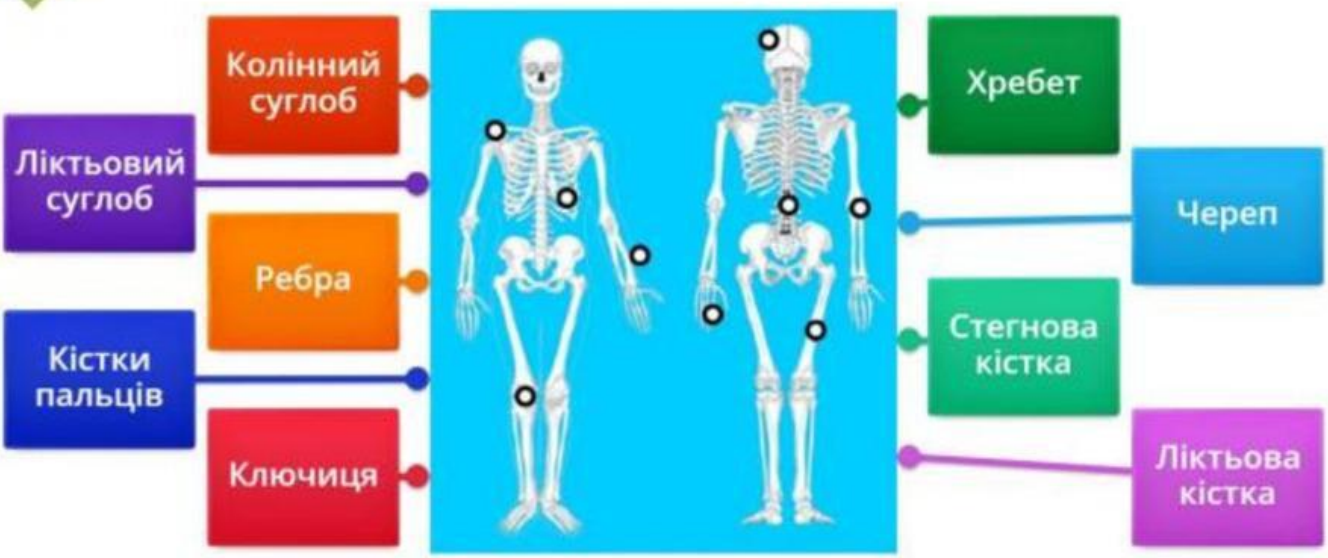

LIVEWORKSHEETS

2 Доповни малюнок необхідними позначеннями. Скористайся підказками.

1. Жувальні м'язи
2. Біцепс
3. Чотириголовий м'яз стегна
4. Трицепс
5. Прямий м'яз живота
6. Великий грудний м'яз

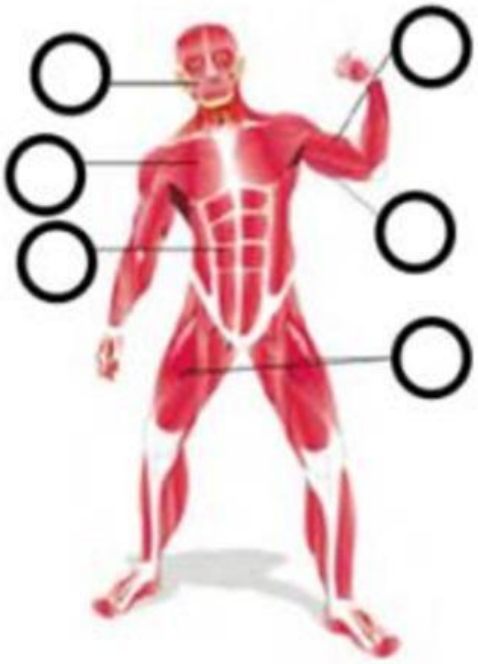

LIVEWORKSHEETS