# REPÀS DEL TEMPS I DINERS



Escriu l'hora com es llig al rellotge analògic:



LIVEWORKSHEETS

**1** **Expresa en la unidad que se indica.**

En minutos

- 2 h 14 min
- 3 horas y cuarto
- 1 hora y media

En segundos

- 3 min 9 s
- Un cuarto de hora y 7 s
- Media hora y 5 s

**2** **Calcula y contesta.**

¿Cuántos minutos son 720 segundos?

¿Cuántas horas son 1.080 minutos?

¿Cuántas horas, minutos y segundos son 12.610 segundos?

**3** **Resuelve.**

La película duró 228 minutos.

- ¿Cuántas horas y minutos duró?
- Si la película comenzó a las 16:15, ¿a qué hora terminó?

**PENSA**

Observa molt bé la taula!

| Equivalencias entre unidades de tiempo | |
|---|---|
| 1 minuto | 60 segundos |
| 1 hora | 60 minutos |
| 1 día | 24 horas |
| 1 semana | 7 días |
| 1 mes | 30 días (ó 31) |
| 1 trimestre | 3 meses |
| 1 cuatrimestre | 4 meses |
| 1 semestre | 6 meses |
| 1 año | 365 días |
| 1 bienio | 2 años |
| 1 lustro | 5 años |
| 1 década | 10 años |
| 1 siglo | 100 años |

LIVEWORKSHEETS

# Ara intenta-ho tú!

3 trimestres= _____ mesos

2 semestres= _____ mesos

4 quatrimestres= _____ mesos

6 semestres= _____ mesos

12 anys = _____ mesos

11 lustros= _____ anys

15 dècades = _____ anys

6 bienis = _____ anys

5 segles = _____ anys

20 segles = _____ anys

# Continua la sèrie!

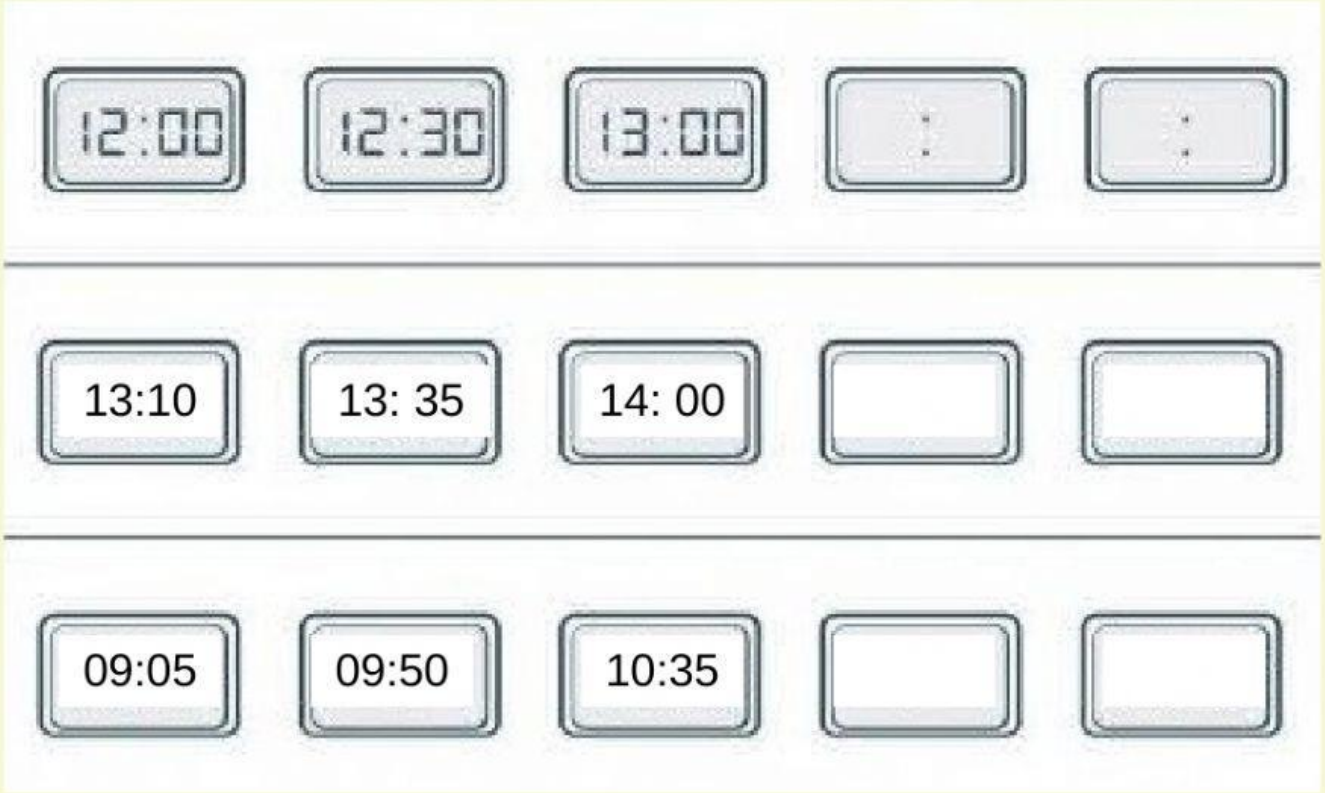

Ja has acabat!

LIVEWORKSHEETS