WELLSPRING INTERNATIONAL BILINGUAL SCHOOL

Happy Journey

PHIẾU THI ĐẤU – GÓI SỐ: 5

NHÓM: ..... - LỚP: .....

1 Chọn đáp án đúng

Phân số nào chỉ phần đã tô màu cam trong hình dưới đây?

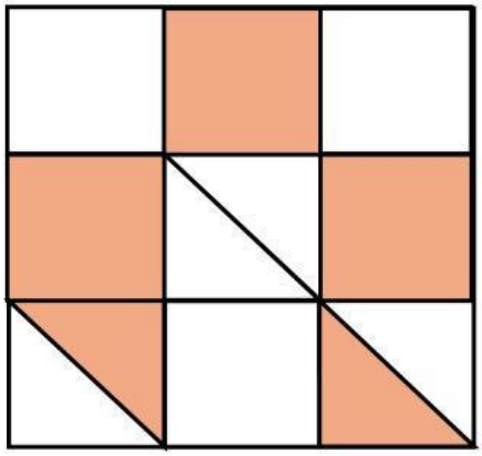

A. $\frac{4}{5}$

B. $\frac{4}{9}$

C. $\frac{2}{3}$

D. $\frac{5}{9}$

2 Chọn đáp án đúng

A. 50 tuổi

B. 37 tuổi

C. 38 tuổi

D. 48 tuổi

Tìm tuổi của mẹ

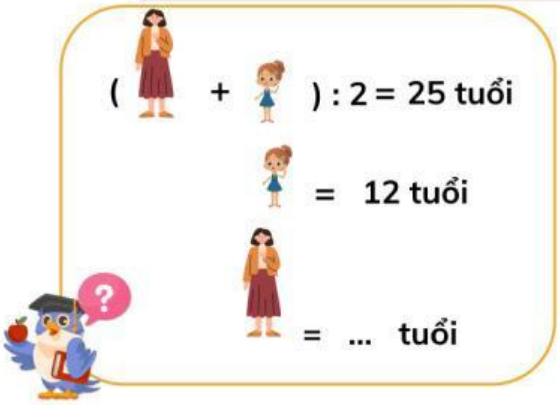

3 Tìm bộ phận trạng ngữ của câu sau

Dưới bóng tre xanh, đã từ lâu đời, người dân Việt Nam dựng nhà dựng cửa, vỡ ruộng khai hoang.

Trạng ngữ của câu trên là:

.....

LIVEWORKSHEETS

PHIẾU THI ĐẤU – GÓI SỐ: 5

NHÓM: ..... - LỚP: .....

4 Kéo đáp án đúng vào chỗ chấm

Trong 3 lần chống giặc Nguyên Mông, quân ta đều đã sử dụng kế sách .....

- Vườn không nhà trống
- Dựng cọc trên sông
- Dương đông kích tây

5 Viết chữ cái thích hợp

Nhạc lý: Kí hiệu chữ cái Latin tương ứng với tên gọi của nốt nhạc dưới đây là gì?

Đáp án chữ .....



LIVEWORKSHEETS