LKPD

SISTEM INDERA MANUSIA

LIVEWORKSHEETS

Name:

Kelas:

Perhatikan video berikut ini!

Perhatikan materi presentasi di samping !

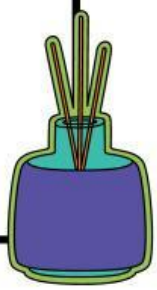

Bacalah materi disamping sampai kamu paham !

LIVEWORKSHEETS

Nama :

Kelas :

URUTAN PANCASILA

Isilah kolom berikut dengan jawaban yang benar !

	NAMA	FUNGSINYA
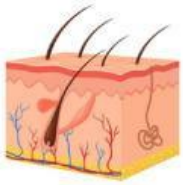		
		

LIVEWORKSHEETS

Bacalah dengan seksama cerita di bawah ini. Berdasarkan cerita tersebut, jawablah pertanyaan yang diberikan.

Di sebuah desa kecil yang tersembunyi di tengah hutan, tinggal seorang anak laki-laki bernama Adam. Adam sangat penasaran dengan dunia di sekitarnya, terutama tentang bagaimana manusia dapat merasakan dunia melalui indera mereka. Suatu hari, Adam bertemu dengan seorang penyihir tua yang memberinya kekuatan untuk menjelajahi dunia melalui indera manusia.Dengan kekuatan baru itu, Adam mulai petualangan yang menakjubkan. Dia merasakan aroma bunga yang harum di taman bunga, mendengar nyanyian burung di hutan, melihat cahaya mentari terbenam di ufuk barat, merasakan lembutnya embusan angin di pipinya, dan bahkan merasakan getaran dari langkah kaki kuda yang berlalu di jalanan desa.

Namun, petualangan Adam tidaklah mudah. Dia harus melewati berbagai rintangan dan ujian untuk menguji kemampuannya dalam mengenali setiap indera manusia. Akhirnya, setelah menjalani serangkaian petualangan yang menegangkan, Adam berhasil menemukan kebenaran tentang kekuatan luar biasa yang dimiliki oleh sistem indera manusia.

1. Apa yang membuat Adam tertarik untuk menjelajahi dunia melalui indera manusia?

_____

2. Sebutkan salah satu pengalaman yang dialami Adam ketika menggunakan indera penciumannya?

_____

3. Apa yang dapat Adam lihat saat cahaya mentari terbenam di ufuk barat?

_____

LIVEWORKSHEETS

Ayo Belajar

Pilihlah jawaban dengan benar dan tepat !

4. Apa yang memungkinkan manusia dapat membedakan berbagai macam bau adalah....

5. Di mana terletak pusat penciuman pada manusia....

- ◯ Mata
- ◯ Kaki
- ◯ Hidung
- ◯ Mulut

6. Bagian kulit yang terluar dan paling tipis disebut sebagai...

- ◯ Dermis
- ◯ Epidermis
- ◯ Subkutan
- ◯ Folikel

LIVEWORKSHEETS

Temukan kata kata di bawah ini dengan benar !

M A T A W A S S U L P
L E I D E R K A T E O
I K A B U U D H D A R
N A S A L N H A I S H
T R A E Y E O I O N L
E A R S R G E A R N R
S O M T N N S A E A E
K I N T A H S O T M N
I H U E S I D T A E R
S E E R A S M I T G N

Kata yang bisa dicari:

1. MATA
2. HIDUNG
3. TELINGA
4. LIDAH
5. KULIT
6. SISTEM
7. ORGAN
8. INDERA
9. MANUSIA
10. SENSORI

LIVEWORKSHEETS

Jawablah Semua Pertanyaan ini dengan Benar !

7. Sebutkan/jawab fungsi bagian sistem indera berikut ini dengan voice

IRIS PADA MATA BERFUNGSI UNTUK ?

PUPIL BERFUNGSI UNTUK?

FUNGSINDARI RUMAH SIPUT PADA TELINGA YAITU?

8. Geser Jawaban yang tepat pada setiap soal berikut !

APA YANG MEMBUAT KULIT KITA MERASAKAN SENTUHAN?

BERFUNGSI UNTUK MELIHAT YAITU ?

SARAF

MATA

Pasangkan pengamalan nilai Pancasila dengan sila yang sesuai

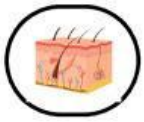

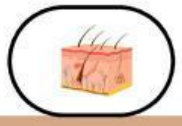

LIVEWORKSHEETS

ASESMEN DIRI NON-KOGNITIF

Berilah tanda pada jawaban yang sesuai dengan pengalaman dan pemikiranmu secara jujur

Pertanyaan	Ya	Tidak
Apakah kamu senang pergi ke sekolah setiap hari?		
Apakah kamu melakukan kegiatan favoritmu di sekolah?		
Apakah kamu merasa senang saat berada di dalam kelas?		
Apakah kamu merasa nyaman dengan teman-teman sekelasmu?		
Apakah kamu ikut dalam kegiatan ekstrakurikuler di sekolah?		
Apakah kamu mudah memahami pelajaran di sekolah?		
Apakah kamu merasa mendapat dukungan & perhatian dari guru-gurumu?		
Apakah ada hal yang membuatmu cemas ketika di sekolah?		
Apakah kamu merasa memiliki hubungan baik dengan keluargamu?		
Apakah kamu merasa bahagia ketika berada di rumah bersama keluarga?		

LIVEWORKSHEETS