# TEMA 7
# Subtema 1
# Pembelajaran 1

# SOAL EVALUASI

LIVEWORKSHEETS

**Nama** : .....

**No. Absen** : .....

Berilah tanda silang (X) pada jawaban yang benar!

1. Kalimat yang berisi pokok pikiran utama dan menjadi dasar untuk mengembangkan paragraph disebut .....
   a. Kalimat penjelas
   b. Kalimat utama
   c. Pokok pikiran
   d. Kesimpulan

2. Tempe adalah salah satu hasil teknologi pangan. Tempe berasal dari kedelai. Tempe dapat dibuat menjadi berbagai olahan makann seperti keripik tempe, tempe goreng, sayur, dan lainnya.

   Hal utama yang dibahas dalam paragraf di atas adalah .....
   a. Tempe sebagai hasil pengolahan teknologi pangan
   b. Olahan tempe
   c. Cara mebuat tempe
   d. Olahan kedelai

3. Berikut produk olahan daging sapi adalah.....
   a. Kroket
   b. Pasta
   c. Susu
   d. Kornet

4. Perhatikan kata-kata berikut!
   (1) Pengemasan
   (2) Pengawetan
   (3) Sehat
   (4) Gizi

LIVEWORKSHEETS

Kata yang sering dijumpai dalam teks tentang teknologi makanan adalah nomor .....

a. (1) dan (2)
b. (1) dan (3)
c. (2) dan (3)
d. (3) dan (4)

5. Arti kata pangan adalah .....
   a. Gizi
   b. Makanan
   c. Buah-buahan
   d. Olahan

Tentukan luas permukaan gambar soal nomor (6), (7), dan (8)!

6.



7.



8.



Luas permukaan gambar nomor (6) adalah .....satuan.

Luas permukaan gambar nomor (7) adalah .....satuan.

Luas permukaan gambar nomor (8) adalah .....satuan.

Tentukan luas permukaan gambar yang diarsir soal nomor (9) dan (8)!

9.



10.

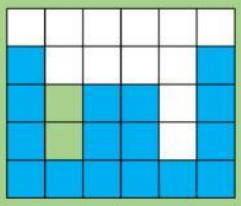

Luas permukaan gambar nomor (9) adalah .....satuan.

Luas permukaan gambar nomor (10) adalah .....satuan.

LIVEWORKSHEETS