МАТЕМАТИКА

1. Открий правилото, по което са оцветени фигурите, и **избери коя е липсващата**.

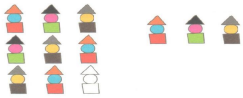

2. В бутилка от 1 литър има 300 мл вода. Колко ще бъде количеството вода в бутилката, ако налееш в нея още 800 мл вода?

3. Термометър показва 17°C. Колко градуса ще показват 3 термометъра?

4. Кой може да каже: „Ти си моят баща, но аз не съм твоят син.“?

5. В кибритена кутия има само 1 клечка. Ако влезеш в тъмна стая със евещ, газена лампа и печка на дърва, кое ще запалиш първо? Отгади отговора.

6. Сборът на числата в първата колона е равен на 18, а във втората – на 21. Как може да промениш само едно от квадратчетата с числа така, че сборовете в двете колони да са равни?

+	1	3
+	2	4
+	7	9
	8	5
	18	21

7. Във всяко синьо квадратче е написана цифра.

8 3 : 2 = 1 7

Размести цифрите в празните квадратчета така, че да е вярно.

□□ : □ = □□

8. Попълни липсващите знаци „+“, „–“, „·“ и „:“.

а) (33 ◯ 33 ◯ 33 ◯ 33) ◯ 3 ◯ 3 = 41

+ – · :

9. Златотърсачи открили 9 къса злато, които тежат съответно 1г 2г 3г 4г 5г 6г 7г. Те имали 4 кутии, в които поставили златото така, че във всяка кутия да има еднакво количество злато. Как са разпределили златото?



10. На училищна екскурзия отишли 102 ученици. Те били разпределени в 3 автобуса. При първото спиране за почивка 8 ученици от първия автобус се преместили във втория, а 7 ученици от втория автобус се преместили в третия. Така във всеки автобус имало по равен брой ученици. По колко ученици е имало във всеки автобус преди спирането за почивка?

102 ученици

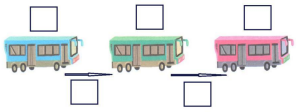

по равен брой ученици

LIVEWORKSHEETS