Завдання 1 **Будова річки** **Визначити елементи будови річки**

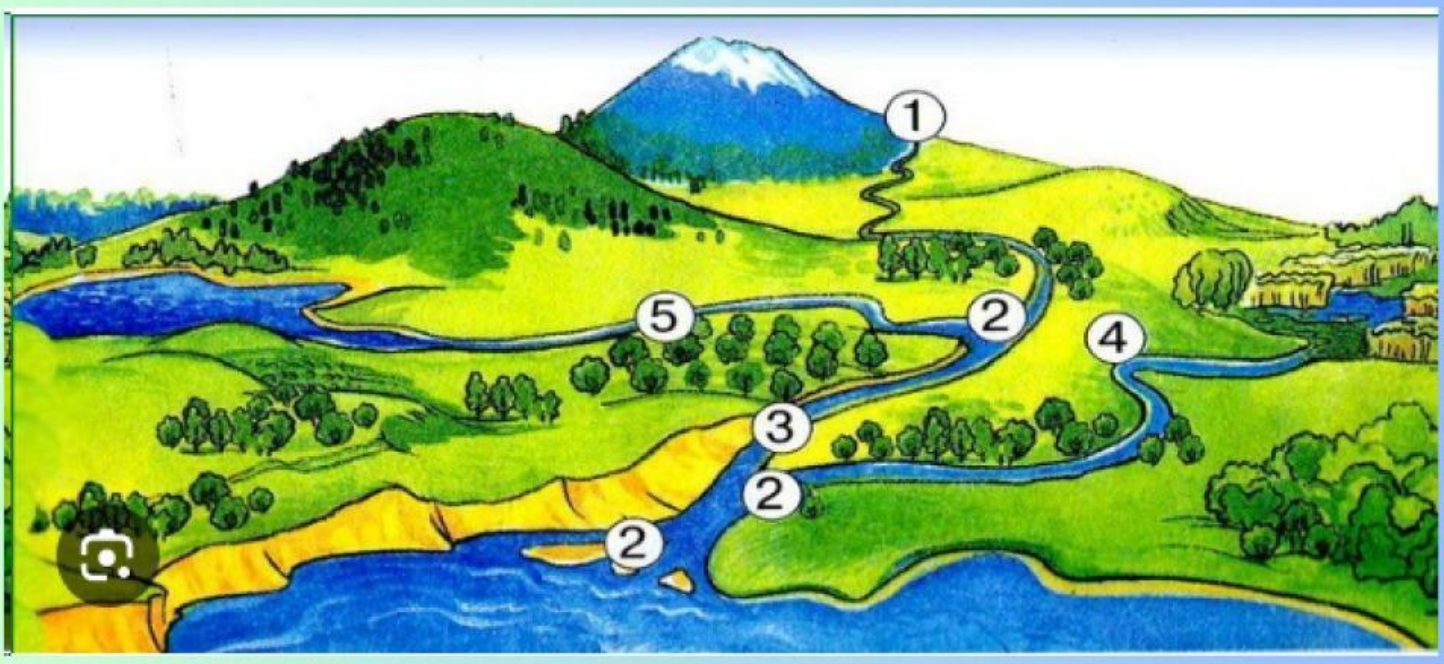

Витік **Гирло** **права притока** **ліва притока** **русло**

Завдання 2.

Розгляньте таблицю і встановіть відповідність між елементами будови річки та визначеннями. Запам'ятайте їх!

Визначення	Елементи будови річки
А Басейн річки	1. Місце, де річка впадає в іншу річку, море чи океан
Б Вододіл	2. Місце, де починається річка
В Витік	3. Головна річка разом із притоками
Г Річкова система	4. Площа, з якої річка разом із притоками збирає свої води
Д Гирло	5. Межа між річковими басейнами
Е Річкова долина	6. Заглибина в рельєфі, на дні якої розташоване річище

Завдання 3. Будова річкової долини

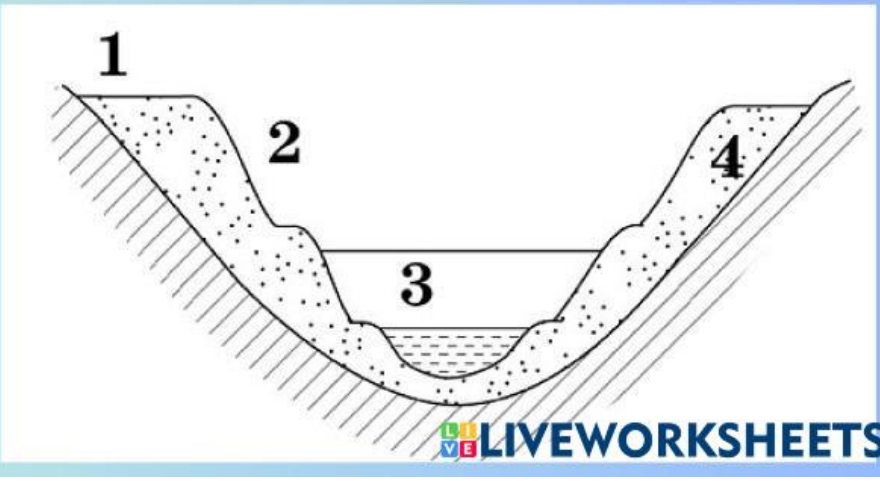

LIVEWORKSHEETS

Завдання 4. Встановіть відповідність. Материки і океани

Атлантичний океан.

Антарктида.

Південна Америка.

Індійський океан.

Тихий океан.

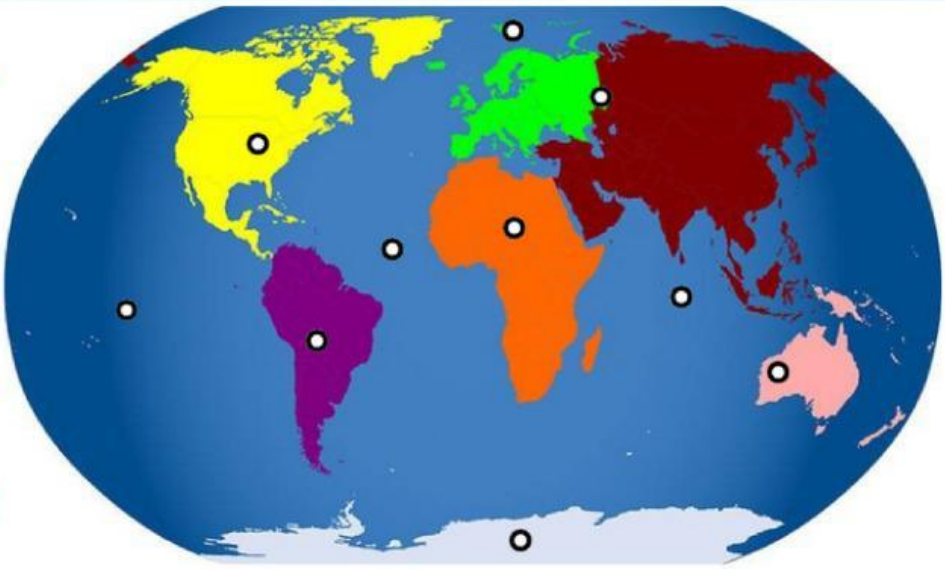

Північний льодовитий океан.

Євразія.

Північна Америка.

Африка.

Австралія.

LIVEWORKSHEETS