Ayo Belajar Matematika!
Pecahan Senilai

kelas IV Semester 1

Nama :

No. Absen :

By : AMIRAH NADA PERTIWI

LIVEWORKSHEETS

Capaian Pembelajaran

Menjelaskan pecahan-pecahan senilai dengan gambar dan model konkret

Tujuan Pembelajaran

1. **Peserta didik dapat menentukan nilai pecahan dengan benar sesuai gambar.**
2. **Peserta didik dapat merincikan dua unsur pecahan dengan benar.**
3. **Peserta didik dapat menganalisis pecahan senilai sesuai gambar.**

LIVEWORKSHEETS

Kegiatan 1

1.Ayo kita simak video berikut ini!

2. Menentukan nilai pecahan

Cocokkanlah gambar dan nilai pecahan secara tepat!

$\frac{1}{6}$

$\frac{2}{5}$

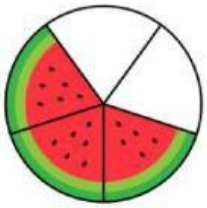

$\frac{1}{2}$

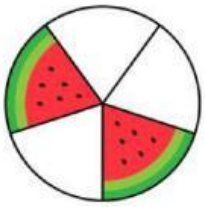

$\frac{3}{5}$

LIVEWORKSHEETS

Kegiatan 2

Rumus pecahan

$$\text{Pecahan} = \frac{\text{Pembilang}}{\text{Penyebut}}$$

contoh:

$$= \frac{2}{4}$$

$2 \longrightarrow$ **Pembilang**

$4 \longrightarrow$ **Penyebut**

Tentukan nilai pecahan dan rincikan unsur unsur pecahan

—

Pembilang :

Penyebut :

—

Pembilang :

Penyebut :



—

Pembilang :

Penyebut :

—

Pembilang :

Penyebut :

LIVEWORKSHEETS

Kegiatan 3

1.Ayo kita simak video berikut ini!

2. Mencari Pecahan Senilai

1). Isilah titik-titik di bawah ini dengan bilangan yang tepat agar pecahannya menjadi senilai!

$\frac{2}{3} = \frac{\quad}{6}$ $\qquad$ $\frac{5}{3} = \frac{\quad}{\square}$

$\frac{4}{5} = \frac{\quad}{10}$ $\qquad$ $\frac{1}{2} = \frac{\quad}{\square}$

LIVEWORKSHEETS

2). Isilah titik-titik di bawah ini dengan bilangan yang tepat agar pecahannya menjadi senilai!

a .

dan

b.

dan

c.

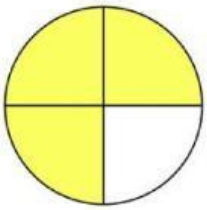

dan

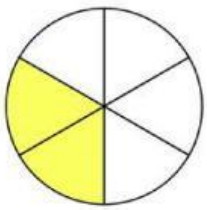

LIVEWORKSHEETS