โรงเรียนพระกุมารเยซูโนนสมบูรณ์ อำเภอบ้านแฮด จังหวัดขอนแก่น

ข้อสอบกลุ่มสาระการเรียนรู้คณิตศาสตร์ ชั้นประถมศึกษาปีที่ 4 (ฉบับที่ 2) ปลายภาคเรียนที่ 2 ปีการศึกษา 2566

ข้อสอบแบบเลือกตอบ จำนวน 20 ข้อ 20 คะแนน เวลา 50 นาที

ชื่อ – สกุล.....ชั้น.....เลขที่.....

คำชี้แจง : ให้นักเรียนเลือกคำตอบที่ถูกต้องเพียงข้อเดียว

1. **72.584 อ่านว่าอย่างไร**

ก. เจ็ดสิบสองจุดห้าแปดสี่

ข. เจ็ดสิบสองจุดแปดห้าสี่

ค. เจ็ดสิบสองจุดสี่แปดห้า

ง. เจ็ดสิบสองจุดห้าแปดสี่

2. **ทศนิยมจำนวนใดมีค่าเท่ากับ 5**

ก. 5.5

ข. 0.5

ค. 0.05

ง. 5.0

LIVEWORKSHEETS

3. **ข้อใดเรียงลำดับทศนิยมจาก*<u>มากไปน้อย</u>*ได้ถูกต้อง**

ก. 4.019 4.19 4.1 4.09

ข. 4.19 4.1 4.09 4.019

ค. 4.019 4.09 4.19 4.1

ง. 4.19 4.019 4.09 4.1

4. **ข้อใดเรียงลำดับทศนิยมจาก*<u>น้อยไปมาก</u>*ได้ถูกต้อง**

ก. 0.606 0.601 0.6 6.1

ข. 0.606 0.601 6.1 0.6

ค. 0.6 0.601 0.606 6.1

ง. 0.6 0.606 0.601 6.1

5. **ทศนิยมใดมีค่ามากที่สุด**

ก. 0.89

ข. 8.09

ค. 9.08

ง. 0.089

LIVEWORKSHEETS

6. **ทศนิยมในข้อใด มีค่าเท่ากัน**

ก. 999.90 = 999.9

ข. 786.253 = 786.235

ค. 88.721 = 88.712

ง. 125.251 = 125.521

7. **96.508 เขียนในรูปกระจายได้ตามข้อใด**

ก. 9 + 6 +0.5 + 0.00 + 0.008

ข. 90 + 6 + 0.5 + 0.008

ค. 90 + 6.0.5 + 0.00 + 0.008

ง. 96 + 6.0 + 0.5 + 0.008

8. **ฟ้ามีเงิน 481.75 บาท แม่ให้เพิ่มอีก 150.25 บาท นำไปฝากธนาคาร 500 บาท ฟ้าเหลือเงินกี่บาท**

ก. 632 บาท

ข. 331.50 บาท

ค. 132 บาท

ง. 132.50 บาท

LIVEWORKSHEETS

9. **พ่อขับรถจากกรุงเทพฯ ไปพัทยาใช้น้ำมัน 25.6 ลิตร พ่อขับรถไปกลับใช้น้ำมันทั้งหมดกี่ลิตร**

ก. 27.6 ลิตร

ข. 51.2 ลิตร

ค. 52.2 ลิตร

ง. 53.2 ลิตร

10. **อนงค์ได้รับดอกเบี้ยจากธนาคาร 2,584.75 บาท นิสาได้รับดอกเบี้ยมากกว่าอนงค์ 308.50 บาท นิสาได้รับดอกเบี้ยจากธนาคารเท่าไร**

ก. 2,892.25 บาท

ข. 2,893.25 บาท

ค. 2,893.50 บาท

ง. 2,892.50 บาท

11. **มุม 75 องศา นับต่อไปอีก 15 องศา จะเป็นมุมชนิดใด**

ก. มุมตรง

ข. มุมแหลม

ค. มุมฉาก

ง. มุมป้าน

LIVEWORKSHEETS

12. “มุมที่มีขนาดใหญ่กว่าหนึ่งมุมฉาก แต่เล็กกว่าสองมุมฉาก” จะได้มุมชนิดใด

ก. มุมแหลม

ข. มุมฉาก

ค. มุมป้าน

ง. มุมตรง

13. สร้างมุมที่มีขนาดใหญ่กว่า 155 อยู่ 45 จะได้มุมใด

ก. มุมตรง

ข. มุมกลับ

ค. มุมฉาก

ง. มุมป้าน

14. มุมใดเป็นมุมตรง

ก. มีขนาด 90 องศา

ข. มีขนาด 180 องศา

ค. มีขนาดใหญ่กว่า 180 องศา

ง. มีขนาดใหญ่กว่า 90 องศา แต่เล็กกว่า 180 องศา

LIVEWORKSHEETS

15. สัญลักษณ์แสดงรูปนี้ ภ ม เขียนอย่างไร

ก. $\overrightarrow{ภม}$

ข. $\overleftarrow{ภม}$

ค. $\overrightarrow{มภ}$

ง. $\overleftarrow{ภม}$

16. 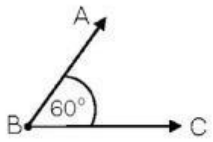

จากรูปเป็นมุมชนิดใด

ก. มุมแหลม

ข. มุมฉาก

ค. มุมป้าน

ง. มุมกลับ

17. รูปสี่เหลี่ยมมุมฉากแบ่งออกเป็นกี่ชนิด

ก. 1 ชนิด

ข. 2 ชนิด

ค. 3 ชนิด

ง. 4 ชนิด

LIVEWORKSHEETS

18. 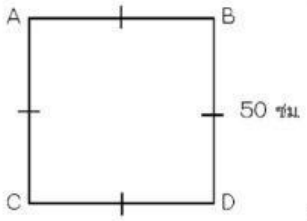

รูปสี่เหลี่ยมจัสตุรัสนี้มี<u>ความยาวรอบรูป</u>กี่เซนติเมตร

ก. 50 เซนติเมตร

ข. 100 เซนติเมตร

ค. 150 เซนติเมตร

ง. 200 เซนติเมตร

19. 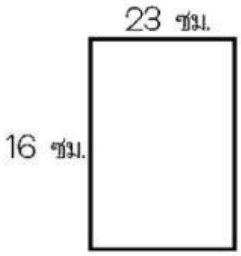

<u>พื้นที่</u>รูปสี่เหลี่ยมผืนผ้านี้ มีพื้นที่กี่ตารางเซนติเมตร

ก. 16 ตารางเซนติเมตร

ข. 23 ตารางเซนติเมตร

ค. 368 ตารางเซนติเมตร

ง. 638 ตารางเซนติเมตร

20. สูตรการหาพื้นที่รูปสี่เหลี่ยมผืนผ้าคืออะไร

ก. ความกว้าง × ความยาว

ข. ความยาวของด้าน × ความยาวของด้าน

ค. $\frac{1}{2}$ × ฐาน × สูง

ง. πr^2

LIVEWORKSHEETS