(اختبر نفسك)

الفصل الثالث: المضلعات المتشابهة

الاسم: الصف:

اجيبي بصح او خطأ

معامل التشابه بين مضلعين متشابهين يسمي: نسبة التشابة	
المضلعات المتشابهة لها الشكل نفسه والقياس نفسها	

اختاري الاجابة الصحيحة

معامل التشابه في الشكل المجاور يساوي في MNPQ~XYZW 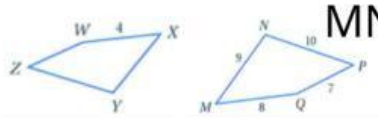		
5	2	3
اوجدي قيمة x وأطوال الأضلاع المجهولة في المثلث: 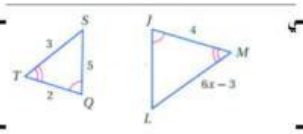		
2.5	2	1.5
في الشكل المجاور $\Delta ABC \sim \Delta DEF$ محيط ΔDEF 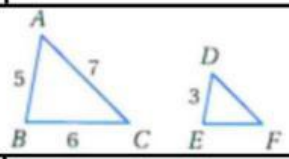		
11	10.8	9

عمل الطالبات:

نورة البلوشي

نجوان العنتر

رغد الحكم

بإشراف المعلمة امينه رجب

LIVEWORKSHEETS