Травлення

1.<u>Встановіть відповідність</u>

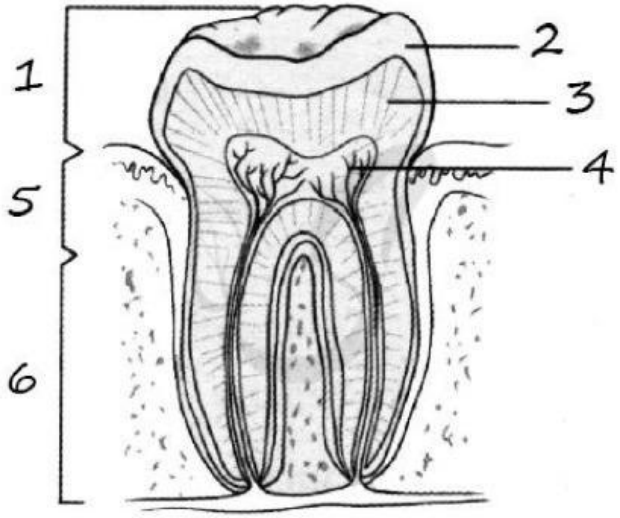

А) пульпа
Б) захист основної тканини зуба 1.
В) коронка 2.
Г) дентин 3.
Д) покриває коронку 4.
Е) опорна функція

2<u>Встановіть відповідність</u>

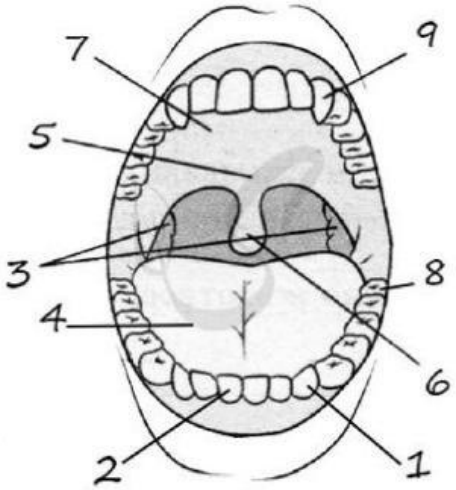

LIVEWORKSHEETS

А) відкушування їжі

Б) перемішування їжі та ковтання

В) язичок – подовжений відросток

Г) розривання та утримання їжі

Д) захист від інфекції

<u>3Якою цифрою на малюнку є частина ротової порожнини, яка служать для перетирання їжі?</u>

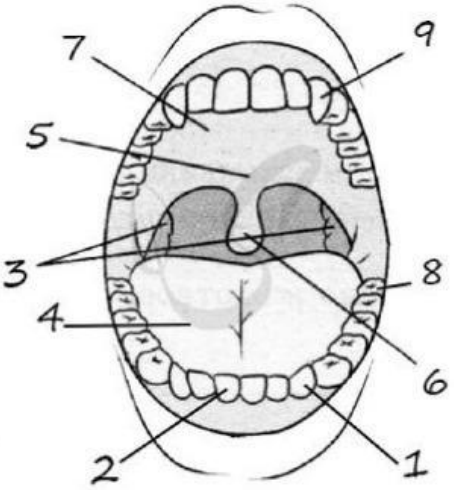

<u>4. Встановіть відповідність:</u>

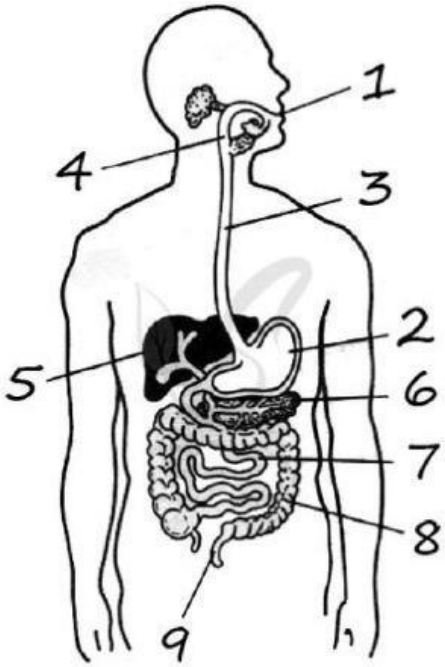

LIVEWORKSHEETS

А) перетравлення білків молока
Б) створення кислого середовища
В) сприйняття смаку та температури їжі
Г) розщеплення крохмалю до моносахаридів
Д) розщеплення білків до поліпептидів
Е) знезараження їжі за допомогою лізоциму

1.
2.

5.Якою цифрою на малюнку позначено вид м'язової тканини, яка переважно складає верхню частину стравоходу?

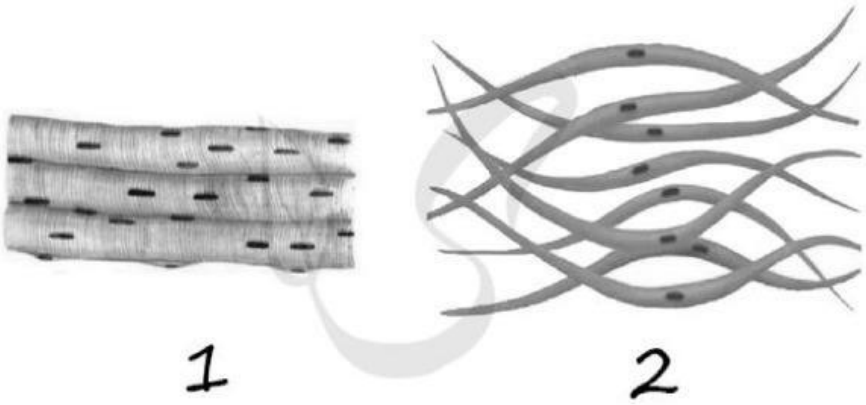

6. Встановіть відповідність:

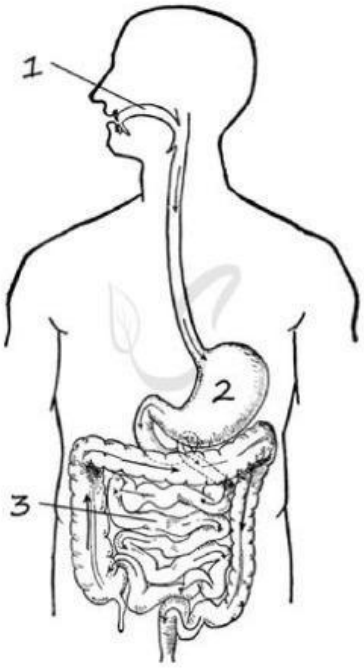

LIVEWORKSHEETS

А) механічна обробка їжі
Б) розщеплення жирів
В) всмоктування амінокислот, глюкози, жирних кислот
Г) виділення хлоридної кислоти
Д) початок перетравлення вуглеводів
Е) початок перетравлення білків

1.
2.
3.

7.Якою цифрою на малюнку є орган людини, який виробляє шлунковий сік?

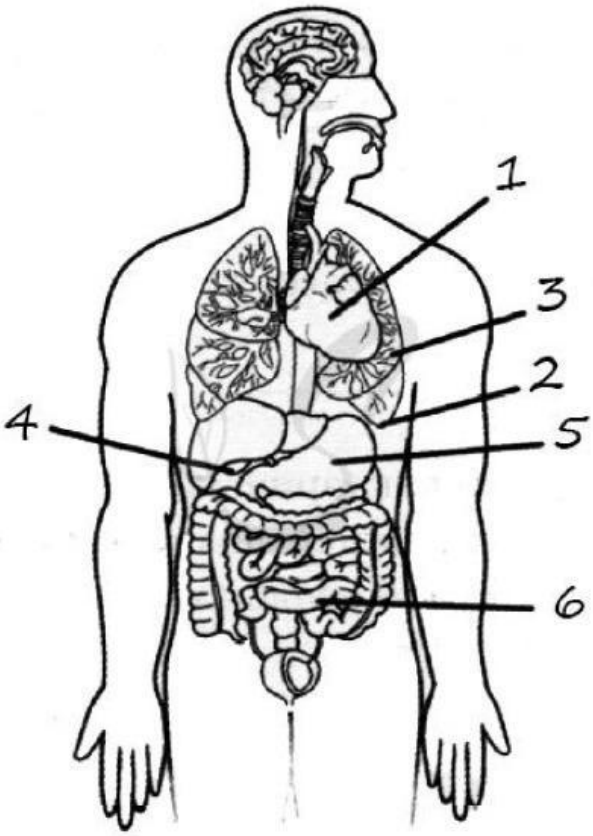

8. Встановіть відповідність:

LIVEWORKSHEETS

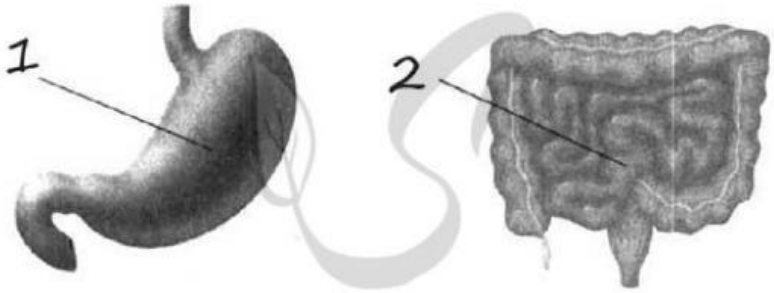

А) розщеплення білків до коротких пептидів за допомогою пепсину
Б) емульгація ліпідів жовчними кислотами
В) розщеплення вуглеводів до моносахаридів за допомогою амілази Г) розщеплення пептидів до амінокислот за допомогою трипсину
Д),є кислота

1.
2.

9.Якою цифрою на малюнку є частина травної системи, що виділяє ліпазу?

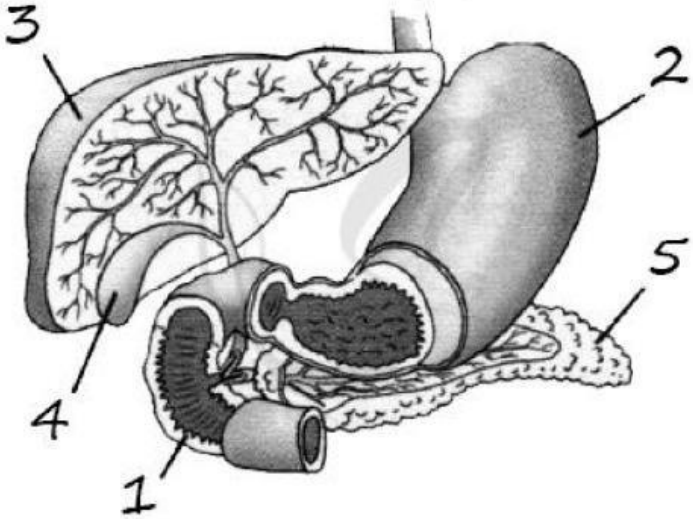

LIVEWORKSHEETS

10.Якою цифрою на малюнку є орган, секрет якого емульгує жири?

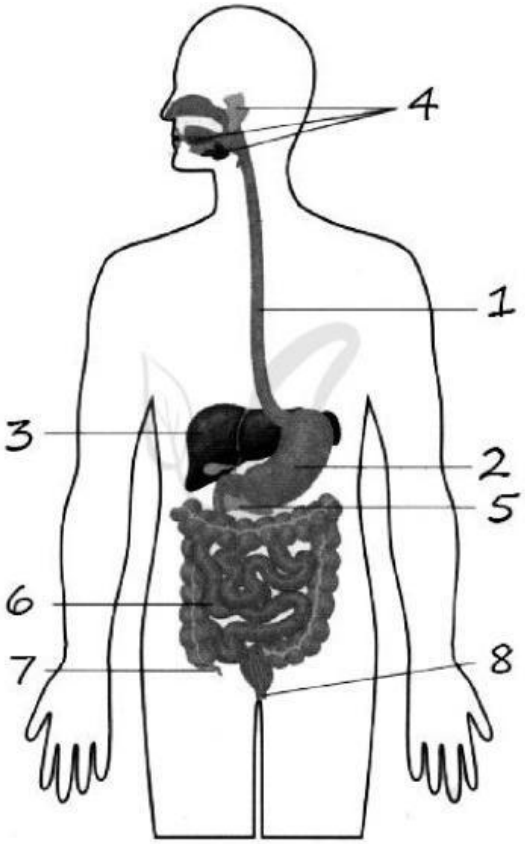

11. Якою цифрою на малюнку є структура, що виділяє ферменти на всі типи поживних речовин?

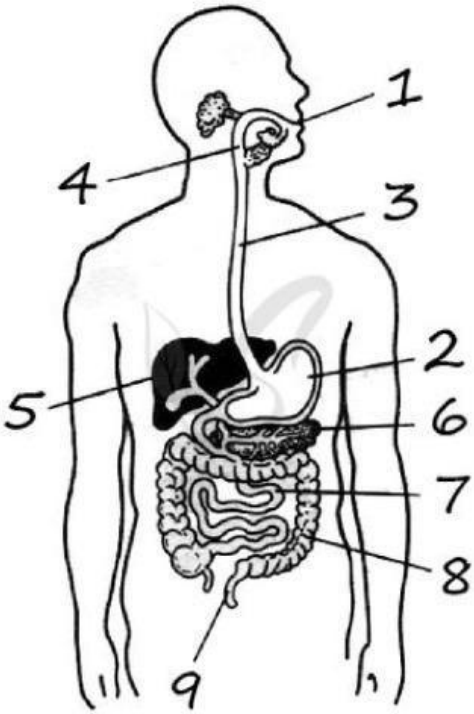

LIVEWORKSHEETS