Tuần 25

Rèn Toán

Câu 1: Độ dài của cây thước là:



A. 12cm. **B.** 13cm.

C. 14cm. **D.** 15cm.

Câu 2: Số thích hợp cần điền vào chỗ chấm lần lượt là.

71; 72;...;...;75

A. 71;73 **B.** 72; 73

C. 73; 74 **D.** 74; 75

Câu 3: Con vật nào thấp nhất?



A. chó. **B.** chuột.

C. hươu cao cổ. **D.** lợn.

Câu 4: Số 70 gồm

A. 7 chục và 0 đơn vị. **B.** 7 chục và 10 đơn vị.

C. 0 chục và 7 đơn vị. **D.** 7 chục và 0 chục.

LIVEWORKSHEETS

Tuần 25

Rèn Toán

Câu 1: Đánh kỹ hiệu chữ cái theo yêu cầu sau.

Đồ vật nào cao hơn ? C Đồ vật nào thấp hơn ? T

☐ ☐ ☐ ☐

Câu 2: Độ dài quyển vở là .....

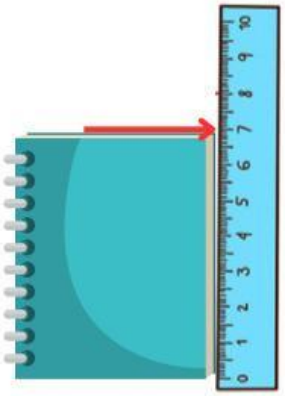

Câu 3: Xem tranh rồi trả lời câu hỏi:

Linh

Sơn

Minh

Vy

Tuấn

- Bạn cao nhất là.....
- Bạn thấp nhất là .....
- Hai bạn cao bằng nhau là ....., ...
- Bạn Linh thấp hơn những bạn

  ....., ..., ...

LIVEWORKSHEETS