ESCUELA DE EDUCACIÓN BÁSICA
"EDUARDO KINGMAN"

Sibambe # 510 y Ambato
2-154-409

CALIFICACIÓN

ASIGNATURA: ESTUDIOS SOCIALES AÑO BÁSICO: 2DO A y B

NOMBRE: _____

FECHA: _____

EVALUACIÓN CORRESPONDIENTE AL SEGUNDO QUIMESTRE

FIRMA DEL PROFESOR

1. **Arrastra los nombres de las REGIONES del Ecuador según corresponda. (1 pts.)**

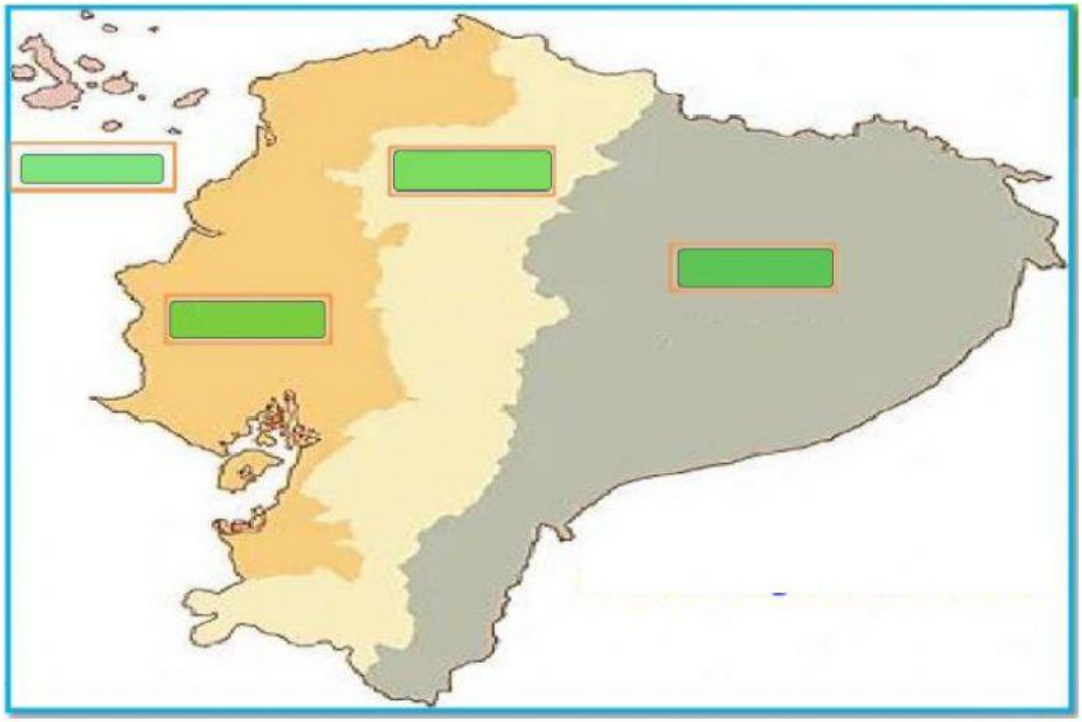

COSTA

SIERRA

ORIENTE

GALÁPGOS

2. **Selecciona la opción correcta para las siguientes preguntas. (1.50 pt.)**

a. La capital del Ecuador es:

GUAYAQUIL | COLOMBIA | QUITO

b. Ecuador está atravesado por una cadena de montañas denominada:

COTOPAXI | CORDILLERA DE LOS ANDES | QUITO

c. Ecuador está ubicado en:

AMÉRICA DEL SUR | COLOMBIA | QUITO

LIVEWORKSHEETS

3. **Une con líneas las imágenes con los nombres de las dependencias de la escuela según corresponda. (1.50pt)**

CANCHA

BAR

DIRECCIÓN

SALA DE COMPUTACIÓN

AULA

4. **Escribe la palabra Urbana o Rural según corresponda en cada imagen. (1.50 pts)**

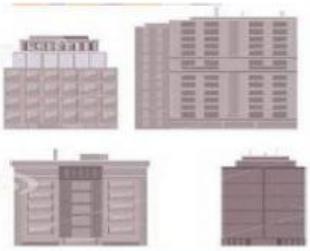



5. **Escribe en los casilleros los días que asistes a la escuela. (0.75pts.)**

Martes

Jueves

LIVEWORKSHEETS

6. **Arrastra los límites del Ecuador según correspondan en el siguiente mapa. (0,75pts)**

OCÉANO PACÍFICO

COLOMBIA

PERÚ

7. **Selecciona las normas para una buena convivencia con los vecinos. (1.50pts)**

SALUDAR

DECIR POR FAVOR

DAR LAS GRACIAS

GRITAR

BOTAR BASURA EN LA CALLE

8. **Une con líneas las personas del barrio con las herramientas que utilizan para realizar su oficio. (1,50pts)**

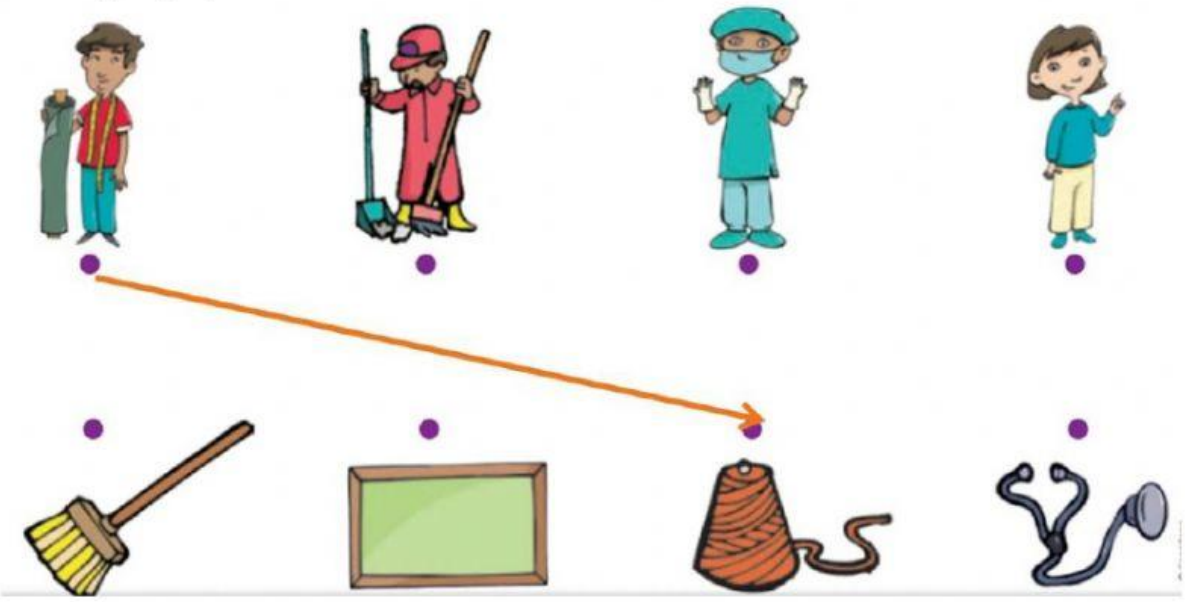

LIVEWORKSHEETS