ATIVIDADE DE MATEMÁTICA

Triângulos e suas Classificações

5º ANO

1. Arraste para os espaços em branco os nomes dos triângulos que se adequa a cada situação.

acutângulo | escaleno | equilátero | obtusângulo | retângulo | isósceles

a) O triângulo _____ possui três ângulos internos menores que 90º.

b) O triângulo _____ possui dois lados com a mesma medida.

c) O triângulo _____ possui três lados com medidas diferentes.

d) O triângulo _____possui um ângulo interno igual a 90º.

e) O triângulo _____ possuiu três lados com medidas iguais.

f) O triângulo _____ possui um ângulo interno maior que 90º.

2. Sobre a classificação dos triângulos em relação aos seus lados, marque com um X a alternativa correta.

( ) triângulo escaleno
( ) triângulo equilátero
( ) triângulo isósceles

( ) triângulo isósceles
( ) triângulo equilátero
( ) triângulo escaleno

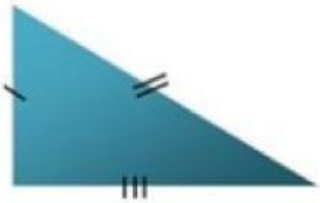

( ) triângulo escaleno
( ) triângulo isósceles
( ) triângulo equilátero

LIVEWORKSHEETS

3. E em relação a classificação dos ângulos internos dos triângulos, marque com um X a alternativa correta.

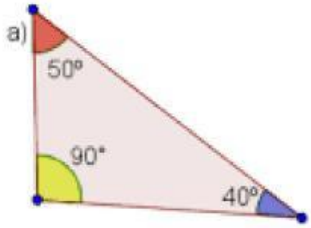

( ) triângulo acutângulo
( ) triângulo obtusângulo
( ) triângulo retângulo

( ) triângulo acutângulo
( ) triângulo obtusângulo
( ) triângulo retângulo

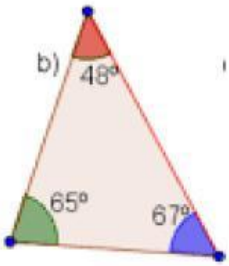

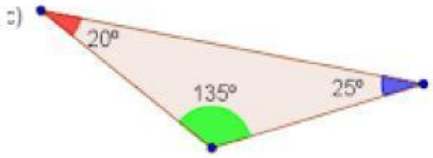

( ) triângulo acutângulo
( ) triângulo obtusângulo
( ) triângulo retângulo

4. Faça a correspondência entre os triângulos e suas classificações.

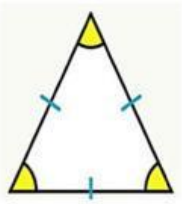

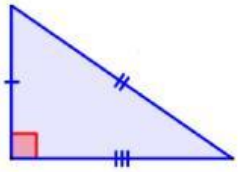

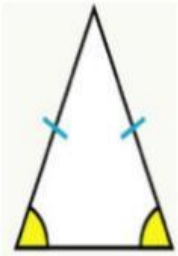

Escaleno e Obtusângulo

Isósceles e Acutângulo

Equilátero e Acutângulo

Escaleno e Retângulo

Isósceles e obtusângulo

Isósceles e Retângulo

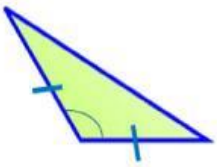

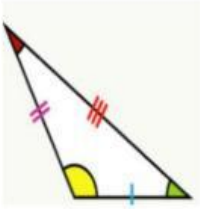

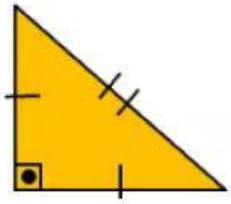

LIVEWORKSHEETS