MATEMATIKA ITU MENYENANGKAN

KELAS 1A

UPT SD NEGERI 238 GRESIK

LIVEWORKSHEETS

BANGUN DATAR

Macam-macam Bangun Datar

Bangun ini dinamakan SEGITIGA. Segitiga memiliki 3 sisi dan 3 titik sudut.

Bangun ini dinamakan PERSEGI. Persegi memiliki 4 sisi dan 4 titik sudut. Persegi memiliki panjang sisi yang sama panjang.,

Bangun ini dinamakan LINGKARAN.
Segitiga memiliki 3 sisi dan tidak memiliki titik sudut.



Bangun ini dinamakan PERSEGI PANJANG .
Persegi panjang memiliki 4 sisi dan 4 titik sudut. Persegi memiliki 2 pasang sisi yang disebut panjang dan lebar.

Lihatlah video berikut ini!

LIVEWORKSHEETS

MENGENAL BANGUN DATAR



Yuk lingkari gambar yang berbentuk segitiga:

LIVEWORKSHEETS

Name: _____

PASANGKAN BANGUN DATAR

Hubungkan titik di sebelah kiri dengan sebelah kanan sesua dengan bangun datar yang benar!

Persegi panjang •

Persegi •

Lingkaran •

Segilima •

Segitiga •

LIVEWORKSHEETS

Geometri : Bangun Datar

Perhatikan gambar bangun datar dibawah ini. Pilihlah nama bangun datar beserta jumlah sisinya

Nama .....

Jumlah sisi .....

Nama .....

Jumlah sisi .....

Nama .....

Jumlah sisi .....

Nama .....

Jumlah sisi .....

Nama .....

Jumlah sisi .....

Nama .....

Jumlah sisi .....

Nama .....

Jumlah sisi .....



Nama .....

Jumlah sisi .....

Nama .....

Jumlah sisi .....

LIVEWORKSHEETS

Nama :

Kelas : .....

Bangun Datar

Pilihlah nama bangun sesuai nomor yang diberikan.

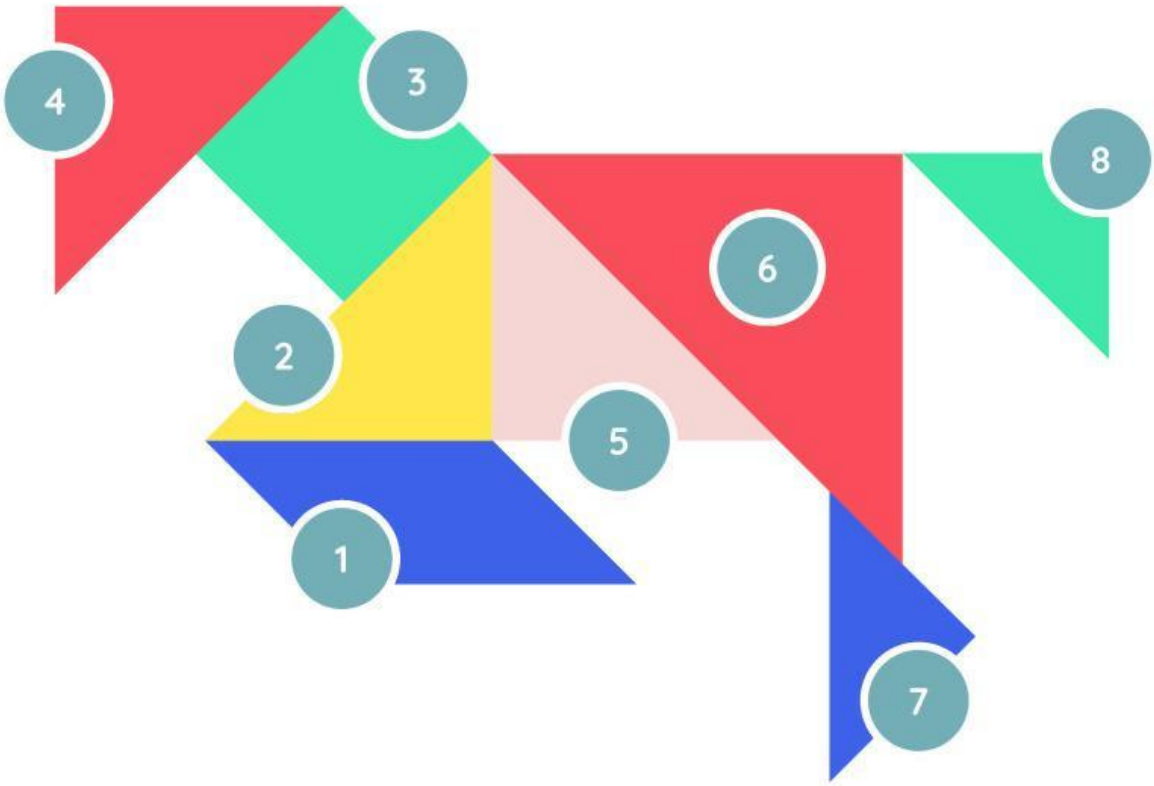

1 .....

2 .....

3 .....

4 .....

5 .....

6 .....

7 .....

8 .....

LIVEWORKSHEETS