Họ và tên: …….. Thứ ……ngày …. tháng…. năm 20....

Lớp: 1A….. **PHIẾU ÔN TẬP VIOLYMPIC TOÁN – VÒNG 9 (1)**

Bài 1: Sắp xếp các ô theo thứ tự giá trị tăng dần.

11	$4+3+2$
$6-4$	Ba mươi
$3+2$	$4+5-8$
4 chục	1 chục 4 đơn vị
$5+2$	22

1	6
2	7
3	8
4	9
5	10

Bài 2: Chọn đáp án đúng.

Câu 1: Số gồm 7 chục và 8 đơn vị là :

70	78	77	87

Câu 2: Kết quả của phép tính 5 + 5 – 3 là:

7	8	9	10

Câu 3: Bạn hãy giúp chú gấu tìm đúng số của mình.

86	69
36	66

Câu 4: Chọn đáp án thích hợp để điền vào chỗ chấm.

$7+3<\cdots$

6	10
8	12

LIVEWORKSHEETS

Câu 5: Số nào dưới đây có chữ số hàng đơn vị là 9 ?

97	79	90	96

Câu 6: Số nào là số tròn chục trong các số dưới đây?

05	60	65	72

Câu 7: Số sau đây có cách đọc là:

Chín tám	Chín mươi tám
Tám mươi chín	Tám chín

Câu 8: Trong 3 bạn, bạn nào thấp nhất?

Bạn Bảo	Bạn Vinh
Bạn An	Ba bạn cao bằng nhau.

Câu 9: Từ mảnh bìa như hình vẽ bên, không thể gấp lại thành khối lập phương nào sau đây?

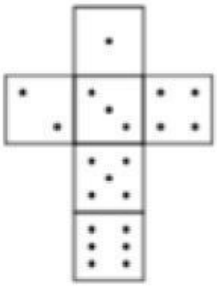

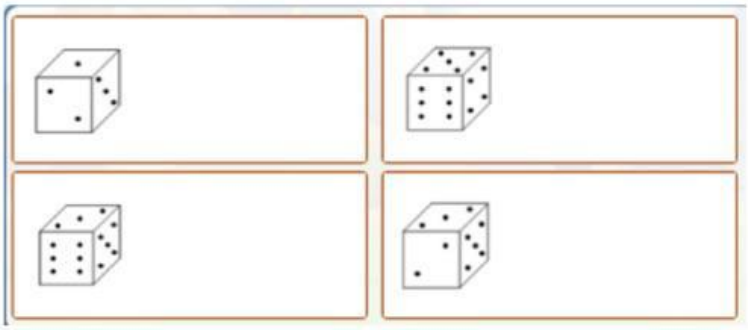

Câu 10 : Năm bạn nhỏ A, B, C, D, E đứng xếp hàng để soát vé. B đứng số 1, E đứng chính giữa, D đứng giữa E và C. Hỏi bạn D đứng ở vị trí nào?

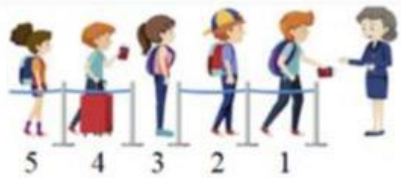

Vị trí 5	Vị trí 4
Vị trí 3	Vị trí 2

LIVEWORKSHEETS

Bài 3: Điền vào chỗ chấm cho thích hợp.

Câu 1:

$$4 + 4 = 3 + \cdots$$

Số thích hợp điền vào chỗ chấm là:.....

Câu 2: Số lớn nhất có hai chữ số là: .....

Câu 3:

Số thích hợp điền vào dấu hỏi chấm là:.....

Câu 4:



Số thích hợp điền vào dấu hỏi chấm là:.....

Câu 5 : Có bao nhiêu số tròn chục lớn hơn 12 và bé hơn 75 ?

Trà lời : Có ..... số.

Câu 6:

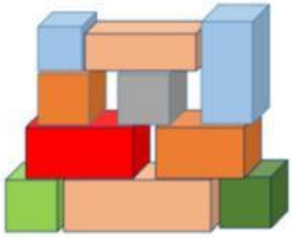

Trong hình vẽ bên, có ..... khối hộp chữ nhật màu đỏ.

Câu 7:

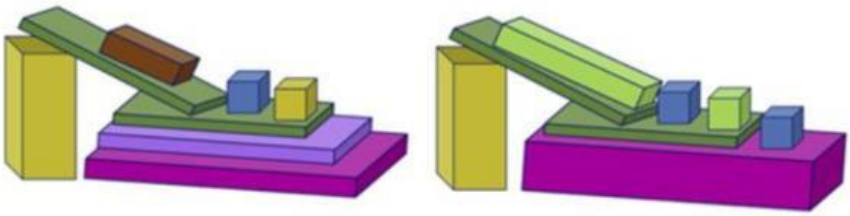

Hình vẽ trên có ..... khối lập phương.

LIVEWORKSHEETS

Câu 8: Điền từ (**khối hộp chữ nhật/ khối lập phương**) vào chỗ chấm.

Bạn Tuấn xếp các khối hộp chữ nhật và khối lập phương thành tháp theo quy luật dưới đây:

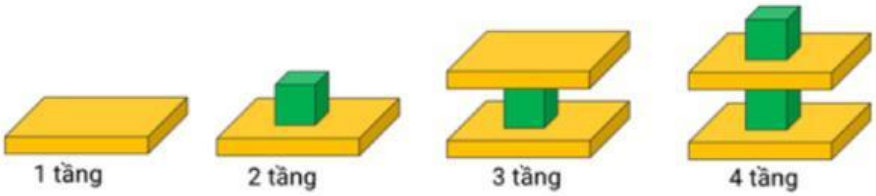

Vậy khối nằm trên cùng của tháp 9 tầng sẽ là .....

Câu 9 : Hùng có tổng cộng 9 viên bi, gồm 3 màu xanh, vàng và đỏ. Biết số viên bi mỗi màu là khác nhau. Số bi màu vàng là 4 viên. Số bi màu đỏ ít hơn số bi màu xanh. Hỏi Hùng có bao nhiêu viên bi đỏ?

Trả lời : Hùng có ..... viên bi đỏ.

Câu 10: Hải muốn tạo một hình tam giác lớn bằng cách sử dụng những hình tam giác nhỏ có cùng kích thước. Bạn ấy đã đặt một số hình tam giác nhỏ ở cạnh nhau và tạo ra hình dưới đây. Hỏi Hải cần thêm bao nhiêu hình tam giác nhỏ nữa để tạo ra một hình tam giác lớn? Điền số thích hợp vào chỗ chấm.

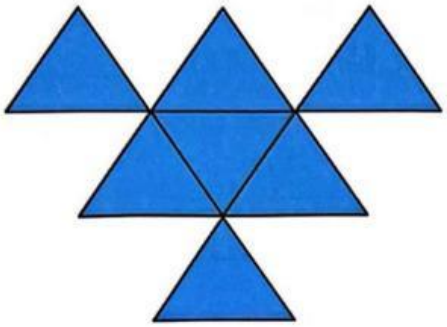

Trả lời : .....

LIVEWORKSHEETS