NHẬN BIẾT SỐ LƯỢNG ĐẾN 20

Câu 1: Điền vào chỗ chấm (M1)



Có tất cả …….. khối lập phương.

Câu 2: Điền vào chỗ chấm (M1)



Có tất cả …….. khối lập phương.

Câu 3: Điền vào chỗ chấm (M1)

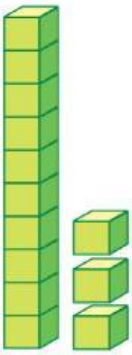

Có tất cả …….. khối lập phương.

LIVEWORKSHEETS

Câu 4: Điền vào chỗ chấm (M1)

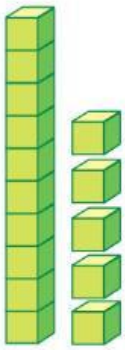

Có tất cả …….. khối lập phương.

Câu 5: Điền vào chỗ chấm (M1)

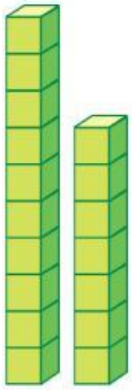

Có tất cả …….. khối lập phương.

Câu 6: Điền vào chỗ chấm (M1)

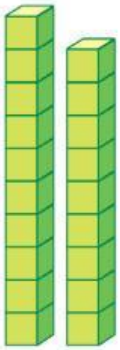

Có tất cả …….. khối lập phương.

LIVEWORKSHEETS

Câu 7: Điền vào chỗ chấm (M1)

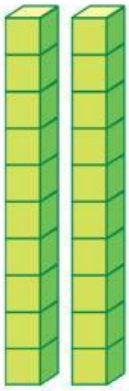

Có tất cả …….. khối lập phương.

Câu 8: Điền vào chỗ chấm (M1)



Có tất cả …….. khối lập phương.

Câu 9: Điền vào chỗ chấm (M1)

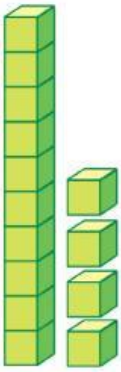

Có tất cả …….. khối lập phương.

LIVEWORKSHEETS

Câu 10: Điền vào chỗ chấm (M1)

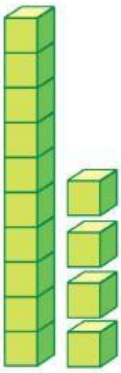

Có tất cả …….. khối lập phương.

Câu 11: Điền vào chỗ chấm (M1)

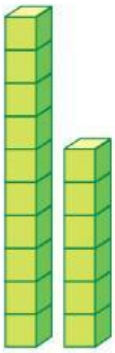

Có tất cả …….. khối lập phương.

Câu 12: Điền vào chỗ chấm (M1)

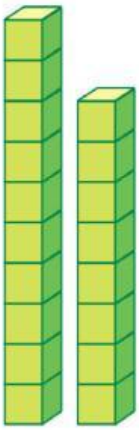

Có tất cả …….. khối lập phương.

LIVEWORKSHEETS

Câu 13: Số cần điền vào ? là (M1)

Câu 14: Số cần điền vào ? là (M1)

Câu 15: Số cần điền vào ? là (M1)

Câu 16: Số cần điền vào ? là (M1)



Câu 17: Số cần điền vào ? là (M1)

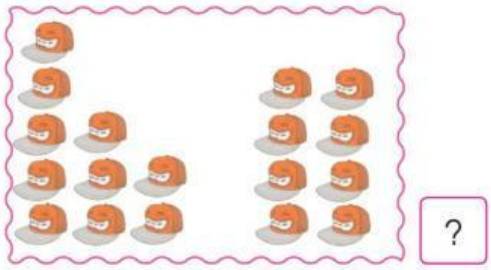

Câu 18: Số cần điền vào ? là (M1)

LIVEWORKSHEETS

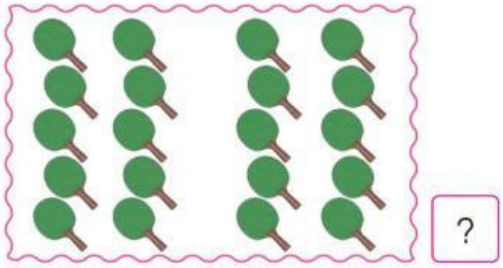

Câu 19: Số cần điền vào ? là (M1)

Câu 20: Số cần điền vào ? là (M1)



----------HẾT----------

LIVEWORKSHEETS