Test formatif

Materi : alat ukur jangka sorong

Kelas : X

Konsentrasi keahlian : TPFL

Pilihlah jawaban yang tepat !

1. ***Hasil pengukuran jangka sorong di bawah adalah ....***

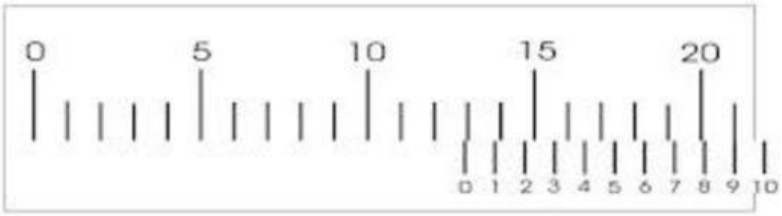

a)13,90 mm
b)13,70 mm
c)12,21 mm
d)12,90 mm

2. ***Hasil pengukuran dengan jangka sorong di bawah adalah ....***

a)3,50 mm
b)0,20 mm
c)0,32 mm
d)3,20 mm

3. ***Hasil pengukuran dengan jangka sorong di bawah adalah ....***

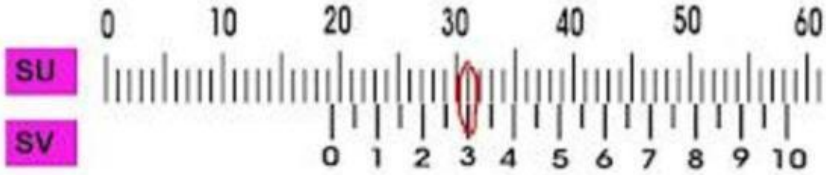

a)19,30 mm
b)18,30 mm
c)19,35 mm

LIVEWORKSHEETS

d)18,20 mm

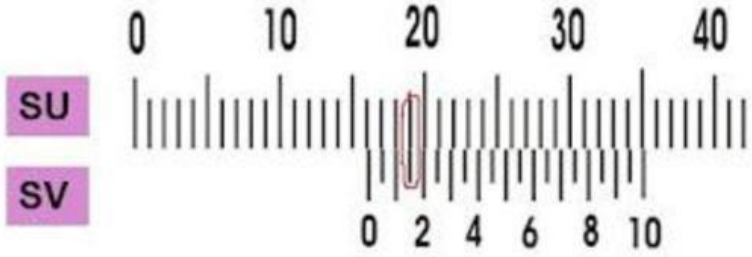

4. *Gambar diatas menunjukkan hasil pengukuran sebesar ....*

a)17.00
b)16.15
c)16.80
d)17.85

5. 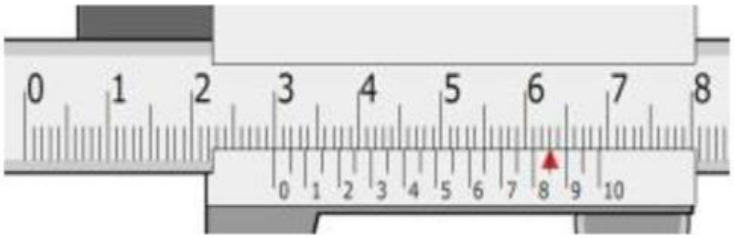

Hasil pengukuran dengan jangka sorong di atas adalah ....
a)29,85 mm
b)30,00 mm
c)30,15 mm
d)29,00 mm

6.

Hasil dari pengukuran dengan jangka sorong diatas adalah ....
a)13,04 mm
b)13,00 mm

c)15,00 mm
d)13,02 mm

LIVEWORKSHEETS

7. 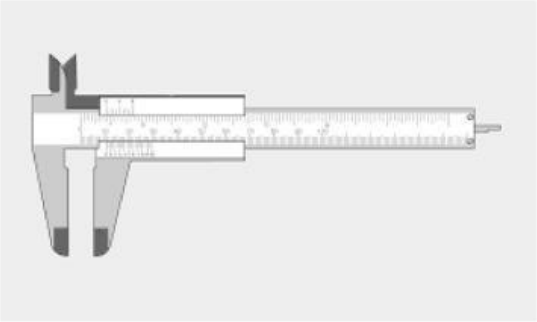

Alat ukur diatas dinamakan....

a)jangka sorong
b)dial bore gauge
c)dial indikator
d)mikrometer
e)feeler gauge

8. 

Hasil pengukuran dengan jangka sorong di atas adalah ....
a)35,50 mm
b)36,50 mm
c)35,60 mm
d)36,60 mm

9. 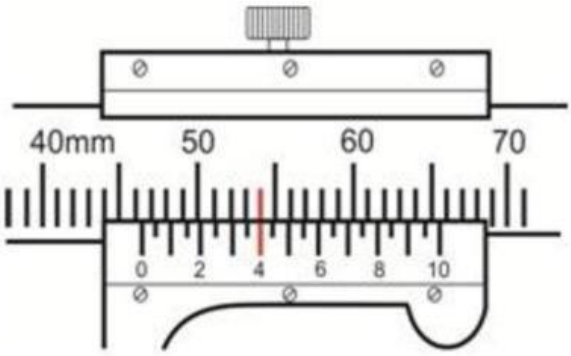

Gambar diatas menunjukkan hasil pengukuran dengan jangka sorong sebesar
a)46,20 mm
b)46,40 mm
c)46,10 mm
d)46,30 mm

10. *yang harus dilakukan setelah menggunakan jangka sorong adalah …*

a. Membiarkan jangka sorong kena debu

LIVEWORKSHEETS

b. Menyimpan jangka sorong dalam kondisi kotor

c. Membersihkan terlebih dahulu jangka sorong dari kotoran lalu menyimpannya

d. Dibersihkan dengan air keras

LIVEWORKSHEETS