4.- Ubique la letra en el casillero según corresponda: **(1 punto)**

	SIGLAS
A	CONAIE
B	FUT
C	FEUE
D	UNME

	ORGANIZACIONES SOCIALES
	Confederación de Nacionalidades Indígenas del Ecuador.
	Unión Nacional de Mujeres del Ecuador.
	Frente Unitario de los Trabajadores.
	Federación de Estudiantes Universitarios del Ecuador.

5.- Seleccione y escribe si es causa o consecuencia sobre el conflicto limítrofe de Perú con Ecuador: **(1 punto)**

	Desarrollo de Relaciones Internacionales.
	Recursos naturales.
	Espacio territorial.
	Firma del Tratado de Río de Janeiro.

6.- Enumere de manera ordenada las acciones que se debe seguir para una actividad económica que tienen lugar en una sociedad. **(0,90 puntos)**



7.- Complete el siguiente cuadro: **(1 punto)**

- Crecimiento económico significativo.
- Demanda Internacional.
- Inversión extranjera.
- Migración campesina.

AUGE BANANERO	
CAUSAS	CONSECUENCIAS

8.- Observe los siguientes gráficos que corresponde a las actividades económicas y escribe en el rotulado si pertenece al sector primario, secundario, terciario o cuaternario. **(1 punto)**









LIVEWORKSHEETS