OBLICZANIE JEDNEJ CZĘŚCI LICZBY

1 Ile gramów stanowi:

a) $\frac{1}{2}$ kilograma? b) $\frac{1}{5}$ kilograma? c) $\frac{1}{1000}$ kilograma?

2 W koszyku leżą 24 owoce. $\frac{1}{4}$ tych owoców – to gruszki, a pozostałe – jabłka. Ile gruszek i ile jabłek jest w koszyku?

3 W sadzie rosną 64 drzewa owocowe. Połowa z nich – to jabłonie, ósma część – grusze, a pozostałe – śliwy. Ile jabłoni, ile gruszy i ile śliw rośnie w sadzie?

jabłoni –

gruszy–



śliw–

4 Obwód trójkąta jest równy 48 cm. Długość jednego boku stanowi $\frac{1}{4}$ obwodu, a pozostałe boki są sobie równe. Oblicz długości wszystkich boków trójkąta.

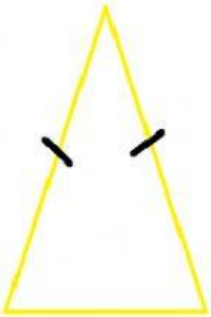

LIVEWORKSHEETS

5 Józek i Waldek łowili ryby. Razem złowili oni 12 ryb. Trzecia ich część – to okonie, czwarta część – płotki, a pozostałe – karasie. Szóstą część złowionych ryb otrzymał kot Mruczek, a pozostałą podzielili na połowę.

1) Ile okoni złowili chłopcy?

2) Ile płotek złowili chłopcy?



3) Ile złowili karasi?

4) Ile rybek otrzymał Mruczek?

5) Ile ryb otrzymał Józek i ile Waldek?

Józek–

Waldek –

LIVEWORKSHEETS