Kegiatan 2

Relasi dari himpunan A ke himpunan B ditunjukkan pada diagram panah

berikutA B

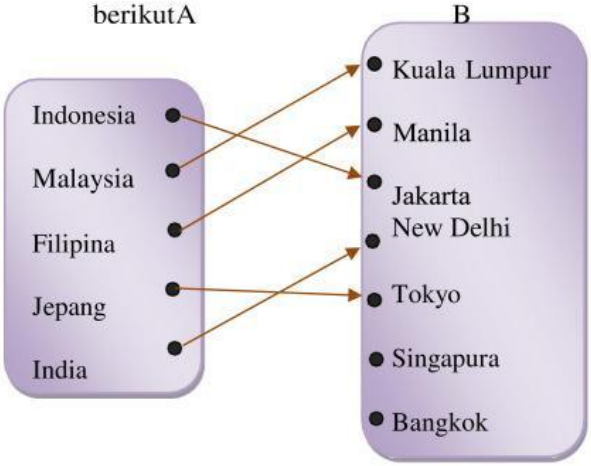

1. Nyatakan relasi dari A ke B dalam bentuk himpunan pasangan berurutan
2. Nyatakan relasi dari A ke B dalam bentuk diagram Cartesius

<u>Penyelesaian</u>

1.

LIVEWORKSHEETS

2.

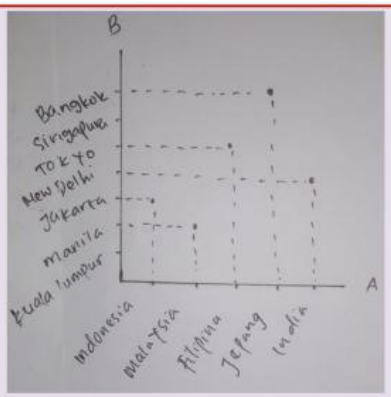

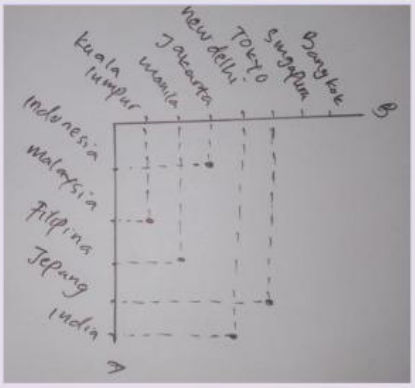

LIVEWORKSHEETS

LIVEWORKSHEETS