ชื่อ.....ชั้น.....เลขที่.....

แบบทดสอบเรื่องโครงสร้างของกรดนิวคลีอิก

คำชี้แจง: ให้นักเรียนเติมคำตอบให้ถูกต้อง

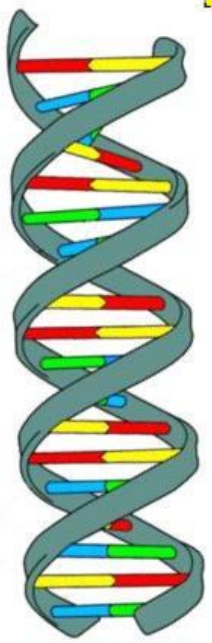

น้ำตาลเพนโทส (pentose sugar)

ไนโตรจีนัสเบส (nitrogenous base)

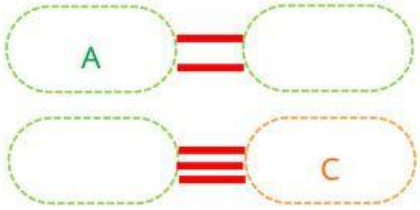

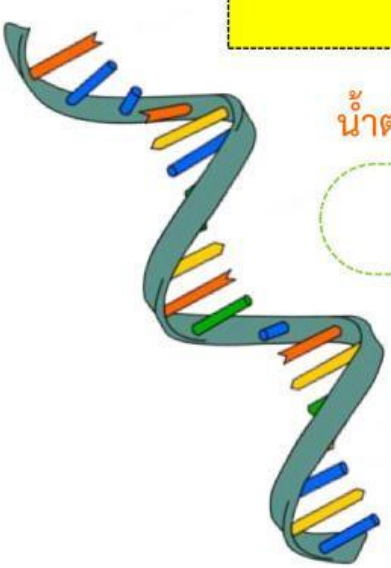

น้ำตาลเพนโทส (pentose sugar)

ไนโตรจีนัสเบส (nitrogenous base)

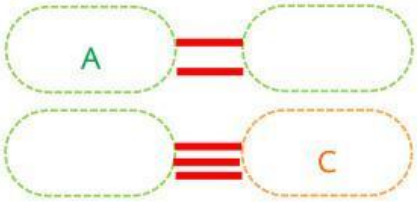

จงจับคู่ไนโตรจีนัสเบสของสาย DNA

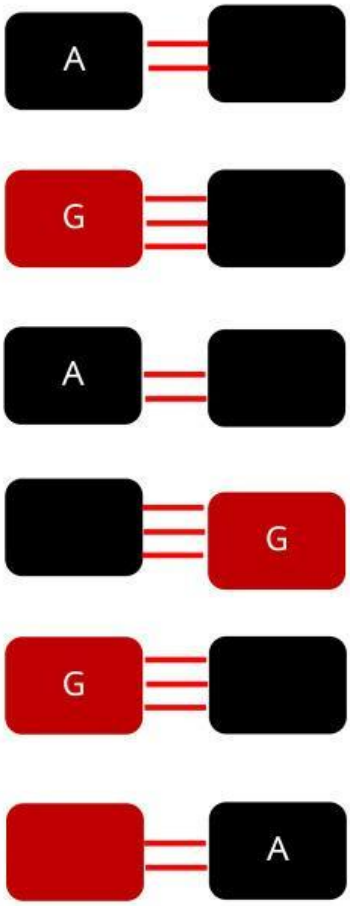

LIVEWORKSHEETS