Matemáticas divertidas

Figuras geométricas

1. COLOCA CADA FIGURA PLANA EN SU LUGAR



Trapecio	**Pentágono**	**Rombo**	**Círculo**	**Triángulo**	**Octágono**

2. ¿CUÁNTOS LADOS Y VÉRTICES TIENE CADA FIGURA?

lados

vértices

lados

vértices



lados

vértices

lados

vértices

lados

vértices

lados

vértices

LIVEWORKSHEETS

3. CUENTA Y ESCRIBE CUÁNTAS FIGURAS HAY DE CADA TIPO EN ESTE ROBOT

Círculos	
Triángulos	
Cuadrados	
Rectángulos	
Rombos	
Pentágonos	

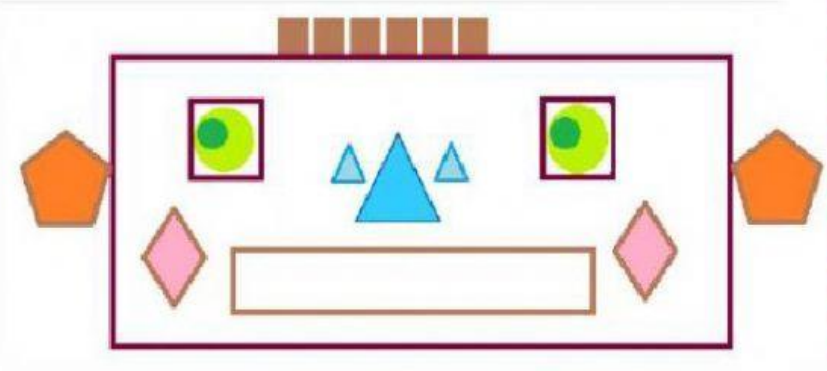

4. LOS NOMBRES DE LAS FIGURAS GEOMÉTRICAS DEPENDEN DE LA CANTIDAD DE LADOS. UNE CON FLECHAS EL NÚMERO DE LADOS CON LA FIGURA Y EL NOMBRE.

Número de lados	Figura	Nombre
8 lados		Hexágono
6 lados	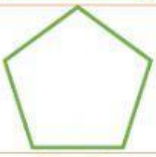	Octágono
3 lados		Pentágono
7 lados		Heptágono
10 lados	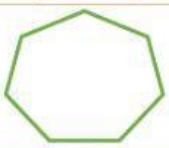	Triángulo
5 lados		Decágono

LIVEWORKSHEETS

5. CLASIFICA LOS CUADRILATEROS

6. COLOCA CADA PIEZA EN SU LUGAR Y ESCRIBE EL NOMBRE DE LA FIGURA QUE FORMASTE.



Miss. Laura

LIVEWORKSHEETS